TEMA 3: POBLACIÓN Y TRABAJO.

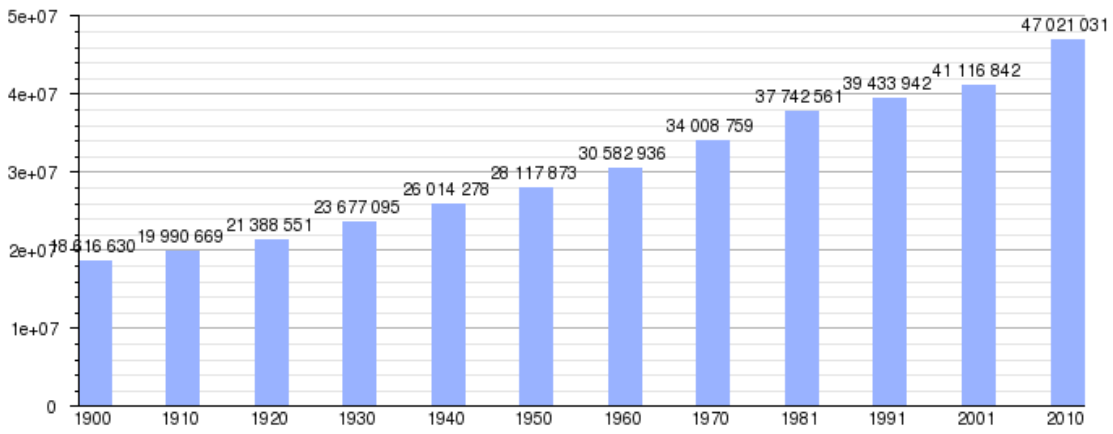

IMAGEN: Evolución del censo (total de habitantes) de España desde 1900 hasta 2010. Las causas principales del crecimiento de población son dos: la mejora de la sanidad (ya no se mueren tantos hijos como antes ni mueren tantos ancianos) y la llegada de inmigrantes.

GRÁFICAS:

COMPARA las pirámides de población a lo largo del tiempo:

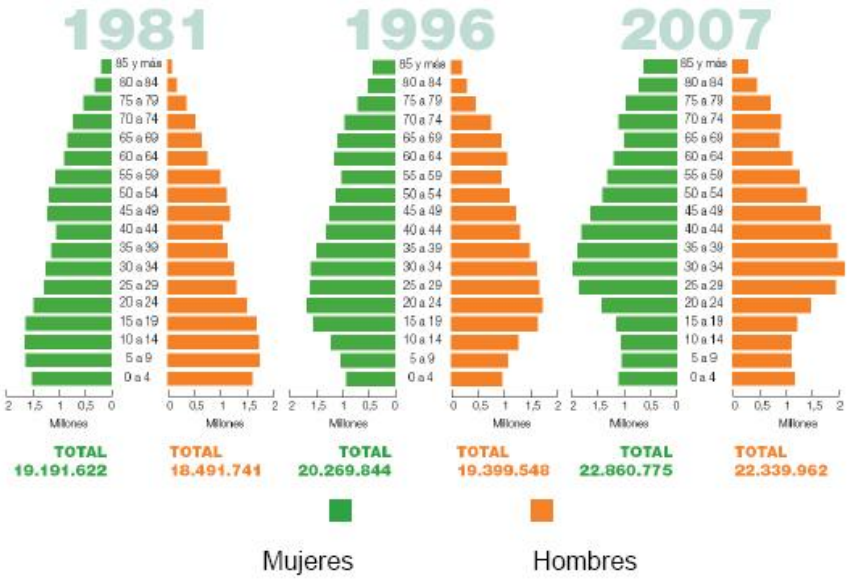

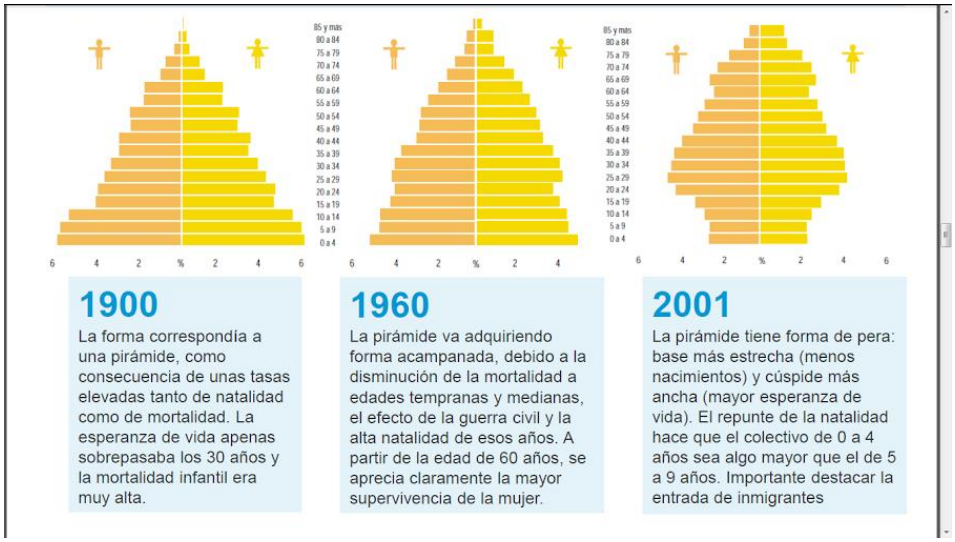

COMPÁRALAS TAMBIÉN CON OTROS PAÍSES:

BANGLA DESH 2000

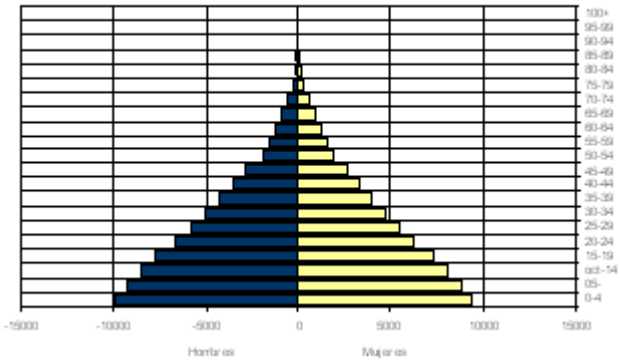

COMPARA LA VARIACIÓN DE POBLACIÓN EN ESPAÑA POR ZONAS.

COMPARA LA DENSIDAD DE POBLACIÓN EN DISTINTAS ZONAS DE ESPAÑA:

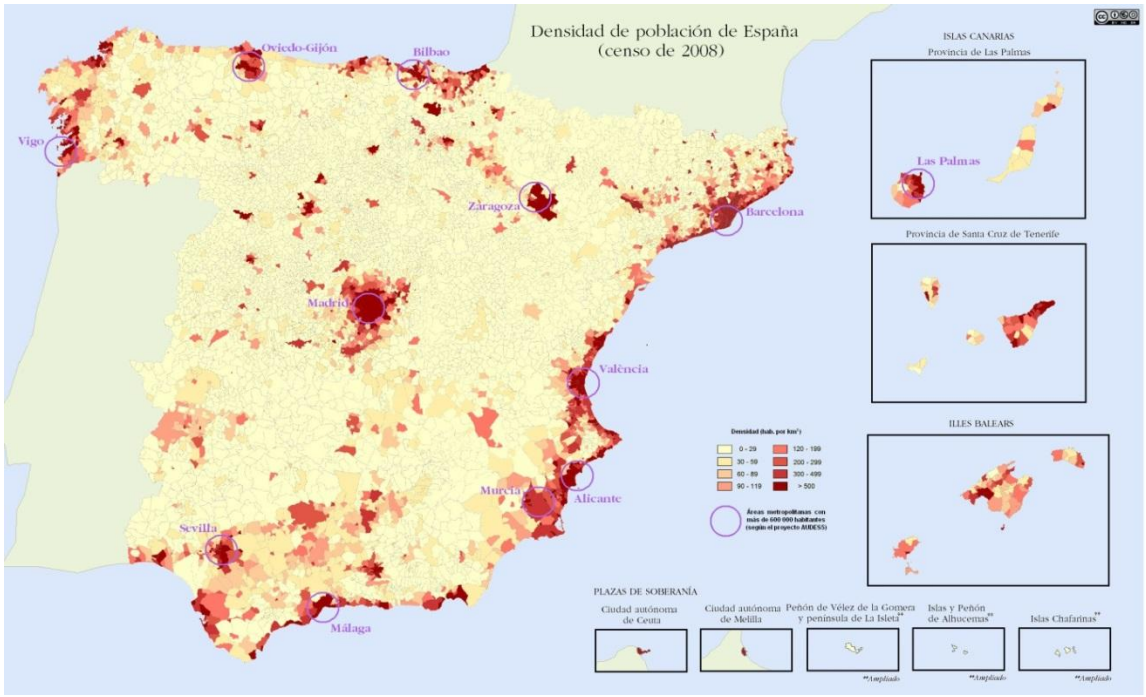

Las principales causas de migraciones internas se dieron en los años entre 1950 y 1970 y se debieron a la búsqueda de nuevas oportunidades de trabajo, ya que el sector económico basado en la agricultura se redujo y el sector servicios creció muchísimo.

B) DISTRIBUCIÓN EN SECTORES ECONÓMICOS en España:

- SECTORES ECONÓMICOS:
  Los sectores económicos también se llaman sectores de actividad o sectores de producción, se dividen en:

a) Sector primario:

El sector primario está formado por aquellas actividades y sus trabajadores que obtienen materias primas directamente de la naturaleza.

Sector primario en España:

- Agricultura:
  - ✓ Agricultura de secano: ocupa la mayor parte de las tierras de labor. Los productos más comunes son: los cereales, la vid y el olivo.
  - ✓ Agricultura de regadío: se cultivan arroz, algodón, hortalizas y frutas en Andalucía, Comunidad Valenciana y Murcia.
  - ✓ Agricultura ecológica: actualmente se está implantando y no utiliza ningún tipo de fertilizantes ni plaguicidas para proteger el medio ambiente.
- Ganadería;
  - ✓ Ganadería porcina: proporciona carne y embutidos.
  - ✓ Ganadería avícola: proporciona carne y huevos.
  - ✓ Ganado bovino (vacas y toros): del que se obtiene carne y leche.
  - ✓ Ganado ovino y caprino (ovejas y cabras): de ellos se obtiene carne, leche y lana.
- Pesca:
  - ✓ Pesca de altura: se da en aguas alejadas de las costas. Entre las especies destacan el bacalao, el boquerón y la merluza.
  - ✓ Pesca de bajura: se realizan en aguas cercanas a la costa. Se pescan especies como el atún, la caballa, la sardina y diversos mariscos y crustáceos.
- Explotación foresta:
  - ✓ Explotación de la madera de los árboles para producir muebles, papel, corcho, entre otros.

b) Sector secundario:

Está formado por aquellas actividades y sus trabajadores que transforman la materia prima en productos elaborados.

En España, las principales industrias son:

- Industria de base: transforman las materias primas en productos elaborados para otras industrias. Destacan las industrias metalúrgicas y las químicas.
- Industrias de bienes de equipo: producen las herramientas y maquinarias que necesitan otras industrias.
- Industrias de bienes de consumo: son las que fabrican productos que las personas consumimos directamente. Destacan la industria alimentaria, la del mueble y la textil.
- La construcción: se realizan todo tipo de obras como carreteras, aeropuertos, edificios, entre otros.

c) Sector terciario:

Ocupa a las personas que no obtienen productos, sino que prestan servicios. Es en el que más personas trabajan.

- Comercio: actividad productiva en la que se venden y compran mercancías con el fin de obtener un beneficio.
- Transporte:
  - ✓ Transporte terrestre: es el más común para el transporte de personas y mercancías.
  - ✓ Transporte marítimo: se utiliza, fundamentalmente, para las mercancías pesadas y peligrosas.
  - ✓ Transporte aéreo: tiene cada vez más importancia en España. El avión es el medio más rápido y se usa fundamentalmente para el transporte de pasajeros.
- Turismo:
  - ✓ Turismo costero de sol y playa.
  - ✓ Turismo cultural.
  - ✓ Turismo de montaña.
  - ✓ Turismo rural.
  - ✓ Turismo ecológico o ecoturismo.

- PORCENTAJES en ESPAÑA:

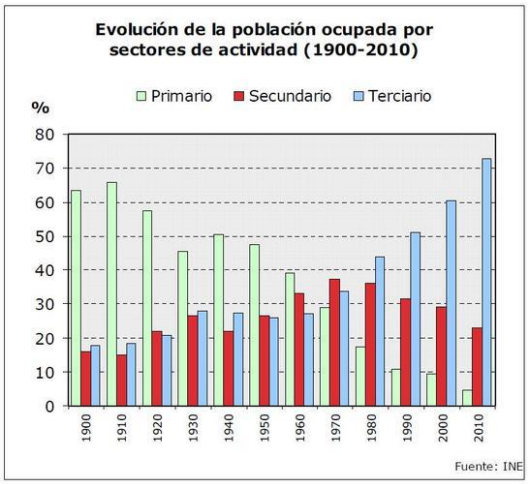

COMPARA LA DISTRIBUCIÓN DE LOS SECTORES ECONÓMICOS EN ESPAÑA CON OTROS PAÍSES.

Recuerda que no todo el mundo tiene trabajo:

En esta gráfica puedes ver la evolución del paro desde el año 1900.

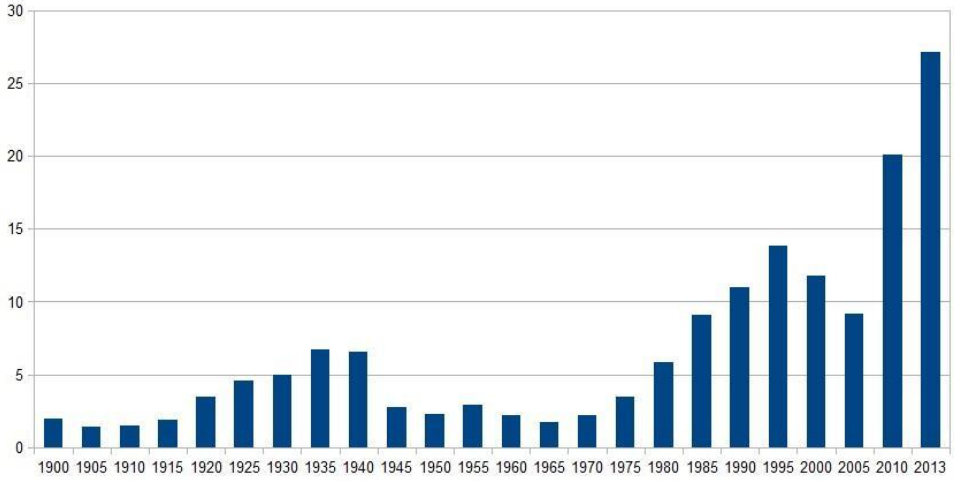

COMPARA EL DESEMPLEO EN ESPAÑA (en menores de 30 años) CON OTROS PAÍSES DE NUESTRO ENTORNO EUROPEO:

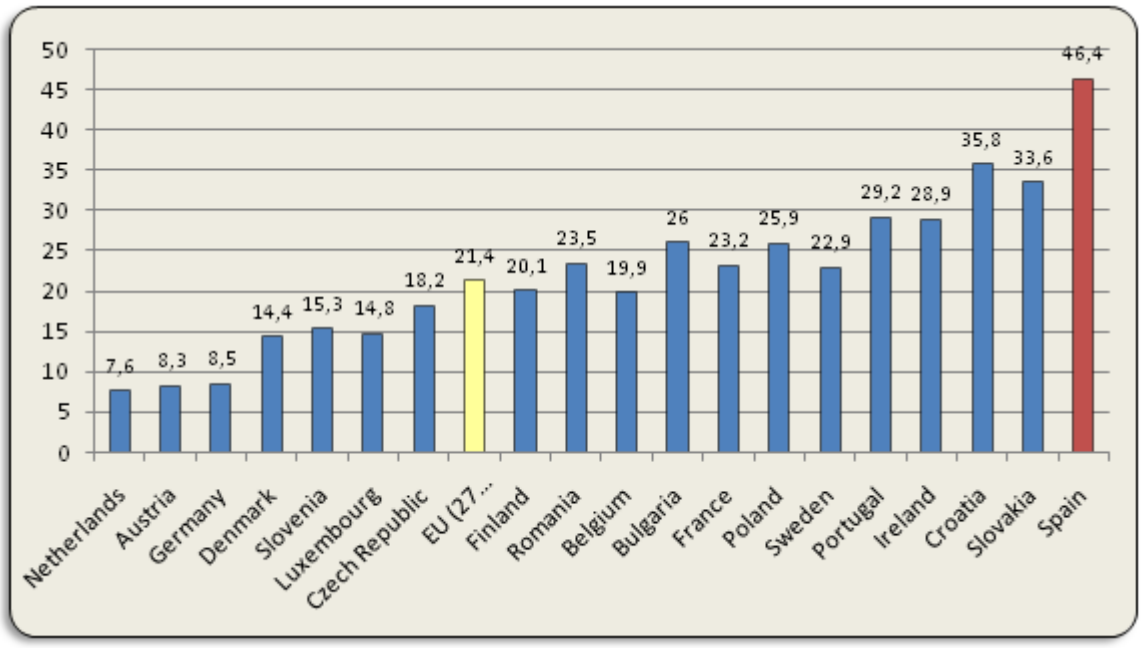

ACTIVIDADES:

TEXTO Nº1: MIGRACIONES.

Mirando la distribución, de los emigrantes, por país de acogida, se constata que Estados Unidos sigue siendo, como ya es tradicional, el principal país receptor de inmigrantes con cerca de 43 millones de inmigrantes legales computados hasta 2010 (a lo que hay que sumarle una cifra estimada en cerca de 10 millones de inmigrantes irregulares). A bastante distancia le siguen Rusia (12,3 millones), Alemania (10,8 millones), Arabia Saudí (7,3 millones), Canadá (7,2 millones), Francia (6,7 millones), Reino Unido (6,5 millones) y España (6,4 millones). En todos estos casos hay que sumar un porcentaje que va de un 5 a un 15 % de inmigrantes irregulares. En porcentaje de su población, la región que más ha recibido inmigrantes es Oceanía (16,8 %), seguido por América del Norte (14,2 %) y Europa (9,5 %). A mucha distancia se ubican África (1,9 %), Asia (1,3 %) y América Latina (1,3 %).

Dentro del total de migrantes internacionales también se considera a los refugiados, que en 2010 sumaban según Naciones Unidas 16,3 millones de personas, lo que representa un aumento respecto de la cifra de 2005 pero, a su vez, un claro descenso respecto de 1990, cuando se contabilizaron 18,5 millones de refugiados. En porcentaje de la población mundial esto implica un descenso desde 0,35 % en 1990 a 0,24 % en 2010.

A largo plazo, las disparidades del desarrollo demográfico de las diversas regiones del planeta serán de gran importancia para entender las presiones migratorias. A este respecto se observan ya hoy grandes disparidades, las que se verán significativamente aumentadas en las décadas venideras. Esto es particularmente notable e importante en lo que se refiera a la población en edad activa, elemento vital para el sustento de los niveles y sistemas de bienestar de los diversos países.

Comprensión:

a. Subraya las ideas principales del texto y realiza un resumen.
b. Los refugiados, ¿han aumentado o disminuido respecto a 2005? ¿y respecto a 1990?
c. ¿Cuál es el país Europeo mayor receptor de migrantes?
d. ¿Qué puede ocurrir en un país si pierde población activa por las migraciones?
e. ¿Cuántos inmigrantes legales o irregulares hay en Estados Unidos?

TEXTO 2: Resumen y comprensión lectora de este texto.

El número de personas con nacionalidad española que residen en el extranjero alcanza la cantidad de 1.931.248, según los datos del Padrón de españoles Residentes en el Extranjero (PERE) con fecha 1 de enero de 2013.

Esta cifra supone un incremento del 6,3% (114.413 personas) respecto a los datos a 1 de enero de 2012.

Por continente, el 62,9% de las personas inscritas tiene fijada su residencia en América, el 34,0% en Europa y el 3,0% en el resto del mundo.

Los mayores incrementos de respecto a los datos a 1 de enero de 2012 se registran en América (81.757 inscritos más) y Europa (28.441).

A. ¿Cuál es la idea principal de todo el texto?

B. ¿Cuáles son las ideas secundarias (o idea principal de cada párrafo)?

INTERPRETA: Interpreta la evolución de estas Pirámides de población: Comenta qué le pasa a los niños y jóvenes (hasta 29 años), a los adultos (30 a 59 años) y a las personas mayores (60 a 90 años).

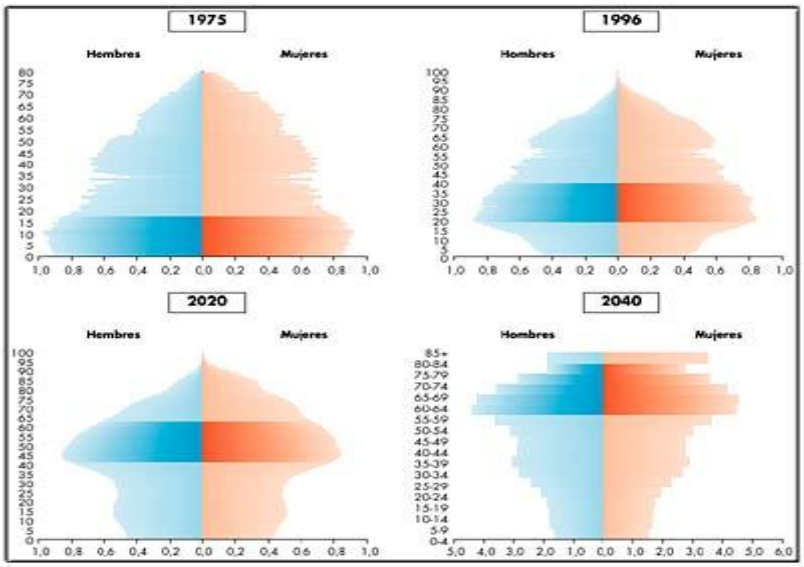

TEXTO 3: CRISIS ECONÓMICA MUNDIAL.

La ya conocida como "Crisis económica 2008-2014", o también denominada "Gran Recesión", es una crisis económica mundial que comenzó en el año 2008, y fue originada en los Estados Unidos. Entre los principales factores causantes de la crisis se encuentra la desregulación (falta de leyes) económica, los altos precios de las materias primas debido a una elevada inflación planetaria, la sobrevalorización (pagar mucho más de lo que realmente vale) del producto, la crisis alimentaria mundial, la crisis energética, y la amenaza de una recesión en todo el mundo, así como una crisis de los créditos que daban los bancos, de las hipotecas y de la confianza en los mercados.

La crisis iniciada en 2008 ha sido señalada por muchos especialistas internacionales como la «crisis de los países desarrollados», ya que sus consecuencias se observan fundamentalmente en los países más ricos del mundo.

La década de los años 2000 fue testigo del incremento de los precios de las materias primas tras su abaratamiento en el período anterior (1980-2000). Pero en 2008, el incremento de los precios de estas materias primas —particularmente, del precio del petróleo y de la comida— aumentó tanto que comenzó a causar verdaderos daños económicos, problemas sociales en los países que se encontraban en vías de desarrollo, estanflación (estancamiento económico más inflación constante) a nivel mundial y estancamiento del comercio global.

En enero de 2008, el precio del petróleo superó los 100 dólares por barril por primera vez en su historia y alcanzó los 150 dólares por barril en julio.

Comprensión:

a. ¿Qué periodo de años se considera como Gran Recesión?
b. Haz un esquema con los "factores causantes de la crisis".
c. ¿A qué países ha afectado especialmente la crisis?
d. ¿Qué pasó en el periodo 1980-2000?
e. ¿Cuánto subió el precio del petróleo en la primera mitad de 2008?
f. Realiza un resumen del texto.

Actividad nº2: Realiza un estudio de la población y escribe un listado de los conceptos importantes que aparecen (L.T. págs 48 a 56).

3º) Observa la gráfica de la evolución de la población española (1900-2013) de la pág. 48 del L.T. y responde a las preguntas que aparecen.

4º) L.T. pág. 48 actividades nº1 y 3.

5º) L.T. pág. 49 actividad nº 5

6º) L.T: pág. 50 nº 1, 2 y 3 y L. T. pág. 51 nº 4

7º) L.T. pág. 52 nº 1.

8º) L.T. pág. 53 nº 6.

9º) Realiza un esquema de las páginas 54 y 55 del libro de texto (L.T.) *"La población de Europa".*

10º) L.T. pág. 57 nº 3.

11º) Realizar esquema sobre los diferentes sectores de producción.

12º) PROBLEMA: Observa esta gráfica:

Población estimada en varios países europeos entre 1800 y 1910 (en millones)

	1800	1850	1900	1910	incremento 1800-1910 (1800=100)
Dinamarca	0,9	1,6	2,6	2,9	322
Finlandia	1,0	1,6	2,7	3,1	310
Noruega	0,9	1,5 (1)	2,2	2,4	267
Suecia	2,3	3,5	5,1	5,5	239
Bélgica	3,0	4,3 (2)	6,7	7,4	246
Holanda	2,2	3,1	5,1	5,9	268
Gran Bretaña	10,9	20,9	36,9	40,8	374
Irlanda	5,0	6,6	4,5	4,4	88
Francia	26,9	36,5	40,7	41,5	154
España	11,5	15,5 (3)	18,6	19,9	173
Portugal	3,1	4,2 (4)	5,4	6,0	194
Italia	18,1	23,9	33,9	36,2	200
Suiza	1,8	2,4	3,3	3,8	211
Alemania	24,5	31,7	50,6	58,5	239
Austria-Hungría	23,3	31,3	47,0	51,3	220
Rusia	—	—	59,0 (5)	112,0 (6)	—

(1) en 1755; (2) en 1845; (3) en 1857;
(4) en 1867; (5) en 1897; (6) en 1913.

Fuente: Armengaud, A., «La población europea, 1700-1914», en *Historia económica de Europa* (3). *La Revolución industrial*, Cipolla, C. M. (ed.), Barcelona, 1979, p. 30.

Foro-Hoy.com

¿Qué 4 países de Europa tenían más población que España en 1800?

13º) PROBLEMA: Si en España residen 5 millones y medio de extranjeros y fuera de España residen 2 millones de españoles. ¿Cuál es el total de españoles? ¿Es lo mismo el total de españoles que el total de habitantes de España?

14º) PROBLEMA: Si un territorio tiene 12 millones de Km^2 y tiene 18 millones de habitantes, ¿cuál es su densidad de población?

15º) PROBLEMA: En un país con 10 millones de habitantes, han nacido este año 20.000 niños. ¿Cuál es su tasa de natalidad?

16º) PROBLEMA: En ese mismo país mueren cada año 23.000 personas. ¿Cómo es su crecimiento natural?

17º) L.T. pág 60 actividades nº 1, 2 y 3.

18º) L.T. pág 62 Completar esquema.

19º) L.T. pág. 62 actv. nº 4