Nombre: .....

1. Belén tiene 50 cromos y su amiga Gloria tiene 30. ¿Cuántos cromos tienen entre las dos?

Datos *Operaciones* *Resultado*

Entre los dos tienen ..... cromos.

2. Entre dos amigos tienen 700 canicas. Si uno tiene 200, ¿cuántas canicas tiene el otro?

Datos *Operaciones* *Resultado*

El otro amigo tiene ..... canicas.

3. Pedro tiene 20 rotuladores, Juan tiene 10 y Eva tiene 30. ¿Cuántos rotuladores tienen entre los tres?

Datos *Operaciones* *Resultado*

Entre los tres amigos tienen ..... rotuladores.

4. En un árbol hay 28 ardillas y en otro diez menos. ¿Cuántas ardillas hay en el segundo árbol?

Datos *Operaciones* *Resultado*

En el segundo árbol hay

…….. ardillas.

5. En un corral hay 34 gallinas y en otro 11 menos. ¿Cuántas gallinas hay entre los dos corrales?

Datos *Operaciones* *Resultado*

En los dos corrales

hay …….. gallinas.



6. Marta tiene 85 céntimos y compra una bolsa de pipas de 35 céntimos. ¿Cuánto dinero le queda?

Datos *Operaciones* *Resultado*

Le queda

……..

Nombre: .....

1. Laura colecciona sellos. En un álbum tiene 412 sellos y en otro 536. ¿Cuántos sellos tiene en total?

Datos *Operaciones* *Resultado*

2. Nacho tenía 365 canicas. Si después de jugar le quedan 240 canicas. ¿Cuántas canicas ha perdido?

Datos *Operaciones* *Resultado*

Nacho ha perdido

.....

canicas.

3. En una pastelería se han hecho 190 tartas. Al final del día quedan 30. ¿Cuántas tartas se han vendido?

Datos *Operaciones* *Resultado*

Se han vendido

..... tartas.

4. Para comprar un balón, Julio ha puesto 15 euros y Álvaro dos euros menos que Julio. ¿Cuántos euros vale el balón?

Datos *Operaciones* *Resultado*

El balón cuesta

…….. euros.

5. Fátima tiene tres discos de música más que Sonia, que tiene 15. ¿Cuántos discos tienen entre las dos?

Datos *Operaciones* *Resultado*

Entre las dos

tienen

…….. discos.

6. Manuel mide 135 centímetros, pero le gustaría medir 189 centímetros. ¿Cuántos centímetros tiene que crecer?

Datos *Operaciones* *Resultado*

Tiene que crecer …….... cm.

Nombre: .....

1. Un camión transporta 25 caballos en cada viaje. ¿Cuántos caballos transportará en tres viajes?

Datos *Operaciones* *Resultado*

Transportará ..... caballos.

2. En una caja caben 15 botellas. ¿Cuántas botellas caben en cuatro cajas?

Datos *Operaciones* *Resultado*

En cuatro cajas hay ..... botellas.

3. Enrique tiene 80 céntimos y compra una bolsa de pipas de 35 céntimos. ¿Cuánto dinero le queda?

Datos *Operaciones* *Resultado*

Le queda ..... céntimos.

4. En una bolsa grande entran 25 canicas y en una pequeña 15 canicas. ¿Cuántas canicas tiene Ernesto que ha comprado dos bolsas grandes y una pequeña?

Datos *Operaciones* *Resultado*

5. Andrea tenía 50 céntimos y ha comprado dos chicles de 20 céntimos cada uno. ¿Cuánto dinero le queda?

Datos *Operaciones* *Resultado*

A Andrea le quedan

…….. céntimos.

6. En un aparcamiento había 155 vehículos. Durante la última hora han entrado 34 coches y han salido 18 coches. ¿Cuántos vehículos quedan en el aparcamiento?

Datos *Operaciones* *Resultado*

Quedan en

el aparcamiento

…….. vehículos.

Nombre: .....

1. Marta tiene 90 céntimos. Compra un bolígrafo de 48 céntimos y un sacapuntas de 35 céntimos. ¿Cuánto dinero le queda?

Datos *Operaciones* *Resultado*

A Marta le quedan

..... céntimos.



2. Pedro tiene un euro. Se gasta 60 céntimos en una bolsa de patatas y después se encuentra con una moneda de 20 céntimos. ¿Cuánto dinero tiene ahora?

Datos *Operaciones* *Resultado*

Pedro tiene

..... céntimos.

3. Amaya tiene 72 cromos más que María. Si María tiene 314 cromos, ¿cuántos cromos tienen entre las dos?

Datos *Operaciones* *Resultado*

Tienen

..... cromos.

4. Iñigo tiene 6 monedas de 10 céntimos y 8 monedas de 2 céntimos. ¿Pueden pagar un paquete de chicles que vale 85 céntimos?

Datos *Operaciones* *Resultado*

…… puede pagar los chicles.

5. Rosa pesa 12 kilos menos que Óscar. Óscar pesa 48 kilos. ¿Cuánto pesan entre los dos?

Datos *Operaciones* *Resultado*

Entre los dos pesan …… kilos.

6. Alberto tiene 12 euros, Carlos 8 euros más que Alberto y 7 euros menos que César. ¿Cuántos euros tiene Carlos? ¿Y César?

Datos *Operaciones* *Resultado*

Carlos tiene …… euros y César ….. euros.

Nombre: .....

1. María compró un balón por diez euros, una raqueta por seis euros y una camiseta por veinticuatro euros. ¿Cuánto tuvo que pagar?

Datos *Operaciones* *Resultado*

2. Un collar tiene 40 perlas; 14 son rojas, 13 azules y el resto amarillas. ¿Cuántas perlas amarillas tiene el collar?

Datos *Operaciones* *Resultado*

Hay …… perlas amarillas.

3. En una caja había 30 naranjas. ¿Cuántas naranjas quedan si cinco chicos se han comido dos naranjas cada uno?

Datos *Operaciones* *Resultado*

Quedan en la caja …….. naranjas.

4. La diferencia entre dos números es 17; el mayor es 54. ¿Cuál es el menor?

Datos *Operaciones* *Resultado*

El número menor es el .....

5. En su monedero Héctor lleva 4 monedas de 2 €, 3 monedas de 1 € y 6 monedas de 50 céntimos. ¿Cuánto dinero tiene?

Datos *Operaciones* *Resultado*

Tiene .....

6. Iñigo tiene 5 € y 70 céntimos, y su hermana Begoña 30 céntimos más. ¿Cuánto dinero tienen entre los dos?

Datos *Operaciones* *Resultado*

Tienen entre los dos .....

Nombre: .....

1. Blanca lleva en su mochila trece lápices y el triple de rotuladores. ¿Cuántos rotuladores lleva?

Datos *Operaciones* *Resultado*

Ana lleva

……. rotuladores.

2. Ana compra 2 kg de naranjas y 5 kg de fresas. ¿Cuánto debe pagar por su compra?

Datos *Operaciones* *Resultado*

***Naranjas:* 4 euros el kg**

***Fresas:* 3 euros el kg**

3. Un ciclista tarda 12 minutos en dar una vuelta a un circuito. ¿Cuánto tarda en completar una carrera de 15 vueltas?

Datos *Operaciones* *Resultado*

El ciclista tarda

……. minutos.



4. Marta y su padre han ido a comprar folios de colores a la librería. Como estaban de oferta las cajas de 1 000 folios han decidido comprar 4 cajas. ¿Cuántos folios han comprado en total?

Datos *Operaciones* *Resultado*

Compraron

……. folios.

5. Andrea hace 4 viajes al día en autobús. Si un billete cuesta 75 céntimos, ¿cuánto gasta en 5 días? *Calcula primero lo que te gastas en un día.*

Datos *Operaciones* *Resultado*

6. Emilio compra un disco de música que le cuesta 8 € 45 céntimos y una flauta que le cuesta 31 € 35 céntimos. ¿Cuánto gasta en total?

Datos *Operaciones* *Resultado*

Gasta en total

……..

7. Pedro tiene 13 años menos que Marta, y Marta 11 años menos que Ramón. Si Ramón tiene 45 años, ¿cuántos años tiene Pedro?

Datos *Operaciones* *Resultado*

Pedro tiene

…….. años.

Nombre: .....

1. Pablo compró dos cajas de bombones. Cada caja contiene tres bombones y cada uno vale ochenta céntimos. ¿Cuánto pagó por los bombones?

Datos *Operaciones* *Resultado*

Pablo pagó

……. céntimos.

2. Ignacio está contento porque sabe que cada día su fortuna se duplica. Si el lunes tenía 10 euros. ¿Cuántos euros tendrá el sábado?

Datos y operaciones *Resultado*

lunes	*martes*	*miércoles*	*jueves*	*viernes*	*sábado*

Ignacio tendrá el

sábado ……. euros.

3. Los 46 niños y niñas de tercero salen de excursión. Ya han subido 28 al autocar. ¿Cuántos alumnos faltan por subir?

Datos *Operaciones* *Resultado*

4. El dueño de una frutería compró ayer 400 kg de melocotones. Esta mañana ha vendido 135 kg y esta tarde 85 kg. ¿Cuántos kilos le quedan al frutero?

Datos *Operaciones* *Resultado*

Le quedan ……. kilos.

5. Un museo ha recibido esta semana 1425 visitantes. ¿Cuánto dinero han recaudado si cada entrada cuesta 3 euros?

Datos *Operaciones* *Resultado*

Se han recaudado

……. euros.

6. Una obra de teatro comienza a las veintiuna horas. Su duración es de una hora y veinte minutos. El descanso dura veinticinco minutos. ¿A qué hora termina la función de teatro?

Datos *Operaciones* *Resultado*

La función termina

a las ……..

7. Pablo es 6 cm más alto que Carlota. Carlota es 10 cm más alta que Beatriz. Si Beatriz mide 162 cm, ¿Cuántos centímetros mide Pablo?

Datos *Operaciones* *Resultado*

Pablo mide

…….. centímetros.

Nombre: .....

1. Tres kilos de naranjas han costado 4 euros y 50 céntimos. ¿Cuánto cuesta un kilogramo de naranjas?

Datos *Operaciones* *Resultado*

Un kg. de naranjas cuesta

.....€ ..... céntimos.

2. Por la compra de un libro de terror de 17 € y un libro de aventuras de 19 euros, Carmen entregó un billete de 50 €. ¿Cuánto le devolvieron?

Datos *Operaciones* *Resultado*

3. Andrés medía en el mes de septiembre 1 m 38 cm, ahora mide 146 cm. ¿Cuántos centímetros ha crecido?

Datos *Operaciones* *Resultado*

4. Un tren sale de Madrid a las 16:35 h. y llega a su destino a las 17:55 h. ¿Cuánto tiempo dura el viaje?

Datos *Operaciones* *Resultado*

El viaje dura

.....

5. Un avión lleva en cada viaje 118 pasajeros. ¿Cuántos pasajeros podrá llevar en diez viajes?

Datos *Operaciones* *Resultado*

Podrá llevar

…… pasajeros.

6. Un paquete de cuatro yogures cuesta 96 céntimos. ¿Cuánto valen tres paquetes de yogures?

Datos *Operaciones* *Resultado*

7. Una barra de pan cuesta 40 céntimos. Ana compra dos barras y paga con una moneda de dos euros. ¿Cuánto dinero le devuelven?

Datos *Operaciones* *Resultado*

Le devuelven

…… céntimos.

8. ¿Cuánto litros de agua hay en 263 bidones de 5 litros cada uno?

Datos *Operaciones* *Resultado*

Hay ……..

litros de agua.

Nombre: .....

1. Emilio pasó dos semanas completas en un campamento (se incluyen los días de ida y vuelta). Si volvió el día 8 de agosto por la noche, ¿qué día salió?

Datos *Operaciones* *Resultado*

Salió el día

.....

2. María compra un helado de 95 céntimos y paga con una moneda de dos euros. ¿Cuánto le devuelven?

Datos *Operaciones* *Resultado*

Le devuelven

.....

3. Eduardo compra cinco piruletas. Paga con una moneda de un euro y le devuelven 20 céntimos. ¿Cuánto le ha costado cada piruleta?

Datos *Operaciones* *Resultado*

..... céntimos

cada piruleta.

4. Al salir de casa, el cuentakilómetros de un coche marca 7012 km. ¿Cuántos kilómetros marcará después de hacer un viaje de 479 km?

Datos *Operaciones* *Resultado*

Marcará

..... km.

5. En cada vagón de un tren, caben 125 pasajeros. Si el tren tiene 7 vagones, ¿cuántos pasajeros pueden viajar?

Datos *Operaciones* *Resultado*

Pueden viajar

..... viajeros.

6. Alberto reparte 345 gominolas en 8 bolsas. ¿Cuántas gominolas pondrá en cada bolsa?

Datos *Operaciones* *Resultado*

7. Paula tiene 10 caramelos y Cristina 20. ¿Cuántos caramelos tiene que darle Cristina a Paula para que las dos tengan la misma cantidad?

Datos *Operaciones* *Resultado*

Tiene que dar

..... caramelos.

Nombre: .....

1. Sara reparte una bolsa de 18 gominolas entre sus tres hijas. ¿Cuántas gominolas le tocan a cada una?

Datos *Operaciones* *Resultado*

Tres hijas

18 gominolas

a repartir

2. Roberto ha repartido una bolsa de bombones entre sus tres hermanos. A cada uno le ha tocado 5 bombones, ¿cuántos bombones había en la bolsa?

Datos *Operaciones* *Resultado*

3. En casa de Ana son cinco hermanos, y cada día le toca a uno poner la mesa. ¿Cuántas veces le toca a Ana poner la mesa en un mes de 30 días?

Datos *Operaciones* *Resultado*

Le toca poner la mesa ..... veces.



4. Doña María saca 100 euros del banco y se gasta 10 euros cada día. ¿Cuántos euros le quedan una semana después?

Datos *Operaciones* *Resultado*

Le quedan

..... euros.

5. La edad de Luis está comprendida entre 30 y 40 años. La cifra de las unidades es doble de la cifra de las decenas. ¿Qué edad tiene Luis?

Operaciones *Resultado*

32 33 34 35

36 37 38 39

El número es el…….

6. Pablo tiene 305 sellos más que Leo. Leo tiene 219 sellos menos que Rafa. Si Rafa tiene 600 sellos, ¿cuántos sellos tiene Leo? ¿Y Pablo?

Datos *Operaciones* *Resultado*

Leo: ……. sellos

Pablo: ……. sellos.

7. Elena pesa 29 kilos y Fernando siete kilos y medio menos. ¿Cuánto pesa Fernando?

Datos *Operaciones* *Resultado*

Fernando pesa

…….. kg y medio.

8. Tengo nueve años, mi padre 33 y mi abuela el doble de mi padre. ¿Cuántos años tenemos entre los tres?

Datos *Operaciones* *Resultado*

Entre los

tres tienen

…….. años.

Nombre: .....

1. En una panadería han hecho 2500 panes. Al final del día quedan 23. ¿Cuántos panes se han vendido?

Datos *Operaciones* *Resultado*

2. Para la biblioteca del colegio se compraron 125 libros de 7 € cada uno. ¿Cuál es el precio de la colección completa de libros?

Datos *Operaciones* *Resultado*

3. La directora del colegio ha comprado diez diccionarios de 20 € cada uno. Si los gastos de envío son 18 €, ¿a cuánto asciende la factura?

Datos *Operaciones* *Resultado*



4. Un jardinero ha cortado 328 rosas para hacer ramos de seis rosas cada uno. ¿Cuántos ramos puede hacer? ¿Cuántas rosas sobran?

Datos *Operaciones* *Resultado*

Puede hacer

..... ramos y

le sobran .... rosas.

5. Al repartir una cantidad de cromos entre seis niños, a cada uno le corresponden siete cromos y sobran tres. ¿Cuántos cromos se repartieron?

Datos *Operaciones* *Resultado*

6. Un tren de alta velocidad recorre 210 kilómetros por hora. ¿Cuál será el trayecto recorrido en tres horas?

Datos *Operaciones* *Resultado*

7. ¿Cuál es la carga de la furgoneta de un panadero que transporta 8 sacos de harina de 45 kg cada uno?

Datos *Operaciones* *Resultado*

La carga es de …….. kg.

8. Por 6 horas de trabajo, un fontanero presenta una factura de 210 euros. ¿A cómo cobra la hora el fontanero?

Datos *Operaciones* *Resultado*

El fontanero cobra la hora a ……. euros.

Nombre: .....

1. Un atleta ha recorrido 2900 metros dando cuatro vueltas a un circuito. ¿Cuántos metros ha recorrido en cada vuelta?

Datos *Operaciones* *Resultado*

Ha recorrido en cada vuelta ……. metros.

2. ¿Cuántas botellas de medio litro se pueden llenar con 5 litros de agua?

Datos *Operaciones* *Resultado*

3. Ana tiene en su monedero 8 monedas de 20 céntimos y compra una caja de pinturas que cuesta 1 € 40 céntimos. ¿Cuánto le sobra?

Datos *Operaciones* *Resultado*

4. Santiago tiene 20 euros y su primo Carlos 12. ¿Cuántos euros tiene que dar Santiago a Carlos para que los dos tengan la misma cantidad?

Datos *Operaciones* *Resultado*

Tiene que dar …….. euros.

5. Blanca recibe 9 cajas con 65 kiwis en cada caja. Si vende 300 kiwis, ¿cuántos kiwis le quedan?

Datos *Operaciones* *Resultado*

Le quedan

…….. kiwis.

6. Un cuaderno vale tres euros y un bolígrafo un euro menos. ¿Cuántos euros valen dos cuadernos y tres bolígrafos?

Datos *Operaciones* *Resultado*

7. Un carnicero compra una pieza de carne a 10 € el kilo y la vende a 13 € el kilo. ¿Qué beneficio obtiene con la venta de 45 kilos?

Datos *Operaciones* *Resultado*

8. Mario ahorra 8 euros al mes. ¿Cuánto habrá ahorrado al cabo de 2 años?

Datos *Operaciones* *Resultado*

Habrá ahorrado

al cabo

de 2 años

…..….. euros.