NOMBRE: FECHA : - -

ELRELOJ1.

EL RELOJ

¿Cómo se llaman estos tipos de relojes? Escribe el nombre de cada uno.



El reloj de agujas se dice que es

.....

El reloj de números se dice que es

.....

¿Cuál te gusta más?

¿Por qué?

¿Qué hora marca en el reloj que te gusta?

Cuenta de 5 en 5 hasta llegar a 60.

5 10 60

Hazlo ahora al revés.

60 55 5

Escribe dentro de las flechas las siguientes palabras:

Y MEDIA	MENOS CUARTO	Y CINCO	MENOS VEINTE
MENOS CINCO	Y VEINTICINCO	EN PUNTO	Y CUARTO
MENOS DIEZ	Y VEINTE	MENOS VEINTICINCO	Y DIEZ

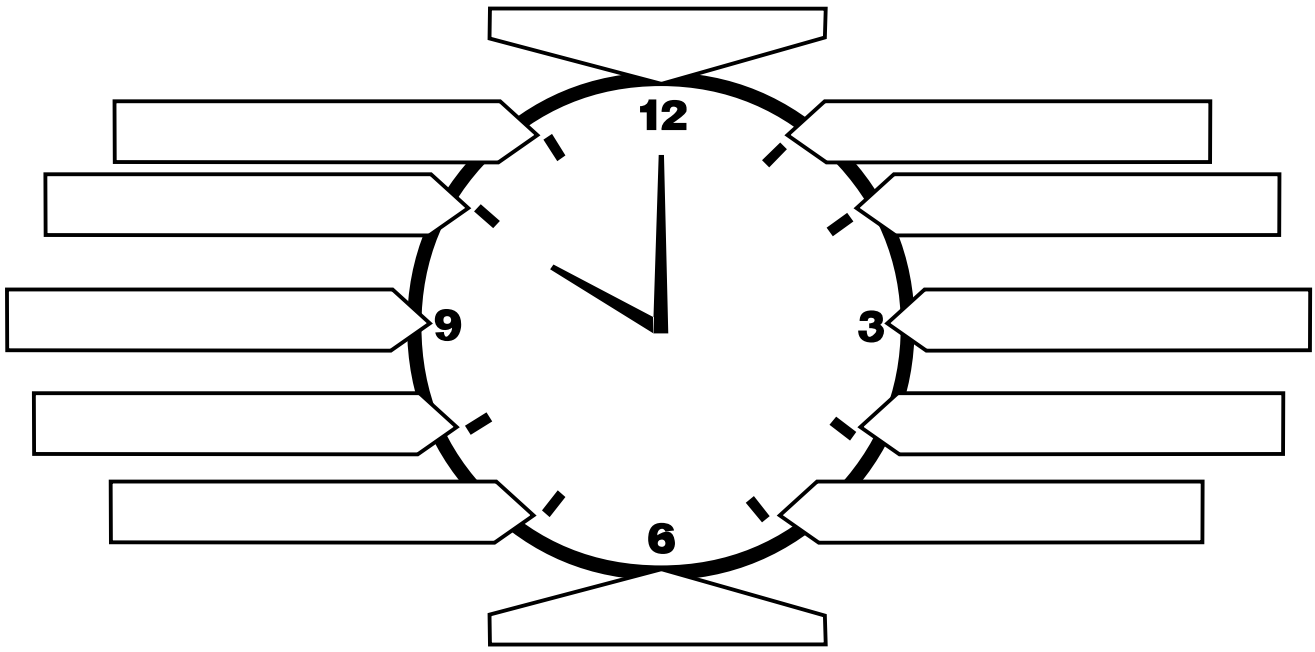

NOMBRE:	FECHA:	ELRELOJ2.

LAS HORAS Y LOS MINUTOS

Completa:

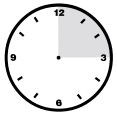
Un cuarto de hora = ... minutos.

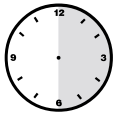
Media hora = ... minutos.

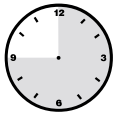
Tres cuartos de hora = ... minutos.

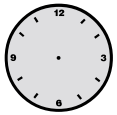
Una hora = ... minutos.

Escribe dos hechos que duren más de un minuto y dos hechos que duren menos de un minuto.

MÁS DE UN MINUTO

1 2

MENOS DE UN MINUTO

1 2

Escribe la hora que marcan los siguientes relojes:



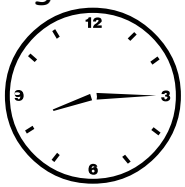




Dibuja las manecillas en cada reloj:

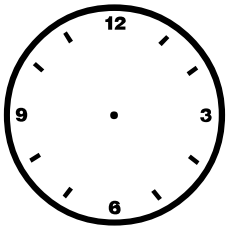
Las 4 y cuarto

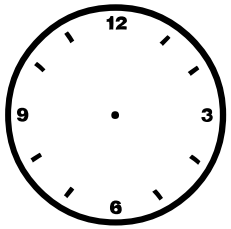
Las 12 y media

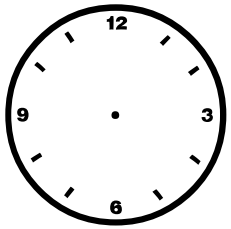
Las 9 en punto

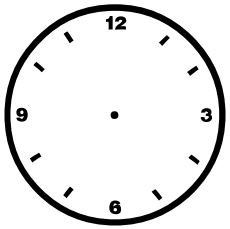
Las 8 y media

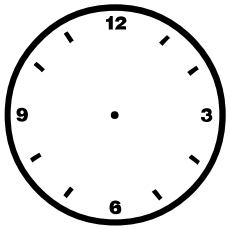
Las 7 menos cuarto

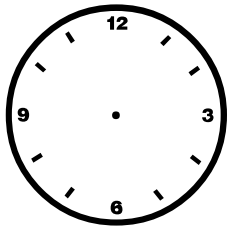
Las 10 y cuarto

NOMBRE: | FECHA: | ELRELOJ3.

¡ CUÁNTOS RELOJES !

Escribe con palabras la hora debajo de cada reloj o dibuja las manecillas según convenga :








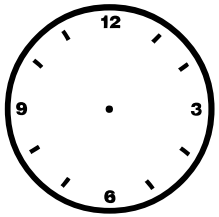
La 1 en punto

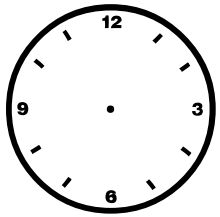
Las 2 menos cuarto

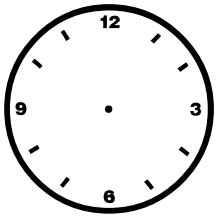
Las 10 menos 5

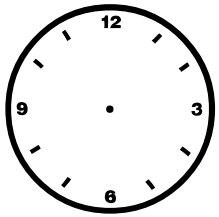
Las 5 y 10

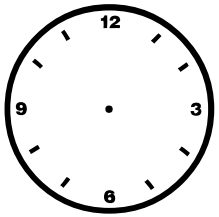
Las 12 menos 20

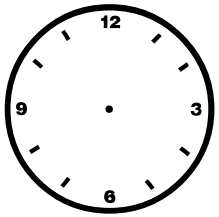
Las 8 y 20





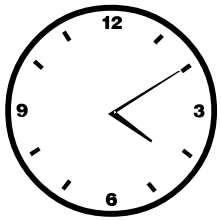



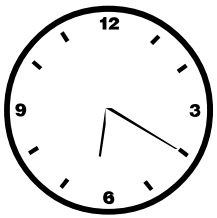



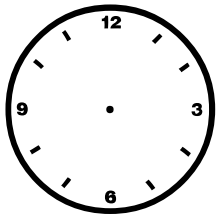
Las 2 y media

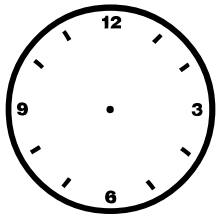
Las 12 y cuarto

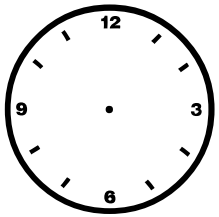
Las 7 menos 10

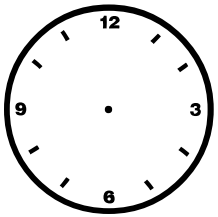
Las 3 y 25

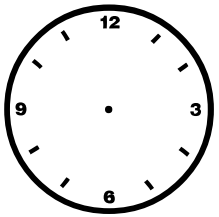
Las 9 menos 25

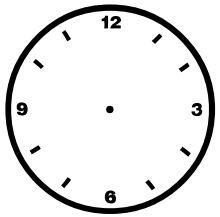
Las 11 y 5

NOMBRE:

FECHA : - -

ELRELOJ4.

EL RELOJ DIGITAL

Completa la tabla :

RELOJ DIGITAL	RELOJ ANALÓGICO
Las 13:00 horas	La una de la tarde.
Las 14:00 horas	.....
Las 15:00 horas	.....
Las 16:00 horas	.....
Las ..... horas	Las 5 de la tarde.
Las 18:00 horas	.....
Las ..... horas	Las 7 de la tarde.
Las 20:00 horas	.....
Las ..... horas	Las 9 de la noche.
Las 22:00 horas	.....
Las ..... horas	Las 11 de la noche.

Observa los siguientes relojes digitales e indica si es por la mañana, por la tarde o por la noche.

15:30 - - - - - - - - - - - - - -

7:00 - - - - - - - - - - - - - -

23:45 - - - - - - - - - - - - - -

11:45 - - - - - - - - - - - - - -

21:15 - - - - - - - - - - - - - -

17:00 - - - - - - - - - - - - - -

3:30 - - - - - - - - - - - - - -

Escribe en el reloj digital la hora aproximada que es ...

CUANDO TE DESPIERTAS

CUANDO ESTÁS EN EL RECREO

CUANDO MERIENDAS

CUANDO TE ACUESTAS

NOMBRE:

FECHA : - -

ELRELOJ5.

MÁS RELOJES

Indica cuánto tiempo ha pasado desde la hora de un reloj hasta la del otro:

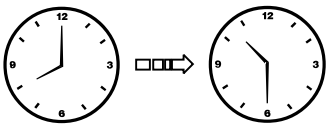

Dos horas y media.

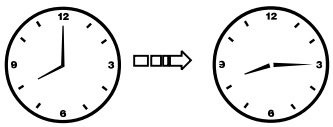

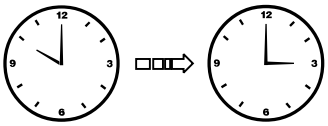

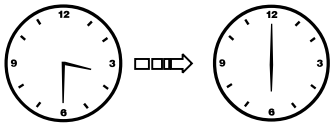

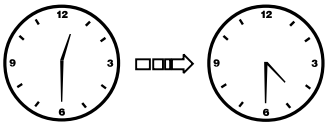

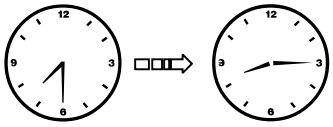

¿ Sabes cuántas horas estás en el colegio cada día ? ¡ Calcúlalas !

Por la mañana --> ..... horas.

Por la tarde --> ..... horas.

} TOTAL : ..... horas.

Sabiendo eso, calcula cuántas horas estás en el colegio en una semana.

L M M J V
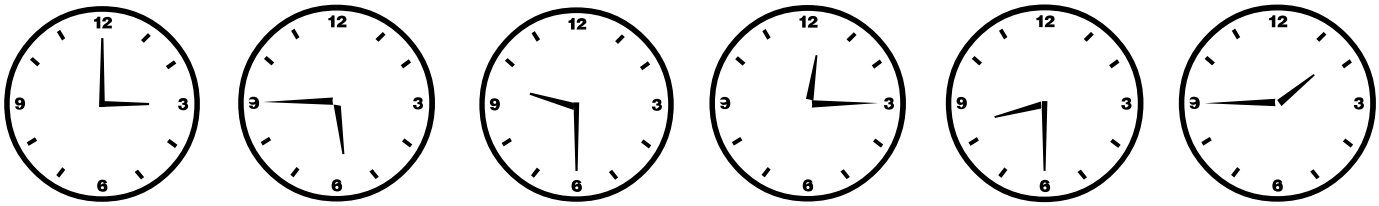
Une con flechas los relojes de arriba que tengan la misma hora que los de abajo.