Completa.

NÚMERO ANTERIOR	NÚMERO	NÚMERO POSTERIOR
	2 600	
1 888		
		3 020
	8 000	

Escribe el mayor y el menor número de 4 cifras que se pueden formar con estas cifras:

3 4 6 5

Número mayor → ☐ Número menor → ☐

Escribe con cifras y con letras los números representados.

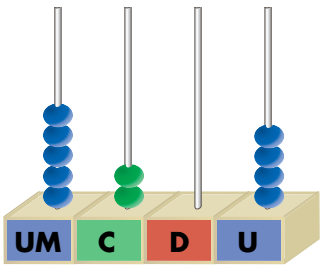

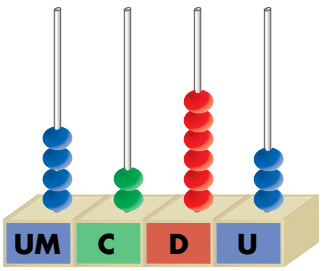

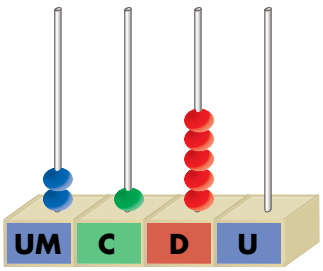

☐ → _____

_____

☐ → _____

_____

☐ → _____

_____

Completa.

NÚMERO ANTERIOR	NÚMERO	NÚMERO POSTERIOR
2599	2 600	2601
1 888	1889	1890
3018	3019	3 020
7999	8 000	8001

Escribe el mayor y el menor número de 4 cifras que se pueden formar con estas cifras:

3 4 6 5

Número mayor → 6543

Número menor → 3456

Escribe con cifras y con letras los números representados.

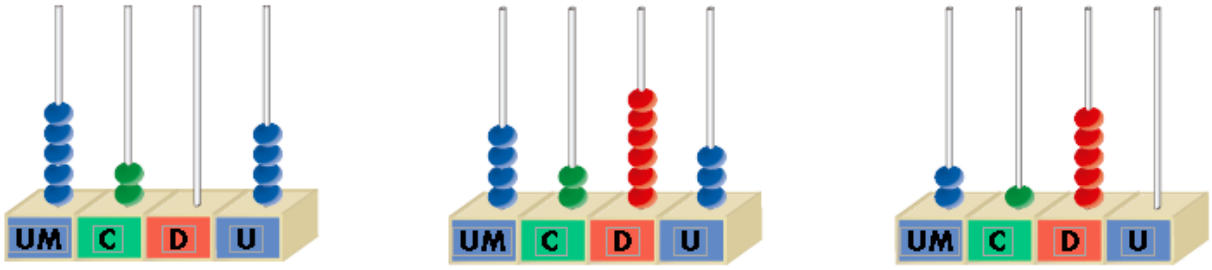

5204 → Cinco mil doscientos cuatro

4263 → Cuatro mil doscientos sesenta y tres

2150 → Dos mil ciento cincuenta

Descompón estos números como en el ejemplo:

5 342

5 UM + 3 C + 4 D + 2 U

5000 + 300 + 40 + 2

1 702

___ UM + ___ C + ___ D + ___ U

___ + ___ + ___ + ___

8 961

___ UM + ___ C + ___ D + ___ U

___ + ___ + ___ + ___

Escribe el número anterior y posterior a 1 000.

Número anterior → ___

Número posterior → ___

Completa con los signos >, < o =.

4 657	◯	4 000 + 600 + 50 + 7	6 432	◯	6 000 + 300 + 60 + 7
3 169	◯	3 691	2 974	◯	2 749
1 793	◯	7 931	7 034	◯	7 043
5 760	◯	5 706	1 569	◯	1 569

Descompón estos números como en el ejemplo:

5 342

5 UM + 3 C + 4 D + 2 U

5000 + 300 + 40 + 2

1 702

1 UM + 7 C + 0 D + 2 U

1000 + 700 + 0 + 2

8 961

8 UM + 9 C + 6 D + 1 U

8000 + 900 + 60 + 1

Escribe el número anterior y posterior a 1 000.

Número anterior → 999

Número posterior → 1001

Completa con los signos >, < o =.

4 657 = 4 000 + 600 + 50 + 7

3 169 < 3 691

1 793 < 7 931

5 760 > 5 706

6 432 > 6 000 + 300 + 60 + 7

2 974 > 2 749

7 034 < 7 043

1 569 = 1 569