	UNIVERSIDADES PÚBLICAS DE LA COMUNIDAD DE MADRID EVALUACIÓN PARA EL ACCESO A LAS ENSEÑANZAS UNIVERSITARIAS OFICIALES DE GRADO Curso **2020-21** **MATERIA: FÍSICA**	

INSTRUCCIONES GENERALES Y CALIFICACIÓN

Después de leer atentamente el examen, responda a cinco preguntas cualesquiera a elegir entre las diez que se proponen.

CALIFICACIÓN: Cada pregunta se valorará sobre 2 puntos (1 punto cada apartado).

TIEMPO: 90 minutos.

Pregunta A.1.- Una masa puntual de 50 g se encuentra situada en la posición (8, 0) m del plano *xy*. Calcule:

a) El potencial gravitatorio y el campo gravitatorio en el punto (0, 6) m del plano debido a dicha masa.

b) El trabajo realizado por el campo al trasladar un objeto puntual de 20 g desde el punto (0, 6) m hasta el origen de coordenadas.

Dato: Constante de Gravitación Universal, $G = 6{,}67\cdot10^{-11}$ N m^2 kg^{-2}.

Pregunta A.2.- Al explotar, un cohete de fuegos artificiales genera una onda sonora esférica con una potencia sonora de 20 mW. Un espectador oye la explosión 1,5 s después de verlo explotar. Calcule:

a) La distancia a la que está situado el espectador respecto al cohete en el momento de la explosión, así como la intensidad del sonido en la posición del espectador.

b) El nivel de intensidad sonora percibida si explotan 10 cohetes simultáneamente, y el espectador los oye todos al unísono 1,5 s después de explotar.

Datos: Velocidad del sonido en el aire, $v_s = 340$ m s^{-1}*; Valor umbral de la intensidad acústica,* $I_0 = 10^{-12}$ W m^{-2}.

Pregunta A.3.- Una carga puntual de 2 μC se encuentra situada en el origen de coordenadas.

a) Aplicando el teorema de Gauss, obtenga el flujo del campo eléctrico a través de una superficie esférica de 10 mm de diámetro centrada en el origen.

b) Utilizando el valor del flujo obtenido en el apartado anterior, calcule el módulo del campo eléctrico en puntos situados a 5 mm de la carga.

Dato: Permitividad eléctrica del vacío, $\varepsilon_0 = 8{,}85\cdot10^{-12}$ C^2 N^{-1} m^{-2}.

Pregunta A.4.- Un objeto vertical de 2 mm de altura se encuentra situado 15 cm a la izquierda de una lente convergente de 40 dioptrías. Calcule:

a) La posición y tamaño de la imagen que forma la lente.

b) La posición de una segunda lente convergente de 6 cm de distancia focal, situada a la derecha de la primera lente, para que el sistema óptico genere una imagen en el infinito.

Pregunta A.5.- Un material posee un sistema de tres niveles energéticos electrónicos (nivel fundamental, primer nivel, y segundo nivel). Para que un electrón pase desde el nivel fundamental al segundo nivel, el material absorbe radiación de 450 nm; tras lo cual el material emite radiación de 600 nm debido al decaimiento del primer nivel hasta el fundamental.

a) Determine las diferencias de energía entre el primer nivel y el nivel fundamental, y entre el segundo nivel y el nivel fundamental, expresadas en electrón-voltios.

b) Calcule la energía por unidad de tiempo que produce la emisión si el material emite $4\cdot10^{15}$ fotones s^{-1}.

Datos: Valor absoluto de la carga del electrón, $e = 1{,}6\cdot10^{-19}$ C*; Constante de Planck,* $h = 6{,}63\cdot10^{-34}$ J s; *Velocidad de la luz en el vacío,* $c = 3\cdot10^{8}$ m s^{-1}.

Pregunta B.1.- Una sonda espacial de 3500 kg se encuentra en órbita circular alrededor de Saturno, realizando una revolución cada 36 horas. Calcule:

a) La velocidad orbital y la energía mecánica que posee la sonda espacial.
b) La energía mínima necesaria que habría que suministrarle para que abandone el campo gravitatorio del planeta.

Datos: Constante de Gravitación Universal, $G = 6{,}67\cdot10^{-11}$ N m^2 kg^{-2}; *Masa de Saturno*, $M_s = 5{,}68\cdot10^{26}$ kg.

Pregunta B.2.- El valor del campo eléctrico asociado a una onda electromagnética que se propaga en un medio material en la dirección del eje *x* viene expresado por:

$$E(x,t) = 4\cos(3{,}43\cdot10^{15}t - 1{,}52\cdot10^{7}x) \text{ N C}^{-1},$$

donde todas las magnitudes están expresadas en unidades del SI. Calcule:

a) La frecuencia y la longitud de onda asociadas a la onda electromagnética.
b) La velocidad de propagación de la onda y el índice de refracción del medio por el cual se propaga.

Dato: Velocidad de la luz en el vacío, $c = 3\cdot10^{8}$ m s^{-1}.

Pregunta B.3.- Un hilo conductor rectilíneo indefinido situado a lo largo del eje *x* transporta una corriente de 25 A en sentido positivo del eje. Obtenga:

a) El campo magnético creado por el hilo en el punto (0, 5, 0) cm.
b) La fuerza magnética que experimenta un electrón cuando está en la posición (0, 5, 0) cm y tiene una velocidad de 1000 m s^{-1} en sentido positivo del eje *y*.

Datos: Valor absoluto de la carga del electrón, $e = 1{,}6\cdot10^{-19}$ C; *Permeabilidad magnética del vacío,* $\mu_0 = 4\pi\cdot10^{-7}$ T m A^{-1}.

Pregunta B.4.- Un rayo láser, que emite luz de longitud de onda de 488 nm en el vacío, incide desde el aire sobre la superficie plana de un material con un índice de refracción de 1,55. El rayo incidente y el reflejado forman entre sí un ángulo de 60º.

a) Determine la frecuencia y la longitud de onda del rayo luminoso en el aire y dentro del medio material.
b) Calcule el ángulo que formará el rayo refractado en el material con el rayo reflejado en el aire. ¿Existirá algún ángulo de incidencia para el cual el rayo láser sufra reflexión total? Justifique la respuesta.

Datos: Índice de refracción del aire, $n_{aire} = 1$; *Velocidad de la luz en el vacío,* $c = 3\cdot10^{8}$ m s^{-1}.

Pregunta B.5.- Un isótopo de una muestra radiactiva posee un periodo de semidesintegración de 5730 años.

a) Obtenga la vida media y la constante radiactiva del isótopo.
b) Si una muestra tiene $5\cdot10^{20}$ átomos radiactivos en el momento inicial, calcule la actividad inicial y el tiempo que debe trascurrir para que dicha actividad se reduzca a la décima parte.

CRITERIOS ESPECÍFICOS DE CORRECCIÓN

FÍSICA

* Las preguntas deben contestarse razonadamente, valorando en su resolución una adecuada estructuración y el rigor en su desarrollo.

* Se valorará positivamente la inclusión de pasos detallados, así como la realización de diagramas, dibujos y esquemas.

* En la corrección de las preguntas se tendrá en cuenta el proceso seguido en la resolución de las mismas, valorándose positivamente la identificación de los principios y leyes físicas involucradas.

* Se valorará la destreza en la obtención de resultados numéricos y el uso correcto de las unidades en el Sistema Internacional.

* Cada pregunta, debidamente justificada y razonada con la solución correcta, se calificará con un máximo de 2 puntos.

* En las preguntas que consten de varios apartados, la calificación máxima será la misma para cada uno de ellos (desglosada en múltiplos de 0,25 puntos).

FÍSICA
SOLUCIONES
(**Documento de trabajo Orientativo**)

Pregunta A.1.- Una masa puntual de 50 g se encuentra situada en la posición (8, 0) m del plano *xy*. Calcule:

a) El potencial gravitatorio y el campo gravitatorio en el punto (0, 6) m del plano debido a dicha masa.
b) El trabajo realizado por el campo al trasladar un objeto puntual de 20 g desde el punto (0, 6) m hasta el origen de coordenadas.

Dato: Constante de Gravitación Universal, $G = 6{,}67\cdot10^{-11}$ N m^2 kg^{-2}.

Solución:

a) En primer lugar calculamos la distancia *d* y el ángulo θ según la figura adjunta.

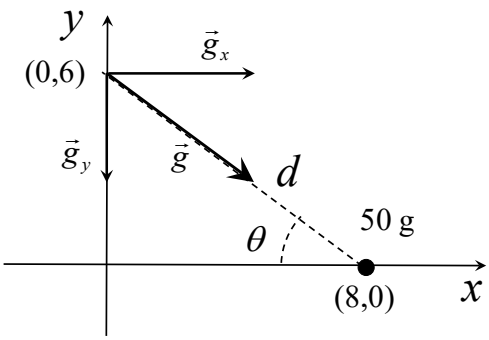

La distancia *d* es:

$$d = \sqrt{8^2 + 6^2} = 10 \text{ m}$$

En la figura, el ángulo θ se puede calcular como:

$$\tan\theta = \frac{6}{8}, \text{ de donde } \theta = 36{,}87^{\circ}$$

El potencial gravitatorio en el punto (0, 6) m es:

$$V_{grav} = -G\frac{M}{d} = -3{,}33\cdot10^{-13} \text{ J kg}^{-1}$$

Por otro lado, el módulo del campo gravitatorio será:

$$|\vec{g}| = G\frac{M}{d^2} = 3{,}33\cdot10^{-14} \text{ N kg}^{-1}$$

En función de sus componentes cartesianas el campo queda expresado como:

$$\vec{g} = g\cos\theta\vec{i} - g\sin\theta\vec{j} = (2{,}67\cdot10^{-14}\ \vec{i} - 2{,}00\cdot10^{-14}\ \vec{j}) \text{ N kg}^{-1}$$

b) Para calcular el trabajo realizado por el campo falta calcular el potencial gravitatorio en el origen:

$$V_{grav}(0,0) = -G\frac{M}{d'} = -4{,}17\cdot10^{-13} \text{ J kg}^{-1}$$

De donde el trabajo será:

$$W_{(0,6)\to(0,0)} = -m\left(V_{grav}(0,0) - V_{grav}(0,6)\right) = 1{,}67\cdot10^{-15} \text{ J}$$

Pregunta A.2.- Al explotar, un cohete de fuegos artificiales genera una onda sonora esférica con una potencia sonora de 20 mW. Un espectador oye la explosión 1,5 s después de verlo explotar. Calcule:

a) La distancia a la que está situado el espectador respecto al cohete en el momento de la explosión, así como la intensidad del sonido en la posición del espectador.

b) El nivel de intensidad sonora percibida si explotan 10 cohetes simultáneamente, y el espectador los oye todos al unísono 1,5 s después de explotar.

Datos: Velocidad del sonido en el aire, $v_s = 340$ m s^{-1}*; Valor umbral de la intensidad acústica,* $I_0 = 10^{-12}$ W m^{-2}.

Solución:

a) Sabiendo la velocidad del propagación del sonido en el aire, la distancia a la que explota el cohete es:

$$d = v_s t = 510 \text{ m}$$

Una vez conocida la distancia, la intensidad sonora en la posición del espectador será:

$$I = \frac{P}{4\pi d^2} = 6{,}12 \cdot 10^{-9} \text{ W m}^{-2}$$

b) La potencia de 10 explosiones es: $P_{total} = 10P = 200 \text{ mW}$

La intensidad sonora será por tanto:

$$I_{total} = \frac{P_{total}}{4\pi d^2} = 6{,}12 \cdot 10^{-8} \text{ W m}^{-2}$$

Por lo que el nivel de intensidad sonora será:

$$\beta(\text{dB}) = 10 \log_{10}\left(\frac{I_{total}}{I_0}\right) = 47{,}87 \text{ dB}$$

Pregunta A.3.- Una carga puntual de 2 μC se encuentra situada en el origen de coordenadas.

a) Aplicando el teorema de Gauss, obtenga el flujo del campo eléctrico a través de una superficie esférica de 10 mm de diámetro centrada en el origen.

b) Utilizando el valor del flujo obtenido en el apartado anterior, calcule el módulo del campo eléctrico en puntos situados a 5 mm de la carga.

Dato: Permitividad eléctrica del vacío, $\varepsilon_0 = 8{,}85 \cdot 10^{-12}$ C^2 N^{-1} m^{-2}.

Solución:

a) Aplicando el teorema de Gauss, el flujo del campo eléctrico es:

$$\Phi = \oiint_{Sup} \vec{E} \cdot d\vec{S} = \frac{Q_{encerrada}}{\varepsilon_0} = 2{,}26 \cdot 10^5 \text{ N m}^2 \text{ C}^{-1}$$

Este resultado no depende de la superficie, siempre que sea una superficie cerrada que incluya a la carga en su interior.

b) El flujo para una superficie esférica centrada en la carga es:

$$\Phi = \oiint_{Sup} \vec{E} \cdot d\vec{S} = E\, 4\pi r^2$$

donde se ha utilizado el hecho de que $\vec{E}$ y $d\vec{S}$ son paralelos, y el módulo del campo es igual en todos los puntos de la superficie. De ahí:

$$E = \frac{\Phi}{4\pi r^2} = 7{,}20 \cdot 10^8 \text{ N C}^{-1}$$

Pregunta A.4.- Un objeto vertical de 2 mm de altura se encuentra situado 15 cm a la izquierda de una lente convergente de 40 dioptrías. Calcule:

a) La posición y tamaño de la imagen que forma la lente.
b) La posición de una segunda lente convergente de 6 cm de distancia focal, situada a la derecha de la primera lente, para que el sistema óptico genere una imagen en el infinito.

Solución:

a) Aplicando la ley para lentes delgadas:

$$\frac{1}{f'} = \frac{1}{s'} - \frac{1}{s}$$

donde, para *f'* = 1/*P* = 0,025 m = 2,5 cm, y *s* = -0,15 m = -15 cm, se obtiene:

$$s' = \frac{1}{\frac{1}{f'} + \frac{1}{s}} = 3 \text{ cm}$$

El tamaño de la imagen se puede obtener mediante:

$$M = \frac{y'}{y} = \frac{s'}{s} \qquad y' = \frac{s'}{s} y = -0,4 \text{ mm}$$

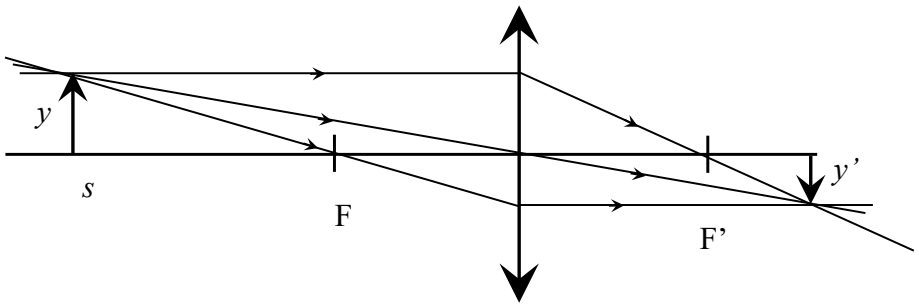

b) Para que la imagen final se forme en el infinito, la imagen proporcionada por la primera lente debe situarse en el foco de la segunda lente, por lo cual

$$d_{lentes} = s' + f_2' = 9 \text{ cm}$$

Pregunta A.5.- Un material posee un sistema de tres niveles energéticos electrónicos (nivel fundamental, primer nivel, y segundo nivel). Para que un electrón pase desde el nivel fundamental al segundo nivel, el material absorbe radiación de 450 nm; tras lo cual el material emite radiación de 600 nm debido al decaimiento del primer nivel hasta el fundamental.

a) Determine las diferencias de energía entre el primer nivel y el nivel fundamental, y entre el segundo nivel y el nivel fundamental, expresadas en electrón-voltios.

b) Calcule la energía por unidad de tiempo que produce la emisión si el material emite $4 \cdot 10^{15}$ fotones s^{-1}.

Datos: Valor absoluto de la carga del electrón, $e = 1{,}6 \cdot 10^{-19}$ C; Constante de Planck, $h = 6{,}63 \cdot 10^{-34}$ J s; Velocidad de la luz en el vacío, $c = 3 \cdot 10^{8}$ m s^{-1}.

Solución:

a) La secuencia de transiciones propuesta entre esos tres niveles se esquematiza según:

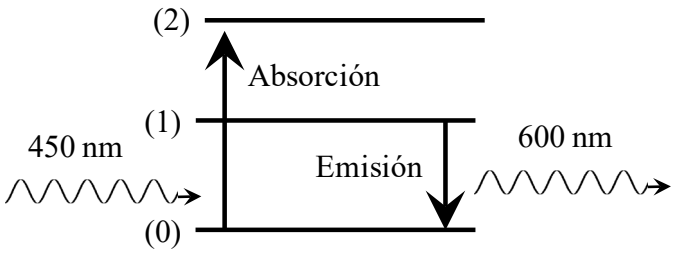

La frecuencia de la radiación absorbida o emitida entre dos niveles energéticos viene dada por:

$$\Delta E = h\nu_{fotón} = h\frac{c}{\lambda_{fotón}}$$

Para el caso de la absorción, transición (0)→(2):

$$\Delta E = E_2 - E_0 = h\nu_{fotón} = h\frac{c}{\lambda_{fotón}} = 4{,}42 \cdot 10^{-19}\ \text{J} = 2{,}76\ \text{eV}$$

Para el caso de la emisión, transición (1)→(0):

$$\Delta E = E_1 - E_0 = h\nu_{fotón} = h\frac{c}{\lambda_{fotón}} = 3{,}31 \cdot 10^{-19}\ \text{J} = 2{,}07\ \text{eV}$$

b) La energía emitida por unidad de tiempo (potencia emitida) se calcula como el flujo de fotones por la energía de cada fotón emitido:

$$P = N_{fotones/s} E_{fotón\ emitido} = 1{,}33 \cdot 10^{-3}\ \text{W}$$

Pregunta B.1.- Una sonda espacial de 3500 kg se encuentra en órbita circular alrededor de Saturno, realizando una revolución cada 36 horas. Calcule:

a) La velocidad orbital y la energía mecánica que posee la sonda espacial.
b) La energía mínima necesaria que habría que suministrarle para que abandone el campo gravitatorio del planeta.

Datos: Constante de Gravitación Universal, $G = 6{,}67\cdot10^{-11}$ N m^2 kg^{-2}; *Masa de Saturno*, $M_s = 5{,}68\cdot10^{26}$ kg.

Solución:

a) Al ser una órbita circular, se cumple:

$$F_{grav} = F_{centrípeta} \qquad \Rightarrow \qquad G\frac{Mm}{r^2} = m\frac{v^2}{r} \qquad \Rightarrow \qquad v^2 = G\frac{M}{r}$$

Por otro lado, la velocidad orbital se relaciona con el radio de la órbita y su periodo mediante:

$$v = \frac{2\pi r}{T}$$

Combinando ambas expresiones, se obtiene:

$$v^2 = \left(\frac{2\pi r}{T}\right)^2 = G\frac{M}{r} \qquad \Rightarrow \qquad r^3 = \frac{GMT^2}{4\pi^2}$$

de donde se calcula el radio de la órbita:

$$r = \left(\frac{GMT^2}{4\pi^2}\right)^{1/3} = 2{,}53\cdot10^8 \text{ m} = 253.000 \text{ km}$$

La velocidad orbital es ahora: $v = \dfrac{2\pi r}{T} = 12246{,}62 \text{ m}\cdot\text{s}^{-1} \approx 1{,}22\cdot10^4 \text{ m s}^{-1}$

Para una órbita circular, la energía mecánica es:

$$E_{mec} = E_{cin} + E_{pot} = \frac{1}{2}mv^2 - G\frac{Mm}{r} = -\frac{1}{2}G\frac{Mm}{r} = -2{,}62\cdot10^{11} \text{ J}$$

b) Para que la sonda abandone el campo gravitatorio del planeta, la velocidad que debe poseer en el infinito debe ser nula, y así lo será su energía potencial también, por lo que la energía mecánica debe ser cero:

$$E_{mec} = 0 = E_{\text{mecánica en órbita}} + E_{\text{suministrada}} \qquad \Rightarrow \qquad E_{\text{suministrada}} = -E_{\text{mecánica en órbita}} = 2{,}62\cdot10^{11} \text{ J}$$

Pregunta B.2.- El valor del campo eléctrico asociado a una onda electromagnética que se propaga en un medio material en la dirección del eje *x* viene expresado por:

$$E(x,t) = 4\cos(3,43\cdot 10^{15} t - 1,52\cdot 10^{7} x) \text{ N C}^{-1},$$

donde todas las magnitudes están expresadas en unidades del SI. Calcule:

a) La frecuencia y la longitud de onda asociadas a la onda electromagnética.

b) La velocidad de propagación de la onda y el índice de refracción del medio por el cual se propaga.

Dato: Velocidad de la luz en el vacío, $c = 3\cdot 10^{8}$ m s^{-1}.

Solución:

a) De la expresión del campo eléctrico, se deduce inmediatamente su frecuencia angular y su número de onda:

$$\omega = 3,43\cdot 10^{15} \text{ rad s}^{-1}$$
$$k = 1,52\cdot 10^{7} \text{ rad m}^{-1}$$

De donde la frecuencia y su longitud de onda se obtienen mediante las relaciones:

$$\omega = 2\pi f \quad \Rightarrow \quad f = \frac{\omega}{2\pi} = 5,46\cdot 10^{14} \text{ Hz}$$
$$k = \frac{2\pi}{\lambda} \quad \Rightarrow \quad \lambda = \frac{2\pi}{k} = 4,13\cdot 10^{-7} \text{ m}$$

b) La velocidad de propagación se obtiene mediante:

$$v = \frac{\omega}{k} = \lambda f = 2,26\cdot 10^{8} \text{ m s}^{-1}$$

El índice de refracción se define como la relación entre las velocidades de propagación en el vacío y en un medio material:

$$n = \frac{c}{v} = 1,33$$

Pregunta B.3.- Un hilo conductor rectilíneo indefinido situado a lo largo del eje *x* transporta una corriente de 25 A en sentido positivo del eje. Obtenga:

a) El campo magnético creado por el hilo en el punto (0, 5, 0) cm.

b) La fuerza magnética que experimenta un electrón cuando está en la posición (0, 5, 0) cm y tiene una velocidad de 1000 m s^{-1} en sentido positivo del eje *y*.

Datos: Valor absoluto de la carga del electrón, $e = 1{,}6\cdot10^{-19}$ C*; Permeabilidad magnética del vacío,* $\mu_0 = 4\pi\cdot10^{-7}$ T m A^{-1}.

Solución:

a) Los vectores involucrados se muestran en la figura adjunta:

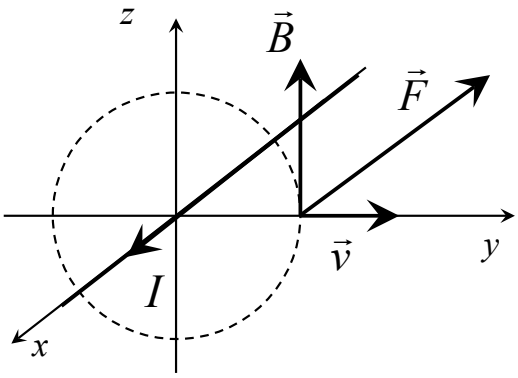

El módulo del campo magnético en el punto (0, 5, 0) cm se calcula mediante la expresión (derivada de la aplicación de la Ley de Ampère):

$B = \dfrac{\mu_0 I}{2\pi r} = 10^{-4}$ T, cuya dirección y sentido se muestra en la figura. Por tanto:

$$\vec{B} = 10^{-4}\ \vec{k}\ \text{T}$$

b) Para calcular la fuerza magnética utilizamos la expresión:

$$\vec{F} = q\vec{v}\times\vec{B} = q\begin{vmatrix} \vec{i} & \vec{j} & \vec{k} \\ 0 & v & 0 \\ 0 & 0 & B \end{vmatrix} = -1{,}6\cdot10^{-20}\ \vec{i}\ \text{N}$$

Pregunta B.4.- Un rayo láser, que emite luz de longitud de onda de 488 nm en el vacío, incide desde el aire sobre la superficie plana de un material con un índice de refracción de 1,55. El rayo incidente y el reflejado forman entre sí un ángulo de 60º.

a) Determine la frecuencia y la longitud de onda del rayo luminoso en el aire y dentro del medio material.

b) Calcule el ángulo que formará el rayo refractado en el material con el rayo reflejado en el aire. ¿Existirá algún ángulo de incidencia para el cual el rayo láser sufra reflexión total? Justifique la respuesta.

Datos: Índice de refracción del aire, $n_{aire} = 1$*; Velocidad de la luz en el vacío,* $c = 3\cdot10^{8}$ m s^{-1}.

Solución:

a) La frecuencia de la luz no cambia con el medio de propagación, y su relación con la longitud de onda y la velocidad de propagación viene dada por:

$$v = \lambda f$$

Para el vacío (o el aire), la velocidad de propagación es *c*:

$$f = \frac{c}{\lambda_0} = 6{,}15\cdot10^{14}\ \text{Hz}$$

La longitud de onda en el medio material será:

$$v = \frac{c}{n} = \lambda f \quad \Rightarrow \quad \lambda = \frac{v}{f} = \frac{c}{nf} = \frac{\lambda_0}{n} = 3{,}15 \cdot 10^{-7}\ \text{m} = 315\ \text{nm}$$

b) Teniendo en cuenta que el ángulo reflejado y el incidente son iguales:

$$\theta_{inc} = \theta_{ref} \quad \Rightarrow \quad \theta_{inc} + \theta_{ref} = 2\theta_{inc} = 60^{\circ} \quad \Rightarrow \quad \theta_{inc} = 30^{\circ}$$

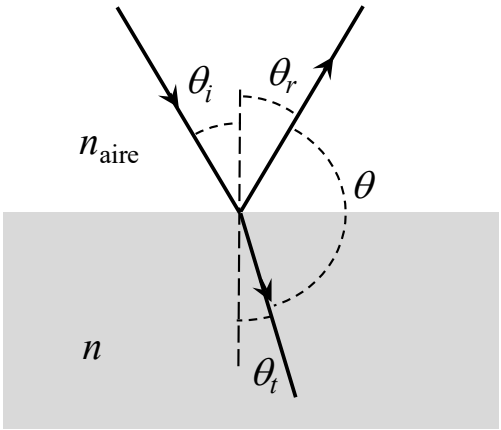

Aplicando la ley de Snell:

$$n_{aire}\,\text{sen}\,\theta_{inc} = n\,\text{sen}\,\theta_{trans} \quad \Rightarrow \quad \theta_{trans} = \text{asen}\left[\frac{n_{aire}\,\text{sen}\,\theta_{inc}}{n}\right] = 18{,}82^{\circ}$$

El ángulo formado por el rayo reflejado y el transmitido será:

$$\theta = 180^{\circ} - (\theta_{ref} + \theta_{trans}) = 131{,}18^{\circ}$$

Desde el aire hacia el material no existe ángulo crítico (no puede dar lugar a reflexión total), pues:

$$n_{aire}\,\text{sen}\,\theta_c = n\,\text{sen}\ 90 \quad \Rightarrow \quad \theta_c = \text{asen}\left[\frac{n\,\text{sen}90}{n_{aire}}\right] = \text{asen}\left[1{,}55\right],$$ que no existe.

Pregunta B.5.- .- Un isótopo de una muestra radiactiva posee un periodo de semidesintegración de 5730 años.

a) Obtenga la vida media y la constante radiactiva del isótopo.
b) Si una muestra tiene $5 \cdot 10^{20}$ átomos radiactivos en el momento inicial, calcule la actividad inicial y el tiempo que debe trascurrir para que dicha actividad se reduzca a la décima parte.

Solución:

a) La vida media se calcula mediante:

$$\tau = \frac{T_{1/2}}{\ln 2} = 8266{,}64 \text{ años} \approx 2{,}61 \cdot 10^{11} \text{ s}$$

Por otra parte, la constante de desintegración radiactiva es la inversa de la vida media:

$$\lambda = \frac{1}{\tau} = 3{,}84 \cdot 10^{-12} \text{ s}^{-1} = 1{,}21 \cdot 10^{-4} \text{ años}^{-1}$$

b) La actividad es: $A = \lambda N$, por lo que la actividad inicial será:

$$A_0 = \lambda N_0 = 1{,}92 \cdot 10^{9} \text{ Bq}$$

La actividad se reduce con el tiempo según la ley de decaimiento radiactivo:

$$A = A_0 \exp(-t / \tau)$$

de donde:

$$t = \tau \ln\left[\frac{A_0}{A}\right] = \tau \ln[10] = 6{,}00 \cdot 10^{11} \text{ s} \approx 19.000 \text{ años}$$

UNIVERSIDADES PÚBLICAS DE LA COMUNIDAD DE MADRID
EVALUACIÓN PARA EL ACCESO A LAS ENSEÑANZAS
UNIVERSITARIAS OFICIALES DE GRADO

Curso **2020-21**

MATERIA: FÍSICA

INSTRUCCIONES GENERALES Y CALIFICACIÓN

Después de leer atentamente el examen, responda a cinco preguntas cualesquiera a elegir entre las diez que se proponen.
CALIFICACIÓN: Cada pregunta se valorará sobre 2 puntos (1 punto cada apartado).
TIEMPO: 90 minutos.

Pregunta A.1.- Consideremos un sistema completamente aislado formado por una bola de 6 kg de masa y un perdigón de 0,35 g. Si dicho perdigón describe una trayectoria circular de radio 2,5 m en torno a la bola y únicamente se considera la interacción gravitatoria entre ambas partículas, calcule:

a) El periodo de revolución del perdigón alrededor de la bola.
b) La energía extra mínima que habría que suministrar al perdigón para que escape del campo gravitatorio de la bola.

Dato: Constante de Gravitación Universal, $G = 6{,}67\cdot10^{-11}$ N m^2 kg^{-2}.

Pregunta A.2.- Una onda transversal se propaga en el sentido positivo del eje *x* con una velocidad de 2 m s^{-1}. La onda tiene una amplitud de 2 cm y una frecuencia angular de $\pi/2$ rad s^{-1}. Si en el instante t = 0 s el punto situado en el origen de coordenadas tiene una aceleración máxima y positiva, calcule:

a) La expresión matemática de la onda.
b) La velocidad de oscilación de un punto situado en x = 3 m en el instante t = 10 s.

Pregunta A.3.- En los vértices de un cuadrado de lado 2 m y centrado en el origen de coordenadas se sitúan cuatro cargas eléctricas, tal y como se muestra en la figura.

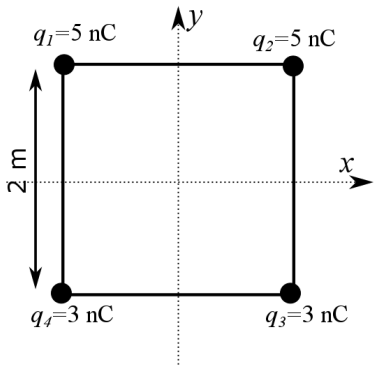

a) Obtenga el campo eléctrico creado por las cargas en el centro del cuadrado.
b) Si desde el centro del cuadrado se lanza un electrón con una velocidad $\vec{v} = 3\cdot10^4\ \vec{j}$ m s^{-1}, calcule el módulo de la velocidad que llevará el electrón en el instante en el que salga del cuadrado por el punto medio del lado superior.

Datos: Constante de la ley de Coulomb, $K = 9\cdot10^9$ N m^2 C^{-2}*; Valor absoluto de la carga del electrón,* $e = 1{,}6\cdot10^{-19}$ C*; Masa del electrón,* $m_e = 9{,}1\cdot10^{-31}$ kg.

Pregunta A.4.- Un sistema óptico está formado por dos lentes convergentes A y B de distancias focales 4 cm y 7 cm respectivamente. La lente B está situada 25 cm a la derecha de A. Situamos un objeto de tamaño 2 mm a una distancia de 5 cm a la izquierda de la lente A.

a) Calcule el tamaño y la posición de la imagen final.
b) Realice el correspondiente trazado de rayos de la formación de la imagen.

Pregunta A.5.- Se ilumina un material con luz visible de longitud de onda 500 nm. Sabiendo que el trabajo de extracción para el efecto fotoeléctrico de dicho material es 1,8 eV, determine:

a) La energía cinética máxima de los electrones y la longitud de onda de corte para el efecto fotoeléctrico de este material.
b) La longitud de onda de de Broglie de los electrones emitidos con la máxima energía cinética.

Datos: Valor absoluto de la carga del electrón, $e = 1{,}6\cdot10^{-19}$ C*; Masa del electrón,* $m_e = 9{,}1\cdot10^{-31}$ kg*; Constante de Planck,* $h = 6{,}63\cdot10^{-34}$ J s; *Velocidad de la luz en el vacío*, $c = 3\cdot10^8$ m s^{-1}.

Pregunta B.1.- Michael Mayor y Didier Queloz son dos planetólogos suizos, que en 2019 recibieron el premio Nobel de Física por descubrir el primer exoplaneta que orbitaba en torno a una estrella similar al Sol. Este exoplaneta, *51 Pegasus b*, tiene una masa 51 veces mayor que Júpiter, y describe una órbita de radio 100 veces menor que la de Júpiter. Sabiendo que el periodo de revolución de Júpiter es de 12 años, mientras que el de *51 Pegasus b*, es de 4 días y considerando ambas órbitas como circulares, calcule:

a) La masa de la estrella en torno a la que orbita el exoplaneta *51 Pegasus b*.
b) La energía mecánica de *51 Pegasus b*.

Datos: Constante de Gravitación Universal, $G = 6{,}67\cdot10^{-11}$ N m^2 kg^{-2}; *Masa del Sol,* $M_S = 1{,}99\cdot10^{30}$ kg; *Masa de Júpiter,* $M_J = 1{,}90\cdot10^{27}$ kg.

Pregunta B.2.- Una fuente sonora tiene una potencia de 8 μW. Si nos situamos en un punto P, a una cierta distancia de dicha fuente, detectamos un nivel de intensidad sonora de 20 dB. Calcule:

a) El número mínimo de fuentes similares a la original que necesitaríamos situar en el mismo punto que la primera fuente, para que sin movernos detectásemos un nivel de intensidad sonora doble al anterior.
b) La distancia que debemos alejarnos del punto P si queremos dejar de oír las fuentes.

Dato: Valor umbral de la intensidad acústica, $I_0 = 10^{-12}$ W m^{-2}.

Pregunta B.3.- Un solenoide de longitud 50 cm está formado por 1000 espiras de radio 5 cm. El flujo magnético a través de dicho solenoide es $50\cdot10^{-3}$ Wb.

a) Calcule la intensidad de corriente que circula por el solenoide.

A continuación, se sitúa en su interior una espira de radio 2 cm de modo que su vector superficie es paralelo al eje longitudinal del solenoide.

b) Determine la fuerza electromotriz inducida en la espira interior, si la corriente que circula por el solenoide se reduce de forma lineal hasta anularse en 5 milisegundos.

Dato: Permeabilidad magnética del vacío, $\mu_0 = 4\pi\, 10^{-7}$ T m A^{-1}.

Pregunta B.4.- En el fondo de una piscina de profundidad 3 metros se encuentra un foco que emite luz en todas las direcciones con una longitud de onda de 680 nm en el agua. El haz de luz tiene una longitud de onda de 904,4 nm en el exterior.

a) Calcule el índice de refracción del agua de la piscina.

Ahora se sitúa en la superficie del agua, sobre la vertical del foco, un objeto circular opaco.

b) Determine el valor del radio del objeto para que un observador externo no vea la luz.

Datos: Índice de refracción del aire, $n_{aire} = 1$; *Velocidad de la luz en el vacío,* $c = 3\cdot10^8$ m s^{-1}.

Pregunta B.5.- El isótopo radiactivo ^{226}Ra emite una partícula α en cada proceso de desintegración. El periodo de semidesintegración de este isótopo del radio es de 1590 años.

a) Calcule su vida media y en qué porcentaje se reducirá la actividad de una cierta masa en este periodo de tiempo.
b) Si cada partícula α emitida tiene una energía de 3 MeV, calcule la energía que recibirá una persona por situarse al lado de una muestra radiactiva de ^{226}Ra de 1 mg durante diez años. Suponga que todas las partículas emitidas inciden sobre la persona por estar situada excesivamente cerca de la muestra.

Datos: Número de Avogrado, $N_A = 6{,}02\cdot10^{23}$ mol^{-1}; *Valor absoluto de la carga del electrón,* $e = 1{,}6\cdot10^{-19}$ C; *Masa atómica del* ^{226}Ra, $M_{Ra} = 226$ u.

CRITERIOS ESPECÍFICOS DE CORRECCIÓN

FÍSICA

* Las preguntas deben contestarse razonadamente, valorando en su resolución una adecuada estructuración y el rigor en su desarrollo.

* Se valorará positivamente la inclusión de pasos detallados, así como la realización de diagramas, dibujos y esquemas.

* En la corrección de las preguntas se tendrá en cuenta el proceso seguido en la resolución de las mismas, valorándose positivamente la identificación de los principios y leyes físicas involucradas.

* Se valorará la destreza en la obtención de resultados numéricos y el uso correcto de las unidades en el Sistema Internacional.

* Cada pregunta, debidamente justificada y razonada con la solución correcta, se calificará con un máximo de 2 puntos.

* En las preguntas que consten de varios apartados, la calificación máxima será la misma para cada uno de ellos (desglosada en múltiplos de 0,25 puntos).

FÍSICA
SOLUCIONES
(**Documento de trabajo orientativo**)

Pregunta A.1.- Consideremos un sistema completamente aislado formado por una bola de 6 kg de masa y un perdigón de 0,35 g. Si dicho perdigón describe una trayectoria circular de radio 2,5 m en torno a la bola y únicamente se considera la interacción gravitatoria entre ambas partículas, calcule:

a) El periodo de revolución del perdigón alrededor de la bola.
b) La energía extra mínima que habría que suministrar al perdigón para que escapase del campo gravitatorio de la bola.

Dato: Constante de Gravitación Universal, $G = 6{,}67\cdot10^{-11}$ N m^2 kg^{-2}.

Solución:

a) Aplicamos la Ley de gravitación universal a ambos objetos, y una vez deducida la velocidad de revolución obtenemos el periodo aplicando que la órbita es circular.

$$G\frac{Mm}{r^2}=\frac{mv^2}{r}\rightarrow v^2=G\frac{M}{r}\rightarrow T=\frac{2\pi r}{v}=\frac{2\pi r^{3/2}}{\sqrt{GM}}=1{,}24\cdot10^6\ \text{s}$$

b) Cuando una partícula se escapa de la acción gravitatoria de una masa, su $E_m = 0$. Calculamos la energía que tiene el perdigón cuando está orbitando:

$$E_m=E_c+E_p=\frac{1}{2}mv^2-G\frac{Mm}{r}=\frac{1}{2}m\frac{GM}{r}-G\frac{Mm}{r}=-\frac{1}{2}G\frac{Mm}{r}=-2{,}8\cdot10^{-14}\ \text{J}$$

Y por lo tanto, para que la $E_m = 0$, la energía que deberemos suministrar al perdigón será $2{,}8\cdot10^{-14}$ J.

Pregunta A.2.- Una onda transversal se propaga en el sentido positivo del eje *x* con una velocidad de 2 m s^{-1}. La onda tiene una amplitud de 2 cm y una frecuencia angular de $\pi/2$ rad s^{-1}. Si en el instante *t* = 0 s el punto situado en el origen de coordenadas tiene una aceleración máxima y positiva, calcule:

a) La expresión matemática de la onda.
b) La velocidad de oscilación de un punto situado en *x* = 3 m en el instante *t* = 10 s.

Solución:

a) De la expresión de la frecuencia angular podemos obtener el periodo de la onda. Relacionando la velocidad de propagación con el periodo, se obtiene la longitud de onda.

$$T=\frac{2\pi}{\omega}=\frac{2\pi}{\pi/2}=4\,\text{s}\rightarrow\lambda=v\,\text{T}=8\,\text{m}$$

$$k=\frac{2\pi}{\lambda}=\frac{\pi}{4}\,\text{rad m}^{-1}$$

Por lo tanto la ecuación de la onda nos quedará:

$$y(x,t)=0{,}02\,\text{sen}\left(\frac{\pi}{2}t-\frac{\pi}{4}x+\varphi_0\right)\text{m}$$

Para determinar el valor de φ_0, consideramos la condición que nos dice que el punto situado en origen tiene aceleración máxima en el instante *t* = 0 s, por lo tanto

$$a(x,t)=\frac{d^2y(x,t)}{dt^2}=-A\omega^2\text{sen}\left(\frac{\pi}{2}t-\frac{\pi}{4}x+\varphi_0\right)\rightarrow a(0,0)=-A\omega^2\text{sen}\left(\varphi_0\right)$$

Lo que nos indica que $\varphi_0 = -\pi/2$ ó $3\pi/2$ y por lo tanto la ecuación de la onda queda:

$$y(x,t)=0{,}02\text{sen}\left(\frac{\pi}{2}t-\frac{\pi}{4}x-\frac{\pi}{2}\right)\text{m}$$

b) Para calcular la velocidad de oscilación del punto situado en x = 3 m en el instante t = 10 s, simplemente debemos obtener la ecuación de la velocidad y sustituir los valores de x y t que nos da el enunciado.

$$v(x,t)=\frac{dy(x,t)}{dt}=A\omega\cos\left(\frac{\pi}{2}t-\frac{\pi}{4}x-\frac{\pi}{2}\right)\rightarrow v(3,10)=0,022\,\mathrm{m\,s^{-1}}$$

Pregunta A.3.- En los vértices de un cuadrado de lado 2 m y centrado en el origen de coordenadas, se sitúan cuatro cargas eléctricas tal y como se muestra en la figura.

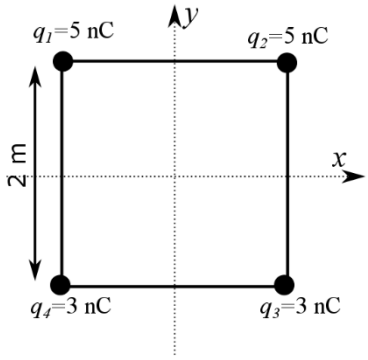

a) Obtenga el campo eléctrico creado por las cargas en el centro del cuadrado.

b) Si desde el centro del cuadrado se lanza un electrón con una velocidad $\vec{v}=3\cdot10^4\ \vec{j}\ \mathrm{m\,s^{-1}}$, calcule el módulo de la velocidad que llevará el electrón en el instante en el que salga del cuadrado por el punto medio del lado superior.

Datos: Constante de la ley de Coulomb, $K = 9\cdot10^9$ N m^2 C^{-2}; Valor absoluto de la carga del electrón, $e = 1,6\cdot10^{-19}$ C; Masa del electrón, $m_e = 9,1\cdot10^{-31}$ kg.

Solución:

a) Para calcular el campo realizaremos el dibujo de los campos eléctricos generados por cada una de las cargas. Observando el dibujo, podemos comprobar que, debido a la simetría de los campos, las componentes x se anulan y por lo tanto sólo tenemos que calcular la suma de las componentes y. También debemos calcular la distancia d desde los vértices hasta el centro del cuadrado.

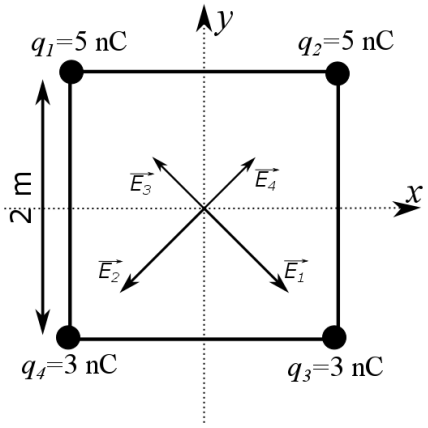

$$d^2=1^2+1^2=2\ \mathrm{m}^2\Rightarrow d=\sqrt{2}\ \mathrm{m}$$

$$\vec{E}_T=K\,\frac{q_1+q_2-q_3-q_4}{d^2}\cos(45^\circ)\,(-\vec{j})$$

$$\vec{E}_T=K\,\frac{(5+5-3-3)}{2}\,\frac{\sqrt{2}}{2}\,(-\vec{j})=9\sqrt{2}\,(-\vec{j})\ \mathrm{N\,C^{-1}}$$

b) Para calcular la velocidad de salida por el punto que nos indica el enunciado, podemos aplicar la conservación de la energía mecánica, pues las fuerzas que actúan son conservativas:

$$E_i=\frac{1}{2}mv_i^2+(-e)V_i=E_f=\frac{1}{2}mv_f^2+(-e)V_f$$

donde e es la carga del electrón

Despejando, obtenemos:

$$\frac{1}{2}mv_f^2=\frac{1}{2}mv_i^2+(-e)\left(V_i-V_f\right)\Rightarrow v_f=\sqrt{\frac{2(-e)}{m}(V_i-V_f)+v_i^2}$$

Los potenciales inicial y final son:

$$V_i=V(0,0)=K\,\frac{5\ \mathrm{nC}+5\ \mathrm{nC}+3\ \mathrm{nC}+3\ \mathrm{nC}}{d}=K\,\frac{16\ \mathrm{nC}}{\sqrt{2}}=72\sqrt{2}=101,82\ \mathrm{V}$$

$$V_f=V(1,0)=K\,\frac{5\ \mathrm{nC}+5\ \mathrm{nC}}{1}+K\,\frac{3\ \mathrm{nC}+3\ \mathrm{nC}}{\sqrt{5}}=114,15\ \mathrm{V}$$

Sustituyendo los valores en la expresión de la velocidad final, obtenemos:

$$v_f=\sqrt{\frac{2q}{m}(V_i-V_f)+v_i^2}=\sqrt{\frac{2\cdot(-1,6\cdot10^{-19})}{9,1\cdot10^{-31}}(72\sqrt{2}-114,15)+(3\cdot10^4)^2}=2,08\cdot10^6\ \mathrm{m\,s^{-1}}$$

Pregunta A.4.- Un sistema óptico está formado por dos lentes convergentes A y B de distancias focales 4 cm y 7 cm respectivamente. La lente B está situada 25 cm a la derecha de A. Situamos un objeto de tamaño 2 mm a una distancia de 5 cm a la izquierda de la lente A.

a) Calcule el tamaño y la posición de la imagen final.
b) Realice el correspondiente trazado de rayos de la formación de la imagen.

Solución:

a) Calculemos la posición y tamaño de la imagen generada por la primera lente.

$$\frac{1}{f'_A}=\frac{1}{s'_A}-\frac{1}{s_A}\rightarrow\frac{1}{4\text{ cm}}=\frac{1}{s'_A}-\frac{1}{-5\text{cm}}\rightarrow s'_A=20\text{cm}$$

$$\frac{y'_A}{y_A}=\frac{s'_A}{s_A}\rightarrow y'_A=2\text{mm}\frac{20}{-5}=-8\text{mm}$$

La imagen que proporciona la lente A actúa como objeto para la segunda. Como s'_A es 20 cm, y la distancia entre las lentes son 25 cm, la distancia s_B será (25 cm - s'_A) = 5 cm y el tamaño del objeto para la lente B será el tamaño de la imagen generada por la lente A, $y_B = y'_A$ = - 8 mm. Procediendo de forma similar:

$$\frac{1}{f'_B}=\frac{1}{s'_B}-\frac{1}{s_B}\rightarrow\frac{1}{7\text{ cm}}=\frac{1}{s'_B}-\frac{1}{-5\text{cm}}\rightarrow s'_B=-17,5\text{cm}$$

$$\frac{y'_B}{y_B}=\frac{s'_B}{s_b}\rightarrow y'_B=-8\text{mm}\frac{-17,5}{-5}=-28\text{mm}$$

b)

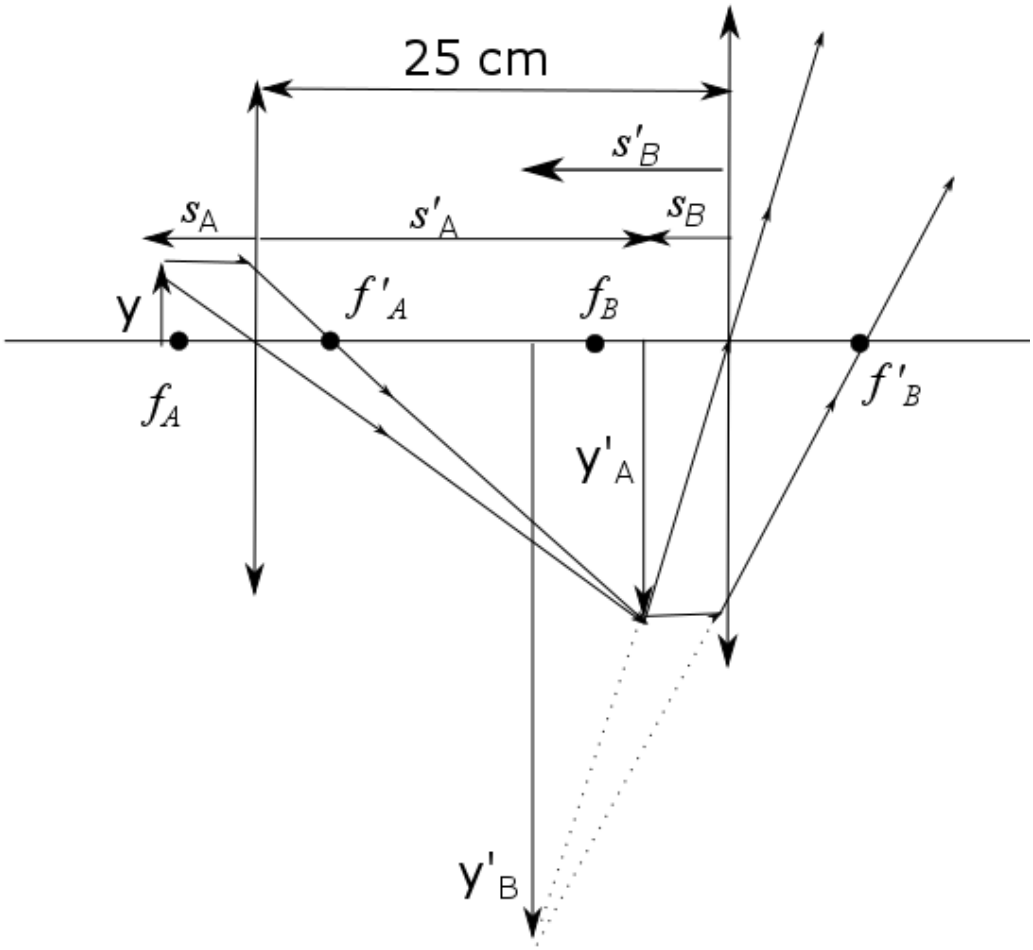

Pregunta A.5.- Se ilumina un material con luz visible de longitud de onda 500 nm. Sabiendo que el trabajo de extracción para el efecto fotoeléctrico de dicho material es 1,8 eV, determine:

a) La energía cinética máxima de los electrones y la longitud de onda de corte para el efecto fotoeléctrico de este material.

b) La longitud de onda de de Broglie de los electrones emitidos con la máxima energía cinética.

Datos: Valor absoluto de la carga del electrón, $e = 1{,}6\cdot10^{-19}$ C; *Masa del electrón,* $m_e = 9{,}1\cdot10^{-31}$ kg; *Constante de Planck,* $h = 6{,}63\cdot10^{-34}$ J s; *Velocidad de la luz en el vacío,* $c = 3\cdot10^{8}$ m s^{-1}.

Solución:

a) La energía del fotón incidente es:

$$E_\gamma = h\frac{c}{\lambda} = 3{,}98\cdot10^{-19}\ \text{J} = 2{,}49\,\text{eV}$$

Para calcular la energía cinética máxima obtendremos la diferencia entre la energía del fotón, E_γ, y el trabajo de extracción, W:

$$E_{c,max} = E_\gamma - W = 2{,}49\,\text{eV} - 1{,}8\,\text{eV} = 0{,}69\,\text{eV} = 1{,}10\cdot10^{-19}\,\text{J}$$

La longitud de onda de corte es la longitud de onda de los fotones que tienen la energía de extracción

$$W = \frac{hc}{\lambda_{corte}} \Rightarrow \lambda_{corte} = \frac{hc}{W} = 6{,}91\cdot10^{-7}\ \text{m}$$

b) Para calcular la longitud de onda de de Broglie, lo primero que debemos calcular es la velocidad de los electrones, para lo cual hacemos uso de su energía cinética:

$$E_c = \frac{1}{2}mv^2 \Rightarrow v = \sqrt{\frac{2E_c}{m}} = 4{,}92\cdot10^{5}\ \text{m s}^{-1}$$

Aplicando la ecuación de la longitud de onda de de Broglie obtenemos:

$$\lambda_{deBroglie} = \frac{h}{mv} = 1{,}48\cdot10^{-9}\ \text{m}$$

Pregunta B.1.- Michael Mayor y Didier Queloz son dos planetólogos suizos, quen 2019 recibieron el premio Nobel de Física por descubrir el primer exoplaneta que orbitaba en torno a una estrella similar al Sol. Este exoplaneta, *51 Pegasus b*, tiene una masa 51 veces mayor que Júpiter, y describe una órbita de radio 100 veces menor que la de Júpiter. Sabiendo que el periodo de revolución de Júpiter es de 12 años, mientras que el de *51 Pegasus b*, es de 4 días y considerando ambas órbitas como circulares, calcule:

a) La masa de la estrella en torno a la que gira el exoplaneta *51 Pegasus b*.
b) La energía mecánica de *51 Pegasus b*.

Datos: Constante de Gravitación Universal, $G = 6{,}67\cdot10^{-11}$ N m^2 kg^{-2}; *Masa del Sol,* $M_s = 1{,}99\cdot10^{30}$ kg; *Masa de Júpiter,* $M_J = 1{,}90\cdot10^{27}$ kg.

Solución:

a) Los datos que nos aporta el enunciado son: $R_{\text{Jupiter}} = 100R_{\text{Pegasus}}$, T_{Jupiter} = 12 años = 4380 días y T_{Pegasus} = 4 días. Si aplicamos la ley de gravitación a un planeta de masa m_x orbitando en torno a una estrella de masa M_y, obtenemos la velocidad de revolución.

$$\frac{GM_y m_x}{R_x^{\,2}} = m_x \frac{v_x^2}{R_x} \rightarrow v_x = \sqrt{\frac{GM_y}{R_x}}$$

Teniendo en cuenta que hemos considerado que las órbitas son circulares podemos relacionar su velocidad de revolución con el periodo

$$T_x = \frac{2\pi R_x}{v_x} = \frac{2\pi R_x}{\sqrt{GM_y / R_x}} = \frac{2\pi R_x^{3/2}}{\sqrt{GM_y}}$$

Si aplicamos los datos que nos proporciona el problema obtenemos el radio de la órbita de Júpiter.

$$T_{Júpiter} = \frac{2\pi R_{Júpiter}^{3/2}}{\sqrt{GM_{Sol}}} \rightarrow R_{Júpiter} = 7{,}84\cdot10^{11}\,\text{m}$$

Con esta misma ecuación para Pegasus 51 y teniendo en cuenta la relación que hay entre sus radios obtendremos:

$$T_{Pegasus} = 4\cdot24\cdot3600 = \frac{2\pi R_{Pegasus}^{3/2}}{\sqrt{GM_{Estrella}}} = \frac{2\pi\left(R_{Jupiter}/100\right)^{3/2}}{\sqrt{GM_{Estrella}}} \rightarrow M_{Estrella} = 2{,}39\cdot10^{30}\,\text{kg}$$

b) Para calcular la energía energía mecánica podemos aplicar la definición de energía mecánica

$$E_m = E_C + E_P = \frac{1}{2}mv^2 - G\frac{Mm}{R} = \frac{1}{2}m\frac{GM}{R} - G\frac{Mm}{R} = -\frac{1}{2}G\frac{Mm}{R}$$

Sustituimos los valores numéricos que nos proporciona el enunciado y el valor del radio de *Pegasus 51* que obtenemos por la relación que tiene con el radio de Júpiter:

$$E_{Pegasus} = -\frac{1}{2}G\frac{M_{Estrella}m_{Pegasus}}{R_{Pegasus}} = -\frac{1}{2}G\frac{M_{Estrella}51m_{Jupiter}}{\frac{R_{Jupiter}}{100}} = -9{,}85\cdot10^{38}\,\text{J}$$

Pregunta B.2.- Una fuente sonora tiene una potencia de 8 μW. Si nos situamos en un punto P, a una cierta distancia de dicha fuente, detectamos un nivel de intensidad sonora de 20 dB. Calcule:

a) El número mínimo de fuentes similares a la original que necesitaríamos situar en el mismo punto que la primera fuente, para que sin movernos detectásemos un nivel de intensidad sonora doble al anterior.

b) La distancia que debemos alejarnos del punto P si queremos dejar de oír las fuentes.

Dato: Valor umbral de la intensidad acústica, $I_0 = 10^{-12}$ W m^{-2}.

Solución:

a) Lo primero que debemos calcular es la intensidad que recibimos cuando detectamos 20 dB. Para ello aplicamos la definición:

$$\beta(\text{dB}) = 10\log_{10} I / I_0$$

Por lo tanto:

$$I_1 = I_0 10^{\beta/10} = 10^{-12}10^2 = 10^{-10}\ \text{W m}^{-2}$$

La potencia de una onda esférica viene expresada de la forma:

$$P = 4\pi d^2 I$$

de donde, y utilizando P = 8 μW, se obtiene:

$$d_1 = \sqrt{\frac{P}{4\pi I_1}} = 79{,}79\ \text{m}$$

Una vez que sabemos a qué distancia estamos, calcularemos la intensidad que nos generará un nivel de intensidad sonora doble que la original (40 dB) y a partir de este valor deducimos la potencia que se nos pide:

$$I_2 = I_0 10^{\beta/10} = I_0 10^{40/10} = 10^{-12}10^4 = 10^{-8}\ \text{W m}^{-2} \rightarrow P' = I_2 4\pi d_1^2 = 8{\cdot}10^{-4}\ \text{W}$$

$$nP = 8{\cdot}10^{-4}\ \text{W} \Rightarrow n = \frac{8\cdot 10^{-4}}{P} = 100$$

Por lo tanto necesitaremos 100 fuentes similares a la anterior. (cuidado, según el redondeo del alumno podría darle una cantidad ligeramente mayor de $8{\cdot}10^{-4}$ y entonces necesitaría 101 fuentes).

Otra forma de obtener este resultado sería trabajando directamente con la definición de nivel intensidad sonora.

$$\left.\begin{array}{l} \beta(\text{dB}) = 10\log_{10} I_1 / I_0 \\ \\ 2\beta(\text{dB}) = 10\log_{10} I_2 / I_0 \end{array}\right\} 2(\log_{10} I_1 - \log_{10} I_0) = \log_{10} I_2 - \log_{10} I_0 \rightarrow 2\log_{10} I_1 - \log_{10} I_0 = \log_{10} I_2$$

$$\frac{I_1^2}{I_0} = I_2 \rightarrow I_2 = 1{\cdot}10^{-8} = NI_1 = N1{\cdot}10^{-10} \rightarrow N = 100$$

b) Si queremos dejar de oír las fuentes sonoras deberemos alejarnos hasta que la intensidad que detectemos sea 10^{-12} W m^{-2}. Para ello y teniendo en cuenta que la potencia de todas las fuentes es $8{\cdot}10^{-4}$ W.

$$d_{final} = \sqrt{\frac{P}{4\pi I_0}} = \sqrt{\frac{8{\cdot}10^{-4}}{4\pi 10^{-12}}} = 7978{,}84\ \text{m}$$

Por lo tanto deberemos alejarnos 7978,84 – 79,79 = 7899,06 m.

Pregunta B.3.- Un solenoide de longitud 50 cm está formado por 1000 espiras de radio 5 cm. El flujo magnético a través de dicho solenoide es $50\cdot10^{-3}$ Wb.

a) Calcule la intensidad de corriente que circula por el solenoide.

A continuación, se sitúa en su interior una espira de radio 2 cm de modo que su vector superficie es paralelo al eje longitudinal del solenoide.

b) Determine la fuerza electromotriz inducida en la espira interior si la corriente que circula por el solenoide se reduce de forma lineal hasta anularse en 5 milisegundos.

Dato: Permeabilidad magnética del vacío, $\mu_0 = 4\pi\cdot10^{-7}$ T m A^{-1}.

Solución

a) Para calcular la intensidad de corriente que circula por el solenoide, debemos tener en cuenta que el problema nos da el flujo magnético que atraviesa la superficie del solenoide. Utilizando la definición de flujo magnético, podemos calcular el valor del campo magnético en su interior.

$$\phi_m = \vec{B}\cdot\vec{S}_{Total} = \vec{B}\cdot N\vec{S}_{espira} = BN\pi r^2 \Rightarrow 50\cdot10^{-3}\ \text{Wb} = B\,1000\pi\ 0{,}05^2 \Rightarrow B = 6{,}37\cdot10^{-3}\ \text{T}$$

Una vez que tenemos el valor del campo magnético, aplicamos la fórmula que nos determina el campo magnético generado por un solenoide.

$$B = \mu_0 nI = \mu_0\frac{N}{l}I \rightarrow I = \frac{Bl}{\mu_0 N} = \frac{6{,}37\cdot10^{-3}\cdot0{,}5}{4\pi\cdot10^{-7}\cdot1000} = 2{,}53\,\text{A}$$

b) Para calcular la f.e.m. inducida aplicaremos la Ley de Faraday teniendo en cuenta que la corriente (y por lo tanto el flujo magnético) se reduce de forma lineal hasta anularse.

$$|\varepsilon| = \left|\frac{d\phi_m}{dt}\right| = \left|\frac{d(\vec{B}\cdot\vec{S})}{dt}\right| = \left|\frac{\mu_0 nI\pi r_{espira}^2}{\Delta t}\right| = \frac{\mu_0\frac{N}{l}I\pi r_{espira}^2}{\Delta t} = \frac{\mu_0\frac{1000}{0{,}5}2{,}53\,\pi\,0{,}02^2}{5\cdot10^{-3}} = 1{,}59\cdot10^{-3}\ \text{V}$$

Pregunta B.4.- En el fondo de una piscina de profundidad 3 metros se encuentra un foco que emite luz en todas las direcciones con una longitud de onda de 680 nm en el agua. El haz de luz tiene una longitud de onda de 904,4 nm en el exterior.

a) Calcule el índice de refracción del agua de la piscina.

Ahora se sitúa en la superficie del agua, sobre la vertical del foco, un objeto circular opaco.

b) Determine el valor del radio del objeto para que un observador externo no vea la luz.

Datos: Índice de refracción del aire, $n_{aire} = 1$*; Velocidad de la luz en el vacío,* $c = 3\cdot10^8$ m s^{-1}.

Solución:

a) Aplicando la definición de índice de refracción $n_2 = \frac{c}{v_2} = \frac{c}{\lambda_2 f}$ y teniendo en cuenta que la frecuencia de la onda es constante, podemos igualar las expresiones de *c* con lo que obtenemos:

$$c = n_1\lambda_1 f = n_2\lambda_2 f \rightarrow n_1 = \frac{1\lambda_2}{\lambda_1} = \frac{904{,}4}{680} = 1{,}33$$

b) En este caso aplicamos la definición de ángulo límite entre ambos medios

$$1\,\text{sen}(90^\circ) = 1{,}33\,\text{sen}(\alpha_{\lim}) \rightarrow \alpha_{\lim} = 48{,}75^\circ$$

Usando el triángulo generado por el rayo, la profundidad y el radio del objeto obtenemos:

$$tg(\alpha_{\lim}) = \frac{r}{3} \rightarrow r = 3{,}42\,\text{m}$$

Pregunta B.5.- El isótopo radiactivo ^{226}Ra emite una partícula α en cada proceso de desintegración. El periodo de semidesintegración de este isótopo del radio es de 1590 años.

a) Calcule su vida media y en qué porcentaje se reducirá la actividad de una cierta masa en este periodo de tiempo.

b) Si cada partícula α emitida tienen una energía de 3 MeV, calcule la energía que recibirá una persona por situarse al lado de una muestra radiactiva de ^{226}Ra de 1 mg durante diez años. Suponga que todas las partículas emitidas inciden sobre la persona por estar situada excesivamente cerca de la muestra.

Datos: Número de Avogrado, $N_A = 6{,}02\cdot10^{23}$ mol^{-1}; *Valor absoluto de la carga del electrón,* $e = 1{,}6\cdot10^{-19}$ C; *Masa atómica del* ^{226}Ra, $M_{Ra} = 226$ u.

Solución:

a) La constante de desintegración radiactiva se puede hallar a partir del tiempo de semidesintegración, mediante:

$$\lambda = \frac{\ln 2}{T_{1/2}} = 4{,}36\cdot10^{-4}\ \text{años}^{-1}$$

Por lo tanto la vida media será:

$$\tau = \frac{1}{\lambda} = 2293{,}58\,\text{años}$$

Ahora aplicamos la definición de actividad

$$A(\tau) = A_0 e^{-\lambda\tau} = A_0 e^{-1} = \frac{A_0}{e} = 0{,}37 A_0$$

$$A_0 - A(\tau) = A_0(1-0{,}37) = 0{,}63\ A_0$$

Por lo tanto la actividad se reduce en un 63%.

b) Inicialmente el número de átomos radiactivos presentes en la muestra es:

$$N_0 = \frac{6{,}02\cdot10^{23}\cdot1\cdot10^{-3}}{226} = 2{,}66\cdot10^{18}$$

Para calcular el número de desintegraciones que se han producido en 10 años, simplemente debemos calcular el número de átomos que quedan transcurridos esos 10 años y restar de los iniciales.

$$N_f = N_0 e^{-\lambda t} = 2{,}66\cdot10^{18} e^{-4{,}36\cdot10^{-4}\cdot10} = 2{,}648\cdot10^{18}$$

Por lo tanto el número de desintegraciones que se han producido en estos diez años son:

$$N_0 - N_f = 2{,}66\cdot10^{18} - 2{,}648\cdot10^{18} = 1{,}2\cdot10^{16}\ \text{desintegraciones}$$

Así que la energía recibida por la persona será:

$$E = 1{,}2\cdot10^{16}\cdot3\ \text{MeV} = 3{,}6\cdot10^{22}\ \text{eV} = 5760\ \text{J}$$