UNIDAD 7
Matemáticas

AA

Nombre y apellidos: .....

Curso: ..... **Fecha:** .....

1 Escribe las siguientes fracciones.

Un décimo ⟶ ☐ Tres décimos ⟶ ☐

Un doceavo ⟶ ☐ Cinco doceavos ⟶ ☐

2 Escribe cómo se leen estas fracciones:

$\frac{3}{8}$ → ..... $\frac{8}{8}$ → .....

$\frac{4}{10}$ → ..... $\frac{7}{10}$ → .....

$\frac{2}{12}$ → ..... $\frac{10}{12}$ → .....

3 Escribe la fracción que se ha coloreado en cada rectángulo.

A 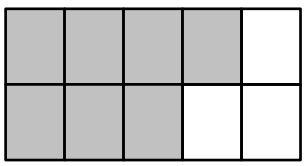 ☐

B 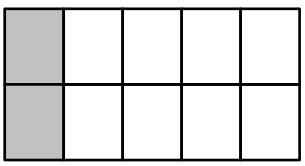 ☐

C 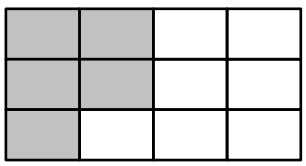 ☐

4 Contesta.

a) ¿Qué fracción de hora son 30 minutos? ☐

b) ¿Qué fracción de hora son 15 minutos? ☐

c) ¿Qué fracción de hora son 5 minutos? ☐

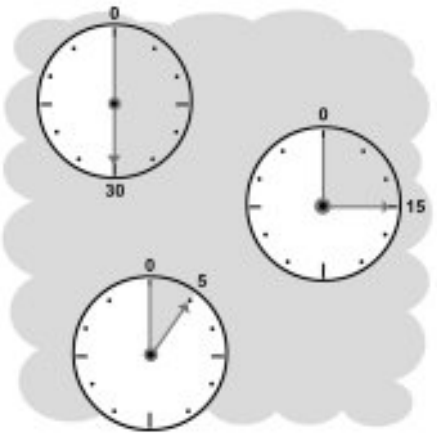

© GRUPO ANAYA, S.A., Matemáticas 3.º Educación Primaria. Material fotocopiable autorizado.

UNIDAD 7
Matemáticas

AA

Nombre y apellidos: .....

Curso: ..... **Fecha:** .....

5 Colorea en este gráfico la fracción $\frac{5}{4}$:

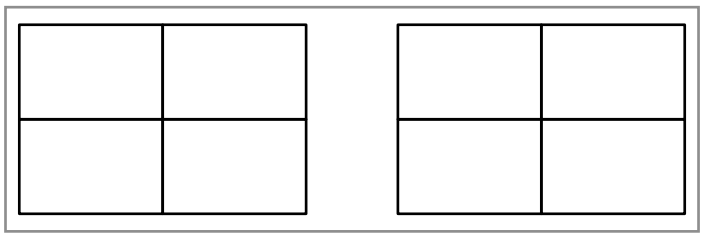

6 Escribe una fracción que exprese la parte de círculo que se ha coloreado en el gráfico.

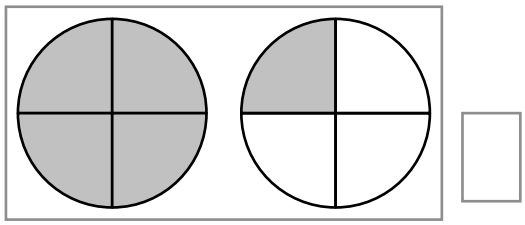

7 Observa el gráfico y completa.

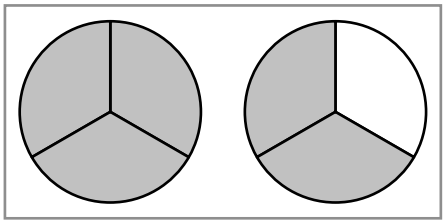

$\frac{5}{3}$ de tarta es lo mismo que

1 tarta completa más ☐ de tarta.

8 Calcula.

a) La cuarta parte de 40 → .....

b) La quinta parte de 40 → .....

9 Observa la ilustración y contesta.

a) ¿Qué fracción de pizza ha comprado Ana? ☐

b) Si la pizza entera cuesta 10 €, ¿cuánto ha pagado Ana por su porción? .....

© GRUPO ANAYA, S.A., Matemáticas 3.º Educación Primaria. Material fotocopiable autorizado.