REPASO

Nombre: ..... *Fecha:* ..... *Curso:* .....

1 Fíjate en cuántas partes está dividida cada *pizza* y completa.

Hay ..... trozos de *pizza*. Un trozo de *pizza* representa de *pizza*.	Hay ..... trozos de *pizza*. Cinco trozos de *pizza* representan de *pizza*.	Hay ..... trozos de *pizza*. Tres trozos de *pizza* representan de *pizza*.

2 Ramón ha preparado una tortilla de patatas para sus amigos y la ha cortado en ocho trozos iguales. Lee y anota la fracción de tortilla que ha comido cada uno.

3 Carlos y Samuel construyen una torre con palillos. Si para construir la bandera de la torre necesitan 5 palillos azules y 4 verdes, ¿qué fracción de bandera corresponde a los palillos azules? ¿Y a los verdes?

REPASO

Nombre: ..... *Fecha:* ..... *Curso:* .....

4 Completa la tabla con la fracción que representa el número de bombones de cada caja.

representación	se escribe	se lee
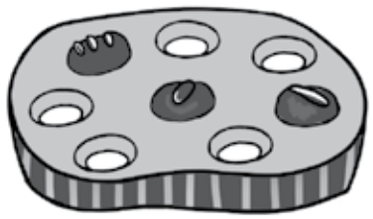		
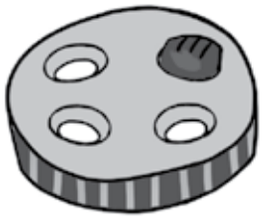		
		

5 Colorea el polígono según las indicaciones. Después, contesta.

- Tres séptimas partes de color azul.
- Dos séptimas partes de color amarillo.
- El resto, de color rojo.

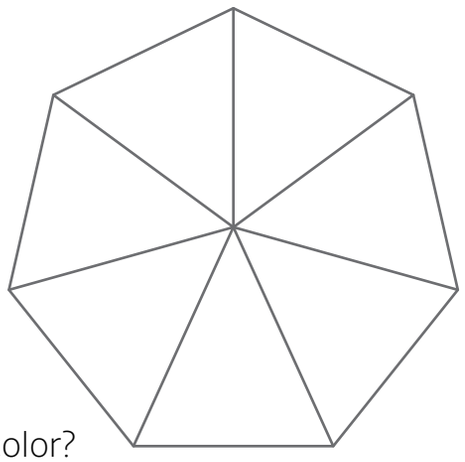

a) ¿Qué fracción corresponde a la parte pintada de cada color?

Azul ▶ Amarillo ▶ Rojo ▶

b) ¿Cuál de las tres fracciones es la mayor? .....

REPASO

Nombre: ..... Fecha: ..... Curso: .....

6 Escribe dos fracciones mayores que $\frac{5}{9}$ y otras dos menores. Escribe cómo se leen.

	se escribe	se lee
fracciones mayores		
fracciones menores		

7 Ordena las fracciones de la actividad anterior de menor a mayor.

..... ☐ ..... ☐ ..... ☐ ..... ☐ .....

8 En un teatro, vendieron el viernes tres quintas partes de las localidades, el sábado, dos quintas partes y el domingo, cuatro quintas partes.

- ¿Qué día vendieron más entradas?

  .....

- ¿Qué día vendieron menos?

  .....

9 Dibuja dos cuadrados iguales. Colorea dos octavos de uno y un cuarto de otro. ¿Cuál de las dos fracciones es mayor?

REFUERZO

Nombre: ..... Fecha: ..... Curso: .....

1 ¿Qué fracción representa el número de huevos que hay en cada huevera? Relaciona.

$\frac{5}{6}$



$\frac{2}{6}$

$\frac{3}{6}$

2 ¿Cuál de estas cajas representa $\frac{6}{8}$ de magdalenas? ¿Y cuatro sextos?

a)

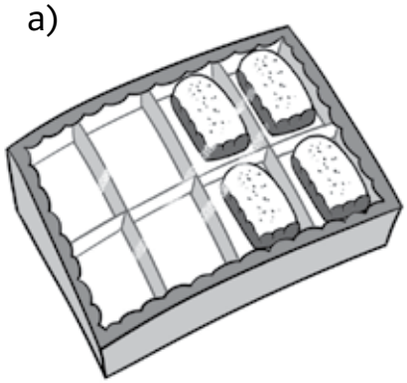

b)

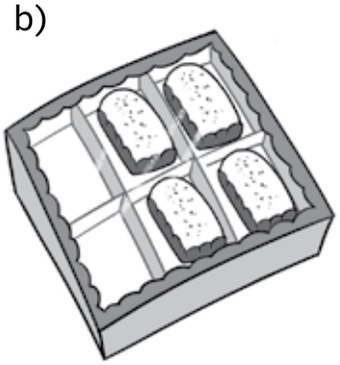

c)

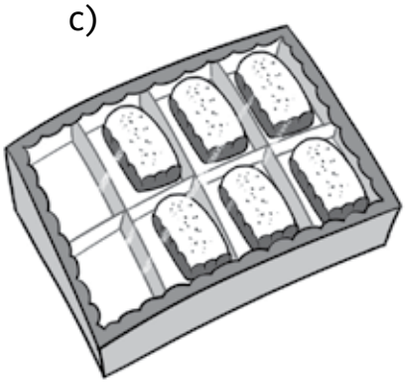

.....

3 Escribe con cifras estas fracciones.

a) Dos cuartos ▶

b) Siete octavos ▶

c) Tres novenos ▶

d) Cuatro sextos ▶

Nombre: ..... Fecha: ..... Curso: .....

4 Rodea de color azul las fracciones con numerador par y de color rojo las fracciones con denominador impar.

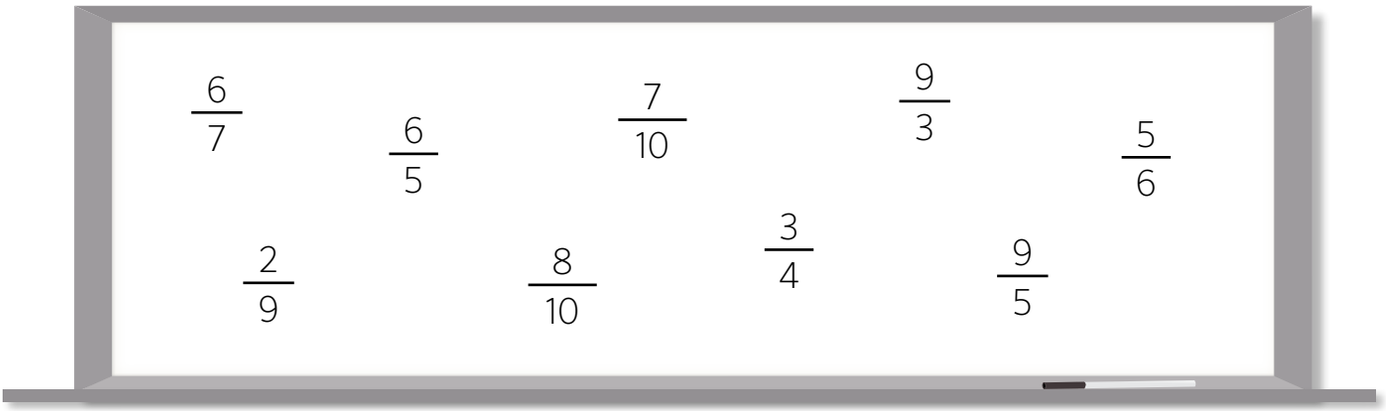

- ¿Cómo se leen las fracciones que no has rodeado?

.....

5 Compara las siguientes fracciones utilizando > o <.

$\frac{4}{5}$ ☐ $\frac{1}{5}$ $\frac{4}{9}$ ☐ $\frac{6}{9}$ $\frac{1}{3}$ ☐ $\frac{2}{3}$ $\frac{5}{6}$ ☐ $\frac{3}{6}$

6 Marca, en cada caso, la opción correcta.

- Una fracción mayor que $\frac{4}{4}$.

A. $\frac{2}{4}$ B. $\frac{1}{4}$ C. $\frac{5}{4}$ D. $\frac{3}{4}$

- Una fracción menor que tres séptimos.

A. $\frac{5}{7}$ B. $\frac{1}{7}$ C. $\frac{3}{7}$ D. $\frac{6}{7}$

- Una fracción cuyo denominador es el triple que su numerador.

A. $\frac{6}{3}$ B. $\frac{4}{8}$ C. $\frac{21}{7}$ D. $\frac{8}{24}$

AMPLIACIÓN

Nombre: ..... *Fecha:* ..... *Curso:* .....

1 Divide las siguientes figuras en partes iguales y colorea la fracción que se indica.

$\frac{5}{6}$ 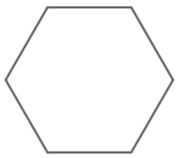

$\frac{3}{4}$

$\frac{6}{8}$ 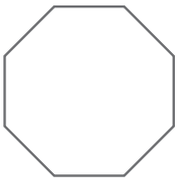

$\frac{5}{8}$ 

2 Observa los dibujos y completa la tabla.

A. 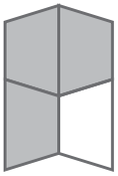

B. 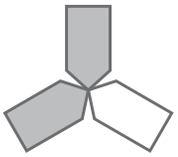

C.

D.

	fracción	se lee
A		
B		
C		
D		

3 Representa las fracciones y compáralas utilizando > o <.

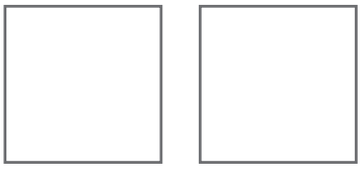

$\frac{2}{6}$ ☐ $\frac{5}{6}$

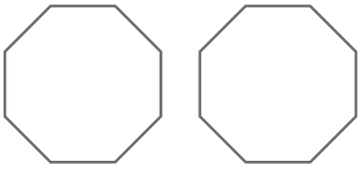

$\frac{6}{16}$ ☐ $\frac{3}{16}$

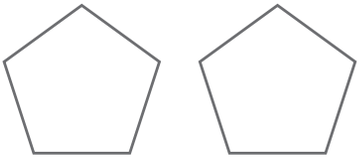

$\frac{4}{5}$ ☐ $\frac{1}{5}$
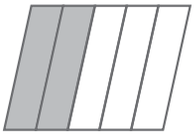
4 En cuales de estos dibujos está coloreado $\frac{1}{4}$ de la figura.