Nombre: ..... Fecha: ..... Curso: .....

1 Escribe el nombre de las principales unidades del relieve español.

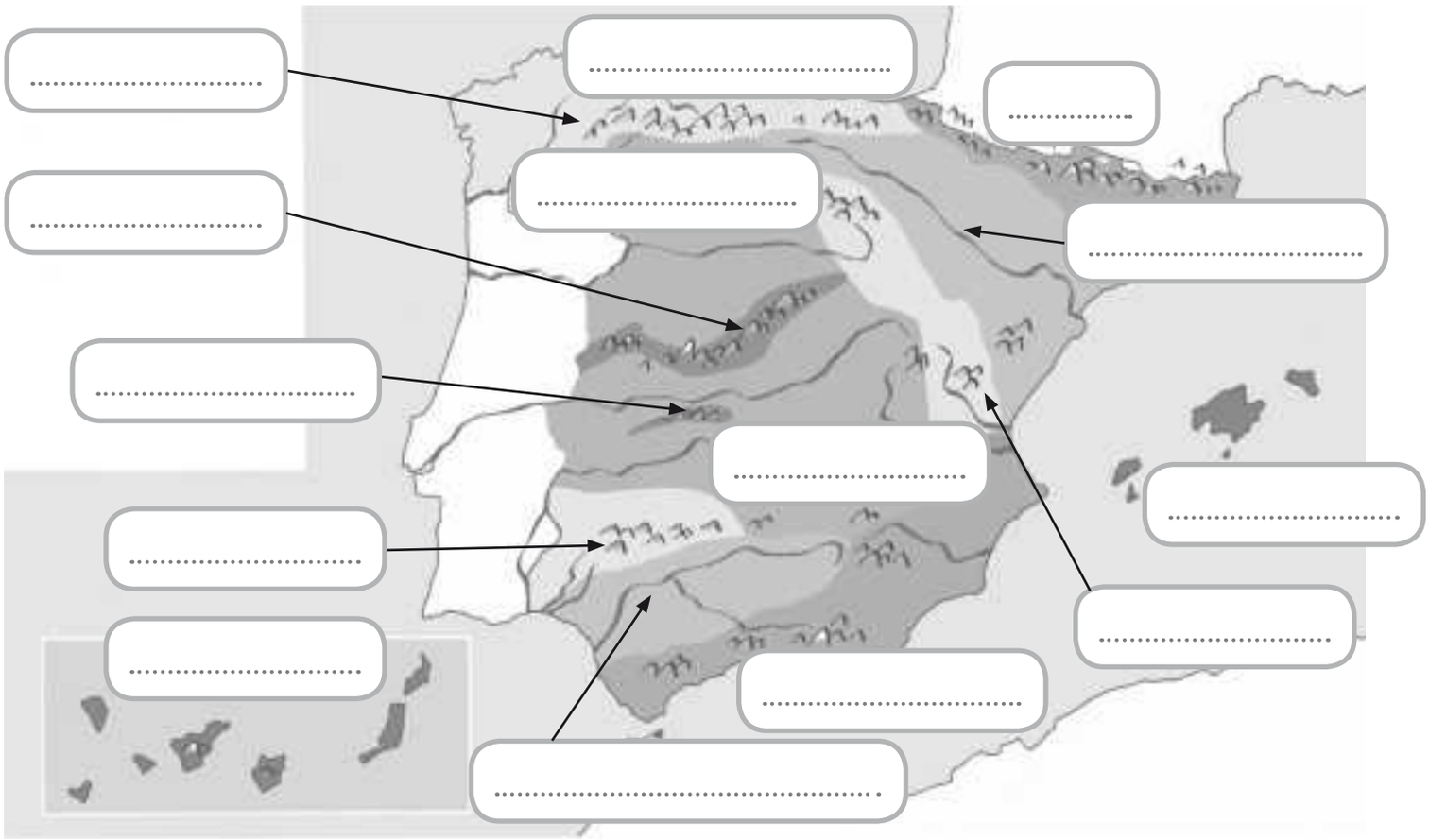

2 Anota las unidades que integran estos sectores de nuestro relieve.

Meseta Central

.....

Montañas que rodean la Meseta

.....

Cordilleras exteriores a la Meseta

.....

Depresiones

.....

Nombre: ..... Fecha: ..... Curso: .....

3 Completa la siguiente tabla con los ríos más importantes de cada vertiente.

MEDITERRÁNEA	ATLÁNTICA	CANTÁBRICA

4 Relaciona cada imagen con el tipo de paisaje al que pertenece. Después, responde a las preguntas.

....

a) ¿Dónde encontramos un paisaje mediterráneo?

.....

.....

b) ¿Qué especies vegetales predominan en el paisaje atlántico?

.....

c) ¿Qué factores intervienen en las características del paisaje de montaña?

.....

d) ¿Qué clima se da en el paisaje canario?

.....

Nombre: ..... *Fecha:* ..... *Curso:* .....

1 Completa el nombre de las principales unidades del relieve español.

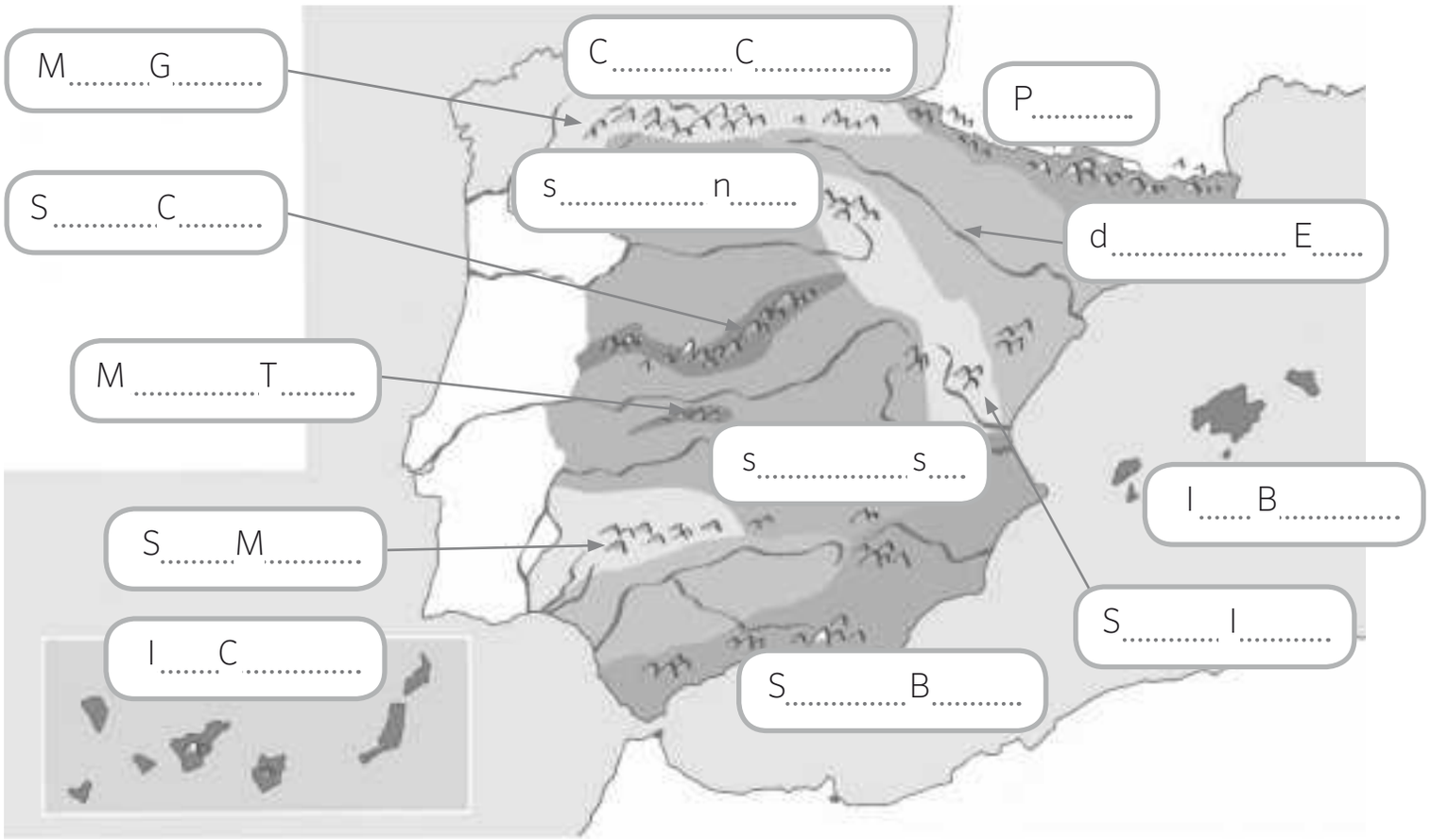

2 Lee las siguientes oraciones, indica las que son verdaderas y corrige las falsas.

- Las islas Baleares están situadas en el mar Cantábrico y su relieve forma parte del Sistema Ibérico.

.....

.....

- Las montañas del Sistema Central dividen la Meseta en dos partes: la submeseta norte y la submeseta sur.

.....

.....

- Los principales sistemas montañosos que rodean la Meseta son los Pirineos y los Montes de Toledo.

.....

.....

Nombre: ..... Fecha: ..... Curso: .....

1 Relaciona cada río con la vertiente a la que pertenece.

Guadalquivir	Vertiente mediterránea
Ebro	Vertiente atlántica
Nervión	Vertiente cantábrica
Segura	

2 Escribe donde corresponda el nombre de cada río.
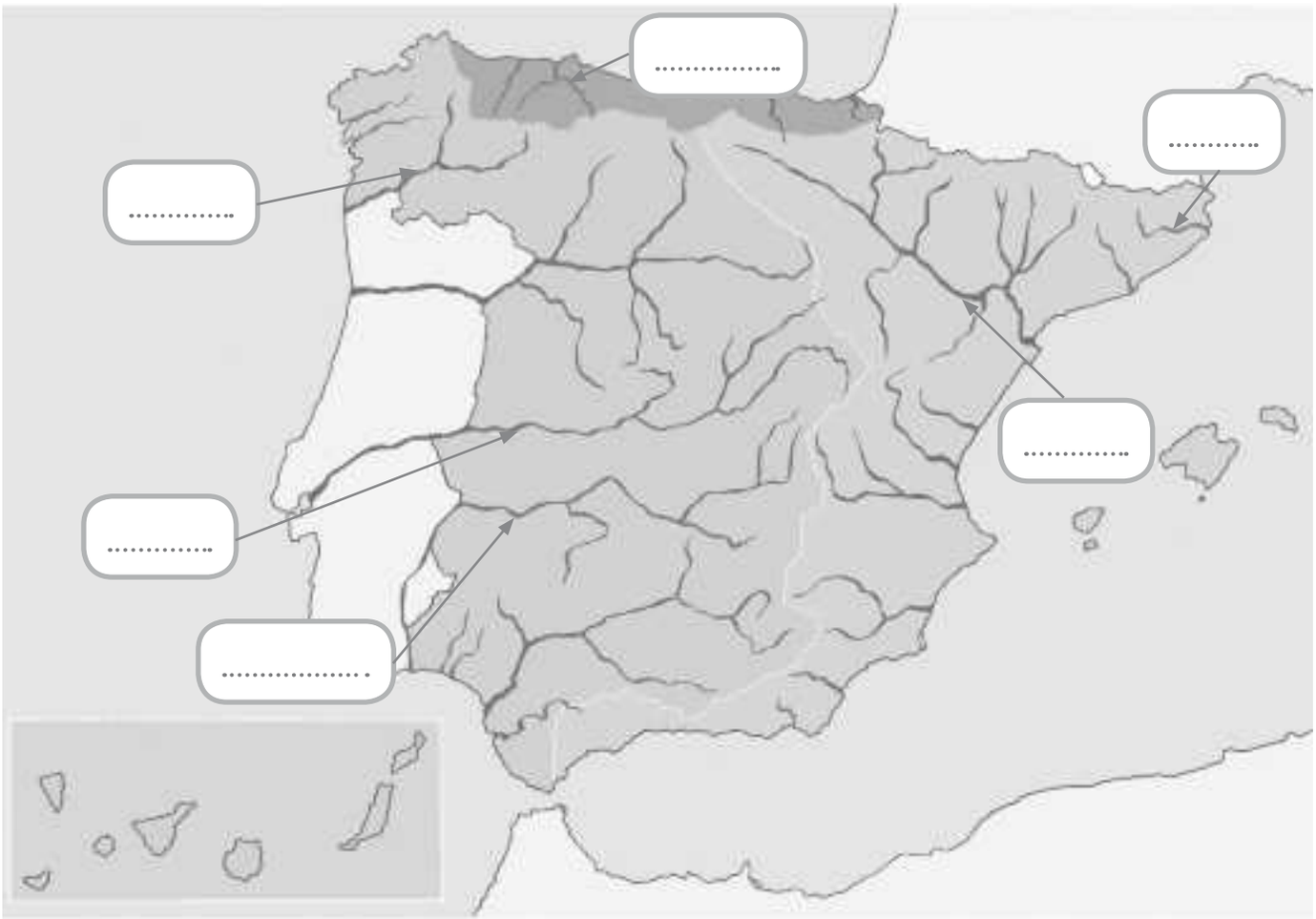
Ebro | Tajo | Miño | Guadiana | Ter | Nalón