LOS SERES VIVOS

Partes de las plantas

Nombre _____ Fecha _____

REPASA ESTA INFORMACIÓN.

La mayoría de las plantas están formadas por tres partes: la raíz, el tallo y las hojas. La raíz permite a la planta fijarse al suelo y absorber sustancias de él. El tallo la sostiene y facilita el transporte de sustancias de una parte a otra de la planta. En las hojas las plantas fabrican la mayor parte de su alimento.

1 **Dibuja las siguientes hojas.**

Con borde dentado y forma ovalada.	Con borde liso y forma lanceolada.	Con borde lobulado y forma triangular.

2 **Describe los tipos de tallos que observas en la fotografía y explica su diferencia.**

_____

_____

_____

_____

_____

3 **La lechuga, la zanahoria y la patata son tres alimentos vegetales muy comunes. ¿Qué partes de la planta son cada uno?**

- _____
- _____
- _____

05801

LOS SERES VIVOS

Partes de las plantas

Nombre _____ Fecha _____

REPASA ESTA INFORMACIÓN.

La mayoría de las plantas están formadas por tres partes: la raíz, el tallo y las hojas. La raíz permite a la planta fijarse al suelo y absorber sustancias de él. El tallo la sostiene y facilita el transporte de sustancias de una parte a otra de la planta. En las hojas las plantas fabrican la mayor parte de su alimento.

1 **Dibuja las siguientes hojas.**



Con borde dentado y forma ovalada.

Con borde liso y forma lanceolada.



Con borde lobulado y forma triangular.

2 **Describe los tipos de tallos que observas en la fotografía y explica su diferencia.**



hay tallos leñosos como los de los árboles, que están hechos de madera y tallos herbáceos que son los de las flores y la hierba

3 **La lechuga, la zanahoria y la patata son tres alimentos vegetales muy comunes. ¿Qué partes de la planta son cada uno?**

- En la lechuga nos comemos las hojas
- En la zanahoria, las raices y
- En la patata nos comemos el tronco