Nombre y apellidos: .....

Curso: ..... **Fecha:** .....

1 Rodea la respuesta que consideres más adecuada.

La altura de mi clase es: 3 m - 6 m - 10 m

La altura de un bebé recién nacido es: 3 m - 55 cm - 80 cm

2 Tengo una cinta de 220 cm. ¿Cuántos centímetros faltan para que mida 3 m?

.....

3 Estas son las alturas de seis personas:

YOLANDA	FÁTIMA	EDUARDO	ÁLVARO	CRISTINA	JAIME
1 m 64 cm	168 cm	1 m 81 cm	1 m 85 cm	170 cm	1 m 62 cm

Escribe sus nombres ordenados, según la altura, de mayor a menor.

1.º: ..... 3.º: ..... 5.º: .....

2.º: ..... 4.º: ..... 6.º: .....

4 Completa las tablas.

cm	m y cm
	2 m 4 cm
108 cm	
	3 m 6 cm
510 cm	

metros	km y m
1 076 m	
	3 km 8 m
2 005 m	
	5 km 85 m

5 ¿Qué casa está más cerca del colegio: la de Javier, que está a 2 450 metros o la de Carlos, que está a dos kilómetros y medio?

.....

© GRUPO ANAYA, S.A., Matemáticas 3.º Educación Primaria. Material fotocopiable autorizado.

Nombre y apellidos: .....

Curso: ..... **Fecha:** .....

6 Para poner riego automático en mi jardín, tengo una tubería que mide un metro setenta y tres centímetros, pero necesito una de nueve centímetros más. ¿Qué longitud de tubería necesito?

.....

7 Álvaro, con el brazo estirado, llega a una altura de 1 m 88 cm. Para tocar el borde superior de su estantería tiene que subirse a un taburete que mide 37 cm. ¿Cuál es la altura de la estantería?

.....

8 La familia de Ángel sale de excursión y recorre 5 km 250 m antes de comer, y 3 km 700 m, después. ¿Qué distancia han recorrido en total?

.....

9 De un rollo de alambre de treinta metros se han cortado 15 m y 80 cm. ¿Cuántos metros y centímetros quedan en el rollo?

.....

10 La milla utilizada por los marinos es una unidad de longitud igual a 1 852 metros. Un barco se encuentra a veinte millas del puerto. Expresa esa distancia en kilómetros y metros.

.....

© GRUPO ANAYA, S.A., Matemáticas 3.º Educación Primaria. Material fotocopiable autorizado.

Nombre y apellidos: .....

Curso: ..... **Fecha:** .....

1 Completa la tabla.

	7 kg	13 kg	18 kg	25 kg
MEDIOS KILOS				
CUARTOS DE KILO				

2 ¿Cuánto pagará Claudia por tres cuartos de kilo de queso?



.....

3 Completa.

1 kg 500 g = ... g + ... g = ... g

2 kg 450 g = ... g + ... g = ... g

3 kg 75 g = ... g + ... g = ... g

4 Margarita ha comprado un melón que pesa 1 kilo 750 gramos, y Manuel, otro melón que pesa medio kilo más. ¿Cuánto pesan los dos melones?

.....

5 Simón ha recogido una tonelada y 38 kilos de peras y media tonelada y 304 kilos de manzanas. ¿Cuántos kilos de fruta ha recogido en total?



.....

© GRUPO ANAYA, S.A., Matemáticas 3.º Educación Primaria. Material fotocopiable autorizado.

Nombre y apellidos: .....

Curso: ..... **Fecha:** .....

6 Completa la tabla.

	9 *l*	15 *l*	27 *l*	30 *l*
MEDIOS LITRO				
CUARTO DE LITRO				

7 ¿Cuántas botellas de cuarto de litro necesitas para llenar una de 2 litros?

.....

8 Expresa en centilitros.

Medio litro = ... *cl*

Cuarto de litro = ... *cl*

Tres cuarto de litro = ... *cl*

Un litro y cuarto = ... *cl*

Dos litros y medio = ... *cl*

Un litro y tres cuartos = ... *cl*

9 En un recipiente de tres litros de capacidad se ha echado un cuarto de litro de agua. ¿Cuántos centilitros faltan para llenarlo?



.....

10 Completa.

a) 3 *hl* + 500 *l* = ... *hl*

b) 56 *hl* 1300 *l* = ... *hl*

c) 103 *hl* 40 500 *l* = ... *hl*

d) 795 *hl* 20 000 *l* = ... *hl*

© GRUPO ANAYA, S.A., Matemáticas 3.º Educación Primaria. Material fotocopiable autorizado.