1 Escribe el número que corresponde.

Mi número de carné de la biblioteca tiene 36 decenas justas. → ☐

El número del portal de mi casa tiene 3 C y 8 U. → ☐

Mi amigo Marcos vive en el número anterior a 3 C y 2 D. → ☐

2 ¿Cuál era el número de la plaza del aparcamiento? Sigue las pistas.

Tenía un 3 en las centenas.

La cifra de las decenas era un 6 o un 9.

Empezaba por la misma cifra que terminaba.

La suma de sus cifras era 12.

3 Escribe el valor de la cifra 3 y ordena los números de mayor a menor.

382 → ☐ unidades.

234 → ☐ unidades.

132 → ☐ unidades.

236 → ☐ unidades.

173 → ☐ unidades.

305 → ☐ unidades.

☐ ○ ☐ ○ ☐ ○ ☐ ○ ☐ ○ ☐

4 Escribe el ordinal anterior.

← 13.º

← 17.º

← 11.º

← 10.º

← 6.º

← 12.º

© Grupo Anaya, S. A. Material fotocopiable autorizado.

5 Corrige las restas que están mal resueltas.

308	324	135	213	340
− 235	− 257	− 87	− 134	− 193
33	67	48	69	158
☐	☐	☐	☐	☐

6 Completa las etiquetas que faltan.

He pagado por todo 30 €. ¿Cuánto vale el estuche?



Mi madre ha pagado en total 40 €. ¿Cuánto vale la pelota?

7 ¿Cuánto les falta? Completa.

Tengo 1 billete de 5 € y 6 monedas de 2 €.

Me faltan ☐ euros.

Tengo 2 billetes de 10 € y 5 monedas de 1 €.

Me faltan ☐ euros.

Tengo 1 billete de 5 € y 2 monedas de 50 cts.

Me faltan ☐ euros.

© Grupo Anaya, S. A. Material fotocopiable autorizado.

4 Nombre y apellidos:

Fecha: Matemáticas 2.° **EV**

1 Escribe los números y cómo se leen.

300 + 20 + 5 → ☐

300 + 10 + 7 → ☐

2 Continúa las series como se indica:

+1 → 364 365 ☐ ☐ ☐ ☐ ☐ ☐ ☐

+2 → 321 323 ☐ ☐ ☐ ☐ ☐ ☐ ☐

3 Ordena estos números:

396 - 345 - 327 - 399 - 302 - 319

☐ > ☐ > ☐ > ☐ > ☐ > ☐

4 Escribe el ordinal que corresponde.

Miguel llegó detrás del 7.º →

Sandra llegó delante del 12.º →

5 Coloca y resta.

minuendo → 306
sustraendo → 267

minuendo → 361
sustraendo → 148

minuendo → 337
sustraendo → 169

© Grupo Anaya, S. A. Material fotocopiable autorizado.

6 Lee y colorea la respuesta correcta.

- Puedo reunir 2 euros con…

5 monedas de 20 cts.	4 monedas de 50 cts.	8 monedas de 20 cts.

- Puedo reunir 10 euros con…

5 monedas de 2 €	5 monedas de 1 €	10 monedas de 10 cts.

- Puedo reunir 20 euros con…

3 billetes de 5 €	10 monedas de 1 €	4 billetes de 5 €

7 Colorea del mismo color los monederos que tienen igual cantidad.

3 € 50 cts.	4 €	3 € 5 cts.	400 cts.



475 cts.	305 cts.	350 cts.	4 € 75 cts.

8 Rodea el dinero que necesitas en cada caso y completa.



Sobran ☐ € y ☐ céntimos.

Sobran ☐ € y ☐ céntimos.

© Grupo Anaya, S. A. Material fotocopiable autorizado.

1 Completa y escribe cómo se leen los números.

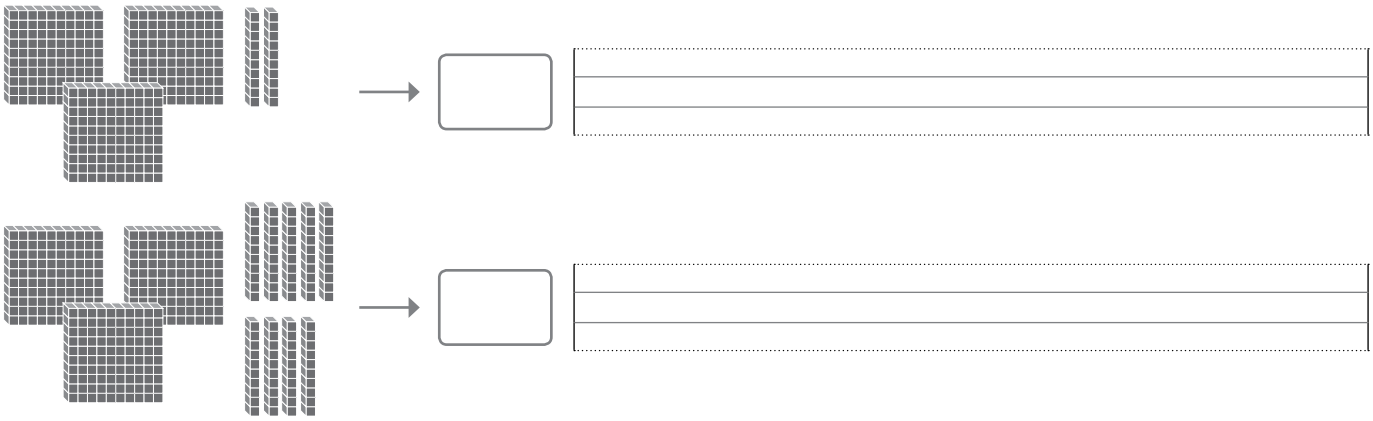

2 Escribe la serie numérica desde el 290 al 316.

- Colorea el número anterior a 300.
- Rodea el número posterior a 314.
- Tacha el número que tiene 3 U menos que 297.

290								
								316

3 Escribe el ordinal que corresponda.

Patricia vive un piso debajo del 8.º →

Saúl vive un piso encima del 11.º →

Sandra vive entre el 14.º y el 16.º →

Juan vive un piso encima del 19.º →

© Grupo Anaya, S. A. Material fotocopiable autorizado.

4 Resta.

3 5 0	3 0 8	2 1 7	3 7 4	3 5 9
− 1 8 0	− 2 3 5	− 1 4 5	− 1 9 2	− 2 9 6
☐	☐	☐	☐	☐

5 Resta y rodea los resultados con 2 centenas.

2 5 2	3 1 6	3 0 7	3 4 8	3 2 9
− 1 7 0	− 6 4	− 1 2 5	− 2 8 6	− 2 7 2
☐	☐	☐	☐	☐

6 ¿Cuánto me falta para tener 6 euros? Completa.

Tengo 2 monedas de 2 € ⟶ Me faltan ☐ euros.

Tengo 5 monedas de 1 € ⟶ Me falta ☐ euro.

Tengo 4 monedas de 50 cts. ⟶ Me faltan ☐ euros.

7 ¿Cuánto dinero tiene cada niño? Responde.

Miguel tiene ☐ euros.

Adriana tiene ☐ euros.



Andrés tiene ☐ euros.

¿Cuántos euros más tiene Andrés que Miguel? ☐ euros.

© Grupo Anaya, S. A. Material fotocopiable autorizado.

03899

4 Nombre y apellidos: Fecha: Matemáticas 2.º **R**

1 Completa y escribe cómo se leen los números.

→ 320 trescientos veinte

→ 390 trescientos noventa

2 Escribe la serie numérica desde el 290 al 316.

- Colorea el número anterior a 300.
- Rodea el número posterior a 314.
- Tacha el número que tiene 3 U menos que 297.

290	291	292	293	~~294~~	295	296	297	298
299	300	301	302	303	304	305	306	307
308	309	310	311	312	313	314	315	316

3 Escribe el ordinal que corresponda.

Patricia vive un piso debajo del 8.º → séptimo

Saúl vive un piso encima del 11.º → duodécimo

Sandra vive entre el 14.º y el 16.º → decimoquinto

Juan vive un piso encima del 19.º → vigésimo

© Grupo Anaya, S.A. Material fotocopiable autorizado.

48

Área fotocopiable

REFUERZO

4 Nombre y apellidos: Matemáticas 2.º **R**

4 Resta.

350 − 180 = 170	308 − 235 = 73	217 − 145 = 72	374 − 192 = 182	359 − 296 = 63

5 Resta y rodea los resultados con 2 centenas.

252 − 170 = 82	316 − 64 = 252	307 − 125 = 182	348 − 286 = 62	329 − 272 = 57

6 ¿Cuánto me falta para tener 6 euros? Completa.

Tengo 2 monedas de 2 € → Me faltan 2 euros.

Tengo 5 monedas de 1 € → Me falta 1 euro.

Tengo 4 monedas de 50 cts. → Me faltan 4 euros.

7 ¿Cuánto dinero tiene cada niño? Responde.

Miguel tiene 50 euros.

Adriana tiene 52 euros.

Andrés tiene 95 euros.

¿Cuántos euros más tiene Andrés que Miguel? 45 euros.

© Grupo Anaya, S.A. Material fotocopiable autorizado.

49

REFUERZO

Área fotocopiable

4 Nombre y apellidos: Fecha: Matemáticas 2.º **A**

1 Escribe el número que corresponde.

Mi número de carné de la biblioteca tiene 36 decenas justas. → 360

El número del portal de mi casa tiene 3 C y 8 U. → 308

Mi amigo Marcos vive en el número anterior a 3 C y 2 D. → 319

2 ¿Cuál era el número de la plaza del aparcamiento? Sigue las pistas.

Tenía un 3 en las centenas.

La cifra de las decenas era un 6 o un 9.

Empezaba por la misma cifra que terminaba.

La suma de sus cifras era 12.

363

3 Escribe el valor de la cifra 3 y ordena los números de mayor a menor.

382 → 300 unidades. 236 → 30 unidades.

234 → 30 unidades. 173 → 3 unidades.

132 → 30 unidades. 305 → 30 unidades.

382 > 305 > 236 > 234 > 173 > 132

4 Escribe el ordinal anterior.

duodécimo ← 13.º noveno ← 10.º

decimosexto ← 17.º quinto ← 6.º

décimo ← 11.º undécimo ← 12.º

© Grupo Anaya, S.A. Material fotocopiable autorizado.

50

Área fotocopiable

AMPLIACIÓN

4 Nombre y apellidos: Matemáticas 2.º **A**

5 Corrige las restas que están mal resueltas.

308 − 235 = 33	324 − 257 = 67	135 − 87 = 48	213 − 134 = 69	340 − 193 = 158
73			79	147

6 Completa las etiquetas que faltan.

He pagado por todo 30 €. ¿Cuánto vale el estuche?

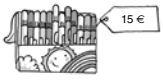

Mi madre ha pagado en total 40 €. ¿Cuánto vale la pelota?

7 ¿Cuánto les falta? Completa.

Tengo 1 billete de 5 € y 6 monedas de 2 €.

Me faltan 6 euros.

Tengo 2 billetes de 10 € y 5 monedas de 1 €.

Me faltan 5 euros.

Tengo 1 billete de 5 € y 2 monedas de 50 cts.

Me faltan 6 euros.

© Grupo Anaya, S.A. Material fotocopiable autorizado.

51

AMPLIACIÓN

Área fotocopiable

© Grupo Anaya, S.A. Material fotocopiable autorizado.

03899

4 Nombre y apellidos:
Fecha: Matemáticas 2.º **EV**

1 Escribe los números y cómo se leen.

300 + 20 + 5 ⟶ 325 trescientos veinticinco

300 + 10 + 7 ⟶ 317 trescientos diecisiete

2 Continúa las series como se indica:

+1 → 364 365 366 367 368 369 370 371 372

+2 → 321 323 325 327 329 331 333 335 337

3 Ordena estos números:

396 - 345 - 327 - 399 - 302 - 319

399 > 396 > 345 > 327 > 319 > 302

4 Escribe el ordinal que corresponde.

Miguel llegó detrás del 7.º ⟶ octavo

Sandra llegó delante del 12.º ⟶ undécima

5 Coloca y resta.

minuendo ⟶ 306
sustraendo ⟶ 267

	3	0	6
−	2	6	7
		3	9

minuendo ⟶ 361
sustraendo ⟶ 148

	3	6	1
−	1	4	8
	2	1	3

minuendo ⟶ 337
sustraendo ⟶ 169

	3	3	7
−	1	6	9
	1	6	8

© Grupo Anaya, S.A. Material fotocopiable autorizado.

4 Nombre y apellidos: **EV**
Matemáticas 2.º

6 Lee y colorea la respuesta correcta.

• Puedo reunir 2 euros con…

5 monedas de 20 cts. | **4 monedas de 50 cts.** | 8 monedas de 20 cts.

• Puedo reunir 10 euros con…

5 monedas de 2 € | 5 monedas de 1 € | 10 monedas de 10 cts.

• Puedo reunir 20 euros con…

3 billetes de 5 € | 10 monedas de 1 € | **4 billetes de 5 €**

7 Colorea del mismo color los monederos que tienen igual cantidad.

3 € 50 cts.	4 €	3 € 5 cts.	400 cts.
n	am	v	am

475 cts.	305 cts.	350 cts.	4 € 75 cts.
az	v	n	az

8 Rodea el dinero que necesitas en cada caso y completa.

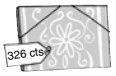

Sobran 5 € y 50 céntimos.

Sobran 7 € y 50 céntimos.

© Grupo Anaya, S.A. Material fotocopiable autorizado.

© Grupo Anaya, S. A. Material fotocopiable autorizado.