1 Completa y escribe el número anterior.

☐	←−1	1	7	9	ciento setenta y nueve
☐	←−1	1	0	7	.....
☐	←−1				ciento setenta y cinco
☐	←−1	1	8	2	.....

2 Escribe los números siguientes y ordénalos de menor a mayor.

Tiene 1 C y 3 U → ☐

Tiene 1 C, 7 D y 3 U → ☐

Anterior a 180 → ☐

Tiene 3 U más que 123 → ☐

Tiene 1 C y 4 D → ☐

Tiene 1 D más que 90 → ☐

Posterior a 167 → ☐

Anterior a 110 → ☐

☐ < ☐ < ☐ < ☐ < ☐ < ☐ < ☐ < ☐

3 Suma.

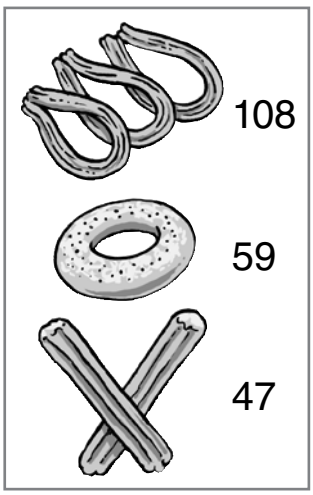

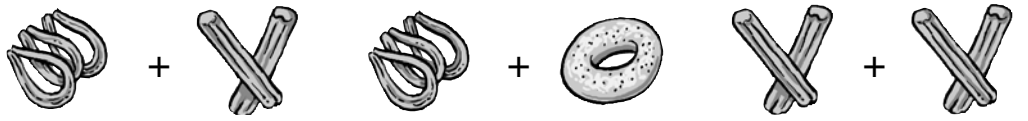

© Grupo Anaya, S. A. Material fotocopiable autorizado.

4 Suma y aplica la propiedad conmutativa.

Sumandos: 119 y 58

Sumandos: 36 y 127

5 Resuelve aplicando la propiedad asociativa.

Entre mi hermano y yo, hemos bebido 4 vasos de leche, 6 vasos de agua y 5 de zumo ¿Cuántos vasos hemos bebido en total?

__ + __ + __ = __ + __ = __

__ + __ + __ = __ + __ = __

6 Lee y resuelve.

En el torneo de mus, había 17 mujeres más que hombres.
¿Cuántas mujeres había si se sabe que jugaron 49 hombres?

© Grupo Anaya, S. A. Material fotocopiable autorizado.

1 Completa y escribe cómo se leen los números.

115

126



2 Dibuja estos números en los ábacos:

131 - 108 - 129



3 Escribe cómo se leen los números de la actividad anterior.



4 Coloca y calcula.

Sumandos: 127 y 39	Sumandos: 105 y 78	Sumandos: 43 y 138	Sumandos: 128 + 56

© Grupo Anaya, S. A. Material fotocopiable autorizado.

5 Completa para cumplir la propiedad conmutativa y calcula.

12 + 8 = 8 + ☐ = ☐

10 + ☐ = 40 + ☐ = ☐

20 + ☐ = 30 + ☐ = ☐

☐ + 9 = ☐ + 6 = ☐

6 Aplica la propiedad asociativa.

13 + 7 + 12

☐ + ☐ = ☐

13 + 7 + 12

☐ + ☐ = ☐

7 Escribe el mes anterior o posterior en cada caso.

marzo → ☐

☐ ← enero

septiembre → ☐

☐ ← julio

julio → ☐

☐ ← marzo

8 Completa escribiendo la fecha.

HOY		MAÑANA
Lunes, 30 de abril		☐	
Viernes, 30 de agosto		☐	
Domingo, 13 de mayo		☐	

© Grupo Anaya, S. A. Material fotocopiable autorizado.

03897

2 Nombre y apellidos: Fecha: Matemáticas 2.º **R**

1 ¿Cuántas centenas hay? Completa.

2 centenas = 20 decenas.

5 centenas = 50 decenas.

2 Relaciona.

- Ciento sesenta y tres
- Ciento cuarenta y dos
- Ciento treinta y seis

3 Escribe cómo se leen estos números:

104 → ciento cuatro

170 → ciento setenta

128 → ciento veintiocho

4 Suma y colorea las paellas de los resultados que sean mayores que 99.

66 + 36	125 + 49	47 + 29	157 + 13	68 + 24
102	174	76	170	92

© Grupo Anaya, S.A. Material fotocopiable autorizado.

28 Área fotocopiable REFUERZO

2 Nombre y apellidos: Matemáticas 2.º **R**

5 Suma y colorea las mochilas con resultados iguales.

az 14 + 36 = 50 · r 25 + 28 = 53 · az 36 + 14 = 50 · r 28 + 25 = 53

6 Suma y comprueba si los resultados son iguales.

9 + 11 + 2 → 20 + 2 = 22 · 9 + 13 = 22

12 + 6 + 6 → 18 + 6 = 24 · 12 + 12 = 24

7 Colorea qué día es hoy siguiendo las instrucciones.

Ayer fue miércoles → rojo (mo)

Mañana será lunes → azul (r)

Ayer fue viernes → verde

Mañana será martes → morado

lunes · martes · miércoles · jueves · viernes · sábado · domingo

8 Observa un calendario, escribe los meses que tienen 30 días y contesta.

Abril, junio, septiembre y noviembre.

¿Qué mes es el que tiene menos de 30 días? Febrero.

© Grupo Anaya, S.A. Material fotocopiable autorizado.

29 Área fotocopiable REFUERZO

2 Nombre y apellidos: Fecha: Matemáticas 2.º **A**

1 Completa y escribe el número anterior.

178 ←−1 [1 7 9] ciento setenta y nueve

106 ←−1 [1 0 7] ciento siete

174 ←−1 [1 7 5] ciento setenta y cinco

181 ←−1 [1 8 2] ciento ochenta y dos

2 Escribe los números siguientes y ordénalos de menor a mayor.

Tiene 1 C y 3 U → 103 · Tiene 1 C, 7 D y 3 U → 173

Anterior a 180 → 179 · Tiene 3 U más que 123 → 126

Tiene 1 C y 4 D → 140 · Tiene 1 D más que 90 → 100

Posterior a 167 → 168 · Anterior a 110 → 109

100 < 103 < 109 < 126 < 140 < 168 < 173 < 179

3 Suma.

108 · 59 · 47

108 + 47 = 155 · 108 + 59 = 167 · 47 + 47 = 94

© Grupo Anaya, S.A. Material fotocopiable autorizado.

30 Área fotocopiable AMPLIACIÓN

2 Nombre y apellidos: Matemáticas 2.º **A**

4 Suma y aplica la propiedad conmutativa.

Sumandos: 119 y 58

119 + 58 = 177 · 58 + 119 = 177

Sumandos: 36 y 127

36 + 127 = 163 · 127 + 36 = 163

5 Resuelve aplicando la propiedad asociativa.

Entre mi hermano y yo, hemos bebido 4 vasos de leche, 6 vasos de agua y 5 de zumo ¿Cuántos vasos hemos bebido en total?

4 + 6 + 5 = 10 + 5 = 15

4 + 6 + 5 = 4 + 11 = 15

hemos bebido 15 vasos

6 Lee y resuelve.

En el torneo de mus, había 17 mujeres más que hombres.
¿Cuántas mujeres había si se sabe que jugaron 49 hombres?

49 hombres

17 mujeres más

49 + 17 = 66

Había 66 mujeres.

© Grupo Anaya, S.A. Material fotocopiable autorizado.

31 Área fotocopiable AMPLIACIÓN

© Grupo Anaya, S.A. Material fotocopiable autorizado.

03897

2 Nombre y apellidos:
Fecha: Matemáticas 2.º **EV**

1 Completa y escribe cómo se leen los números.

115 — ciento quince

126 — ciento veintiséis

2 Dibuja estos números en los ábacos:

131 - 108 - 129



3 Escribe cómo se leen los números de la actividad anterior.

131 → ciento treinta y uno

108 → ciento ocho

129 → ciento veintinueve

4 Coloca y calcula.

Sumandos: 127 y 39	Sumandos: 105 y 78	Sumandos: 43 y 138	Sumandos: 128 + 56
127	105	43	128
+ 39	+ 78	+ 138	+ 56
166	183	181	184

© Grupo Anaya, S.A. Material fotocopiable autorizado.

32 Área fotocopiable EVALUACIÓN

2 Nombre y apellidos: **EV**
Matemáticas 2.º

5 Completa para cumplir la propiedad conmutativa y calcula.

12 + 8 = 8 + 12 = 20

10 + 40 = 40 + 10 = 50

20 + 30 = 30 + 20 = 50

6 + 9 = 9 + 6 = 15

6 Aplica la propiedad asociativa.

13 + 7 + 12
30 + 12 = 32

13 + 7 + 12
13 + 19 = 32

7 Escribe el mes anterior o posterior en cada caso.

marzo → abril

diciembre ← enero

septiembre → octubre

junio ← julio

julio → agosto

febrero ← marzo

8 Completa escribiendo la fecha.

HOY	MAÑANA		
Lunes, 30 de abril	Martes	1	de mayo
Viernes, 30 de agosto	Sábado	31	de agosto
Domingo, 13 de mayo	Lunes	14	de mayo

© Grupo Anaya, S.A. Material fotocopiable autorizado.

33 Área fotocopiable EVALUACIÓN

© Grupo Anaya, S. A. Material fotocopiable autorizado.