UNIVERSIDADES PÚBLICAS DE LA COMUNIDAD DE MADRID
EVALUACIÓN PARA EL ACCESO A LAS ENSEÑANZAS
UNIVERSITARIAS OFICIALES DE GRADO

Curso **2018-2019**

MATERIA: MATEMÁTICAS APLICADAS A LAS CIENCIAS SOCIALES II

INSTRUCCIONES GENERALES Y CALIFICACIÓN

Después de leer atentamente todas las preguntas, el alumno deberá escoger **una** de las dos opciones propuestas y responder razonadamente a las cuestiones de la opción elegida.
Para la realización de esta prueba se puede utilizar calculadora, siempre que no tenga NINGUNA de las características siguientes: posibilidad de transmitir datos, ser programable, pantalla gráfica, almacenamiento de datos alfanuméricos, operaciones con matrices, cálculo de determinantes, cálculo de derivadas, cálculo de integrales o resolución de ecuaciones. Cualquiera que tenga alguna de estas características será retirada.
CALIFICACIÓN: Cada pregunta se valorará sobre 2 puntos.
TIEMPO: 90 minutos.

OPCIÓN A

Ejercicio 1. (Calificación máxima: 2 puntos)
Se consideran las siguientes matrices

$$A = \begin{pmatrix} k & 1 & 2 \\ 1 & 4 & 3 \\ 0 & 0 & 7 \end{pmatrix}, \qquad B = \begin{pmatrix} 1 & 0 & 1 \\ 0 & 1 & 0 \\ 4 & 0 & 3 \end{pmatrix} \quad \text{y} \quad C = \begin{pmatrix} 1 & 1 \\ 0 & -1 \\ 1 & 0 \end{pmatrix}$$

a) Obténgase el valor de la constante k para que el determinante de la matriz $A - 2B$ sea nulo.
b) Determínese si las matrices C y $(C^t \cdot C)$, donde C^t denota la matriz traspuesta de C, son invertibles. En caso afirmativo, calcúlense las inversas.

Ejercicio 2. (Calificación máxima: 2 puntos)
Una voluntaria quiere preparar helado artesano y horchata de auténtica chufa para un rastrillo solidario. La elaboración de cada litro de helado lleva 1 hora de trabajo y la elaboración de un litro de horchata 2 horas. Como la horchata no necesita leche, sabe que puede preparar hasta 15 litros de helado con la leche que tiene. Para que haya suficiente para todos los asistentes, tiene que preparar al menos 10 litros entre helado y horchata, en un máximo de 20 horas.
a) Represéntese la región del plano determinada por las restricciones anteriores.
b) Si el beneficio por litro es de 25 euros para el helado y 12 euros para la horchata, obténgase la cantidad de cada producto que se deberá preparar para maximizar el beneficio y calcúlese el beneficio máximo que podría obtenerse.

Ejercicio 3. (Calificación máxima: 2 puntos)
La derivada de una función real de variable real, $f(x)$, viene dada por la expresión:

$$f'(x) = 2x^2 - 4x - 6$$

a) Obténgase la expresión de la función $f(x)$ sabiendo que pasa por el punto $(0, 3)$.
b) Determínense los extremos relativos de la función $f(x)$ indicando si corresponden a máximos o mínimos relativos y estúdiese la concavidad ($\bigcup$) y convexidad ($\bigcap$) de esta función.

Ejercicio 4. (Calificación máxima: 2 puntos)
Sean A y B dos sucesos de un experimento aleatorio tales que $P(A) = 0'6$, $P(B) = 0'8$ y $P(A \cap \overline{B}) = 0'1$.
a) Calcúlese la probabilidad de que ocurra el suceso A si no ha ocurrido el suceso B y determínese si los sucesos A y $\overline{B}$ son independientes. $\overline{B}$ denota el complementario del suceso B.
b) Obténgase la probabilidad de que ocurra alguno de los dos sucesos, A o B.

Ejercicio 5. (Calificación máxima: 2 puntos)
El precio mensual de las clases de Pilates en una región se puede aproximar mediante una variable aleatoria con distribución normal de media μ euros y varianza 49 euros^2.
a) Seleccionada una muestra aleatoria simple de 64 centros en los que se imparte este tipo de clases, el precio medio mensual observado fue de 34 euros. Obténgase un intervalo de confianza al 99'2 % para estimar el precio medio mensual, μ, de las clases de Pilates.
b) Determínese el tamaño muestral mínimo que debería tener una muestra aleatoria simple para que el error máximo cometido en la estimación de la media sea como mucho de 3 euros, con una confianza del 95 %.

OPCIÓN B

Ejercicio 1. (Calificación máxima: 2 puntos)
Se considera el siguiente sistema de ecuaciones lineales dependiente de un parámetro real m:

$$\left.\begin{array}{rcl} -x+y+z & = & 0 \\ x+my-z & = & 0 \\ x-y-mz & = & 0 \end{array}\right\}$$

a) Determínense los valores del parámetro real m para que el sistema tenga soluciones diferentes a la solución trivial $x = y = z = 0$.
b) Resuélvase el sistema para $m = 1$.

Ejercicio 2. (Calificación máxima: 2 puntos)
Se considera la función real de variable real:

$$f(x) = \frac{8}{x^2+4}$$

a) Determínense los intervalos de crecimiento y decrecimiento de $f(x)$ y obténganse sus asíntotas verticales y horizontales, si las tuviese.
b) Obténgase la ecuación de la recta tangente a la gráfica en el punto de abscisa $x = 2$.

Ejercicio 3. (Calificación máxima: 2 puntos)

La función real de variable real, $f(x)$, se define según la siguiente expresión:

$$f(x) = \begin{cases} e^x + k & \text{si } x \leq 0, \\ 1 - x^2 & \text{si } 0 < x \leq 3, \\ \dfrac{1}{x-3} & \text{si } x > 3. \end{cases}$$

a) Analícese la continuidad de la función en todo su dominio según los valores de k.
b) Considerando $k = 0$, obténgase el área del recinto acotado delimitado por la función $f(x)$, el eje de abscisas y las rectas $x = -1$ y $x = 1$.

Ejercicio 4. (Calificación máxima: 2 puntos)
De un estudio realizado en una región, se deduce que la probabilidad de que un niño de primaria juegue con consolas de videojuegos más tiempo del recomendado por los especialistas es 0'60. Entre estos niños, la probabilidad de fracaso escolar se eleva a 0'30 mientras que, si no juegan más tiempo del recomendado, la probabilidad de fracaso escolar es 0'15. Seleccionado un niño al azar de esta región,

a) Obténgase la probabilidad de que tenga fracaso escolar.
b) Si tiene fracaso escolar, determínese cuál es la probabilidad de que no juegue con estas consolas más tiempo del recomendado.

Ejercicio 5. (Calificación máxima: 2 puntos)
El peso de las mochilas escolares de los niños de 5º y 6º de primaria, medido en kilogramos, puede aproximarse por una variable aleatoria con distribución normal de media μ kilogramos y desviación típica $\sigma = 1'5$ kilogramos.
a) En un estudio se tomó una muestra aleatoria simple de dichas mochilas escolares y se estimó el peso medio utilizando un intervalo de confianza del 95 %. La amplitud de este intervalo resultó ser 0'49 kilogramos. Obténgase el número de mochilas seleccionadas en la muestra.
b) Supóngase que $\mu = 6$ kilogramos. Seleccionada una muestra aleatoria simple de 225 mochilas escolares, calcúlese la probabilidad de que el peso medio muestral supere los 5'75 kilogramos, que es la cantidad máxima recomendada para los escolares de estos cursos.

ÁREAS BAJO LA DISTRIBUCIÓN DE PROBABILIDAD NORMAL ESTÁNDAR, N(0, 1)

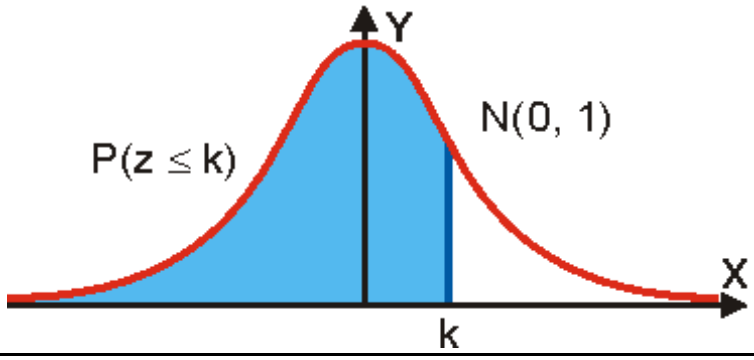

z	0	0,01	0,02	0,03	0,04	0,05	0,06	0,07	0,08	0,09
0,0	0,5000	0,5040	0,5080	0,5120	0,5160	0,5199	0,5239	0,5279	0,5319	0,5359
0,1	0,5398	0,5438	0,5478	0,5517	0,5557	0,5596	0,5636	0,5675	0,5714	0,5753
0,2	0,5793	0,5832	0,5871	0,5910	0,5948	0,5987	0,6026	0,6064	0,6103	0,6141
0,3	0,6179	0,6217	0,6255	0,6293	0,6331	0,6368	0,6406	0,6443	0,6480	0,6517
0,4	0,6554	0,6591	0,6628	0,6664	0,6700	0,6736	0,6772	0,6808	0,6844	0,6879
0,5	0,6915	0,6950	0,6985	0,7019	0,7054	0,7088	0,7123	0,7157	0,7190	0,7224
0,6	0,7257	0,7291	0,7324	0,7357	0,7389	0,7422	0,7454	0,7486	0,7517	0,7549
0,7	0,7580	0,7611	0,7642	0,7673	0,7704	0,7734	0,7764	0,7794	0,7823	0,7852
0,8	0,7881	0,7910	0,7939	0,7967	0,7995	0,8023	0,8051	0,8078	0,8106	0,8133
0,9	0,8159	0,8186	0,8212	0,8238	0,8264	0,8289	0,8315	0,8340	0,8365	0,8389
1,0	0,8413	0,8438	0,8461	0,8485	0,8508	0,8531	0,8554	0,8577	0,8599	0,8621
1,1	0,8643	0,8665	0,8686	0,8708	0,8729	0,8749	0,8770	0,8790	0,8810	0,8830
1,2	0,8849	0,8869	0,8888	0,8907	0,8925	0,8944	0,8962	0,8980	0,8997	0,9015
1,3	0,9032	0,9049	0,9066	0,9082	0,9099	0,9115	0,9131	0,9147	0,9162	0,9177
1,4	0,9192	0,9207	0,9222	0,9236	0,9251	0,9265	0,9279	0,9292	0,9306	0,9319
1,5	0,9332	0,9345	0,9357	0,9370	0,9382	0,9394	0,9406	0,9418	0,9429	0,9441
1,6	0,9452	0,9463	0,9474	0,9484	0,9495	0,9505	0,9515	0,9525	0,9535	0,9545
1,7	0,9554	0,9564	0,9573	0,9582	0,9591	0,9599	0,9608	0,9616	0,9625	0,9633
1,8	0,9641	0,9649	0,9656	0,9664	0,9671	0,9678	0,9686	0,9693	0,9699	0,9706
1,9	0,9713	0,9719	0,9726	0,9732	0,9738	0,9744	0,9750	0,9756	0,9761	0,9767
2,0	0,9772	0,9778	0,9783	0,9788	0,9793	0,9798	0,9803	0,9808	0,9812	0,9817
2,1	0,9821	0,9826	0,9830	0,9834	0,9838	0,9842	0,9846	0,9850	0,9854	0,9857
2,2	0,9861	0,9864	0,9868	0,9871	0,9875	0,9878	0,9881	0,9884	0,9887	0,9890
2,3	0,9893	0,9896	0,9898	0,9901	0,9904	0,9906	0,9909	0,9911	0,9913	0,9916
2,4	0,9918	0,9920	0,9922	0,9925	0,9927	0,9929	0,9931	0,9932	0,9934	0,9936
2,5	0,9938	0,9940	0,9941	0,9943	0,9945	0,9946	0,9948	0,9949	0,9951	0,9952
2,6	0,9953	0,9955	0,9956	0,9957	0,9959	0,9960	0,9961	0,9962	0,9963	0,9964
2,7	0,9965	0,9966	0,9967	0,9968	0,9969	0,9970	0,9971	0,9972	0,9973	0,9974
2,8	0,9974	0,9975	0,9976	0,9977	0,9977	0,9978	0,9979	0,9979	0,9980	0,9981
2,9	0,9981	0,9982	0,9982	0,9983	0,9984	0,9984	0,9985	0,9985	0,9986	0,9986
3,0	0,9987	0,9987	0,9987	0,9988	0,9988	0,9989	0,9989	0,9989	0,9990	0,9990
3,1	0,9990	0,9991	0,9991	0,9991	0,9992	0,9992	0,9992	0,9992	0,9993	0,9993
3,2	0,9993	0,9993	0,9994	0,9994	0,9994	0,9994	0,9994	0,9995	0,9995	0,9995
3,3	0,9995	0,9995	0,9995	0,9996	0,9996	0,9996	0,9996	0,9996	0,9996	0,9997
3,4	0,9997	0,9997	0,9997	0,9997	0,9997	0,9997	0,9997	0,9997	0,9997	0,9998
3,5	0,9998	0,9998	0,9998	0,9998	0,9998	0,9998	0,9998	0,9998	0,9998	0,9998
3,6	0,9998	0,9998	0,9999	0,9999	0,9999	0,9999	0,9999	0,9999	0,9999	0,9999

MATEMÁTICAS APLICADAS A LAS CIENCIAS SOCIALES II

CRITERIOS ESPECÍFICOS DE CORRECCIÓN Y CALIFICACIÓN

ATENCIÓN: La calificación debe hacerse en múltiplos de 0,25 puntos

OPCIÓN A

Ejercicio 1. (Puntuación máxima: 2 puntos)

Apartado (a): 1 punto.

Cálculo correcto de la matriz A-2B..... 0,25 puntos.

Cálculo correcto del determinante..... 0,50 puntos.

Cálculo correcto de la constante..... 0,25 puntos.

Apartado (b): 1 punto.

Justificación de que C no es invertible..... 0,25 puntos.

Justificación de que C^T C sí es invertible..... 0,25 puntos.

Obtención correcta de la inversa ..... 0,50 puntos.

Ejercicio 2. (Puntuación máxima: 2 puntos)

Apartado (a): 1 punto.

Representación correcta de la región factible..... 0,50 puntos.

Obtención correcta de los vértices..... 0,50 puntos.

Apartado (b): 1 punto.

Encontrar el punto de valor máximo (abscisa y ordenada)..... 0,75 puntos

Determinar el máximo de la función..... 0,25 puntos.

Ejercicio 3. (Puntuación máxima: 2 puntos)

Apartado (a): 1 punto.

Planteamiento correcto..... 0,25 puntos.

Cálculo correcto de la primitiva..... 0,50 puntos.

Determinación correcta de la constante..... 0,25 puntos.

Apartado (b): 1 punto

Obtención de los extremos ..... 0,25 puntos.

Determinación correcta de los máximos y mínimos relativos…….. 0,25 puntos.

Obtención correcta de la segunda derivada..... 0,25 puntos.

Obtención de los intervalos de concavidad y convexidad..... 0,25 puntos.

Ejercicio 4. (Puntuación máxima: 2 puntos)

Apartado (a): 1 punto.

Planteamiento correcto de la probabilidad..... 0,50 puntos.

Cálculo correcto de la probabilidad..... 0,25 puntos.

Estudio de la dependencia o independencia ……0,25 puntos.

Apartado (b): 1 punto.

Planteamiento correcto de la probabilidad..... 0,50 puntos.

Cálculo correcto de la probabilidad..... 0,50 puntos.

Ejercicio 5. (Puntuación máxima: 2 puntos)

Apartado (a): 1 punto.

Cálculo correcto de $z_{\alpha/2}$ ..... 0,25 puntos.

Expresión correcta de la fórmula del intervalo de confianza ..... 0,25 puntos.

Determinación correcta del intervalo ..... 0,50 puntos.

Apartado (b): 1 punto.

Cálculo correcto de $z_{\alpha/2}$ ..... 0,25 puntos.

Expresión correcta de la fórmula del error..... 0,25 puntos.

Determinación correcta del tamaño mínimo de la muestra ..... 0,50 puntos.

OPCIÓN B

Ejercicio 1. (Puntuación máxima: 2 puntos)

Apartado (a): 1 punto.

Cálculo correcto del determinante de la matriz de coeficientes y de los valores críticos …….. 0,50 puntos.

Discusión correcta ..... 0,50 puntos.

Apartado (b): 1 punto.

Solución correcta del sistema ..... 1,00 punto.

Ejercicio 2. (Puntuación máxima: 2 puntos)

Apartado (a): 1 punto.

Expresión correcta de la derivada ..... 0,25 puntos.

Obtención de los intervalos de crecimiento y decrecimiento ..... 0,25 puntos.

Justificación de ausencia de asíntota vertical ..... 0,25 puntos.

Obtención de la asíntota horizontal ..... 0,25 puntos.

Apartado (b): 1 punto

Expresión correcta de la ecuación de la recta tangente ..... 0,25 puntos.

Obtención correcta de la pendiente de la recta tangente ..... 0,50 puntos.

Ecuación correcta de la recta tangente ..... 0,25 puntos.

Ejercicio 3. (Puntuación máxima: 2 puntos)

Apartado (a): 1 punto.

Planteamiento correcto de la condición de continuidad ..... 0,25 puntos.

Cálculo correcto de los límites laterales ..... 0,50 puntos.

Discusión correcta en función del parámetro ..... 0,25 puntos.

Apartado (b): 1 punto.

Planteamiento correcto de la integral y los límites de integración ..... 0,25 puntos.

Cálculo correcto de la integral indefinida ..... 0,50 puntos.

Cálculo correcto de la integral definida ..... 0,25 puntos.

Ejercicio 4. (Puntuación máxima: 2 puntos)

Apartado (a): 1 punto.

Planteamiento correcto de la probabilidad ..... 0,50 puntos.

Cálculo correcto de la probabilidad..... 0,50 puntos.

Apartado (b): 1 punto.

Planteamiento correcto de la probabilidad ..... 0,50 puntos.

Cálculo correcto de la probabilidad..... 0,50 puntos.

Ejercicio 5. (Puntuación máxima: 2 puntos)

Apartado (a): 1 punto.

Cálculo correcto de $z_{\alpha/2}$ ..... 0,25 puntos.

Expresión correcta de la fórmula del error ..... 0,25 puntos.

Determinación correcta del tamaño de la muestra..... 0,50 puntos.

Apartado (b): 1 punto.

Expresión de la distribución de la media muestral ..... 0,25 puntos.

Tipificación correcta de la variable ..... 0,25 puntos.

Obtención correcta de la probabilidad..... 0,50 puntos.

OPCIÓN A

1

a) Para que el determinante sea nulo debemos primero hacer

$$A-2B=\begin{pmatrix} k & 1 & 2 \\ 1 & 4 & 3 \\ 0 & 0 & 7 \end{pmatrix}-2\begin{pmatrix} 1 & 0 & 1 \\ 0 & 1 & 0 \\ 4 & 0 & 3 \end{pmatrix}=\begin{pmatrix} k-2 & 1 & 0 \\ 1 & 2 & 3 \\ -8 & 0 & 1 \end{pmatrix}$$

$$|A-2B|=2k-29=0 \Rightarrow k=\frac{29}{2}$$

b)

$$C=\begin{pmatrix} 1 & 1 \\ 0 & -1 \\ 1 & 0 \end{pmatrix} \quad C^t=\begin{pmatrix} 1 & 0 & 1 \\ 0 & -1 & 0 \end{pmatrix}$$

$$C\cdot C^t=\begin{pmatrix} 1 & 1 \\ 0 & -1 \\ 1 & 0 \end{pmatrix}\cdot\begin{pmatrix} 1 & 0 & 1 \\ 0 & -1 & 0 \end{pmatrix}=\begin{pmatrix} 2 & 1 \\ 1 & 2 \end{pmatrix}$$

LA matriz C no tiene inversa por no ser cuadrada

LA inversa de $C\cdot C^t$

$$(C\cdot C^t)^{-1}=\begin{pmatrix} \frac{2}{3} & -\frac{1}{3} \\ -\frac{1}{3} & \frac{2}{3} \end{pmatrix}$$

2

a)

$$\begin{cases} x+2y\leq 20 \\ 0\leq x\leq 15 \\ x+y\geq 10 \\ y\geq 0 \end{cases}$$

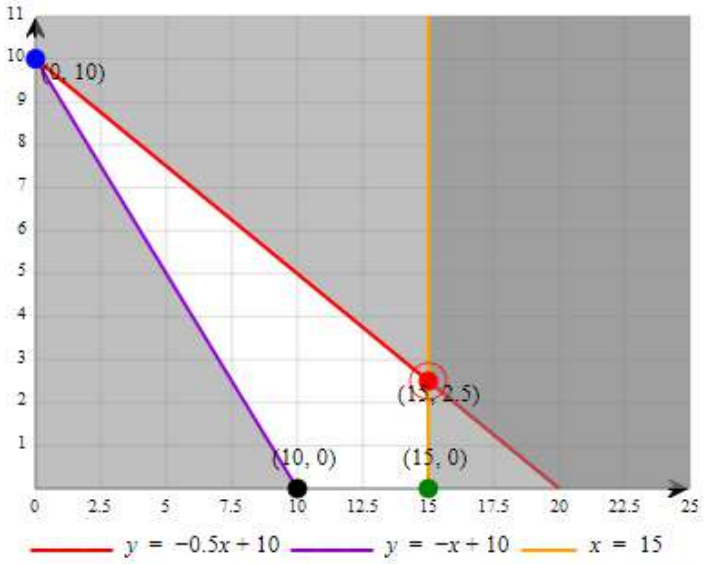

Los vértices son los cortes entre las rectas

A(puno negro)=(10,0)

B(punto verde)=(15,0)

C(punto rojo)=(15,2.5)

D(punto azul)=(0,10)

b) Sabiendo que el beneficio según los datos del problema viene dado por la función

f(x,y)=25x+12y

f(A)=120

f(B)=375

f(C)=405 -> Es te es el máximo. Hay que preparar 15 litros de helado y 2.5 litros de horchata con un beneficio de 405€

f(D)=250

3. El enunciado nos da la derivada de la función $f'(x)=2x^2-4x-6$

a) Para determinar una función a partir de la derivada sabemos que

$$f(x) = \int f'(x)dx = \int (2x^2 - 2x - 6)\, dx = \frac{2}{3}x^3 - x^2 - 6x + C$$

Si pasa por (0,3)

$$f(0) = \frac{2}{3}0^3 - 0^2 - 6 \cdot 0 + C = 3 \Rightarrow C = 3$$

$$f(x) = \frac{2}{3}x^3 - x^2 - 6x + 3$$

b) Para determinar el máximo y el mínimo al conocer la derivada

f'(x)=2x^2-4x-6=0 x=3; x=-1

$(-\infty,-1)$	(-1,3)	$(3,\infty)$
f'(x)>0	f'(x)<0	f'(x)>0
Crece	Decrece	Crece

Para determinar los extremos realizamos f''(x)=4x-4

f''(-1)<0 Máximo (-1,19/3)

f''(3)>0 Mínimo (3,-15)

la concavidad y la convexidad la estudiamos en f''(x)

$$f''(x) = 4x - 4 = 0 \Rightarrow x = 1$$

$(-\infty,1)$	$(1,\infty)$
f''(x)<0	f''(x)>0
∩	∪

4.

P(A)=0.6

P(B)=0.8

P(A∩ $\bar{B}$)=0.1

a) P(A/$\bar{B}$) $= \frac{P(A\cap\bar{B})}{P(\bar{B})} = \frac{P(A)-P(A\cap B)}{1-P(B)} = \frac{0.1}{1-0.8} = 0.5$

Como P(A/$\bar{B}$) no es igual a P(A) podemos decir no son independientes

b)

P(A∩ $\bar{B}$) $= P(A) - P(A\cap B) = 0.6 - P(A\cap B) = 0.1 \Rightarrow P(A\cap B) = 0.5$

P(A∪ B) $= P(A) + P(B) - P(A\cap B) = 0.1 + 0.8 - 0.5 = 0.9$

5.

La variable X sigue una distribución Normal de media desconocida y varianza 49

Como $\sigma_x^2 = 49 \Rightarrow \sigma_x = 7$

La muestra es de tamaño 64 con que n=64 y sobre esa muestra se observa una media muestral de 34

$$1-\alpha = 0.992 \Rightarrow \alpha = 0.008 \Rightarrow \frac{\alpha}{2} = 0.004 \Rightarrow 1-\frac{\alpha}{2} = 0.996 \Rightarrow Z_{\alpha/2} = 2.65$$

E(error)= $Z\alpha_{/2} \cdot \frac{\sigma}{\sqrt{n}} = 2.65 \cdot \frac{7}{8} = 3.21875$

IC=$(\bar{x} - E, \bar{x} + E) = (34 - 3.21875, 34 + 3.21578) = (31.68125, 36.31875)$

b)

$$1 - \alpha = 0.95 \Rightarrow \alpha = 0.05 \Rightarrow \frac{\alpha}{2} = 0.025 \Rightarrow 1 - \frac{\alpha}{2} = 0.975 \Rightarrow Z\alpha_{/2} = 1.96$$

E(error)= $Z\alpha_{/2} \cdot \frac{\sigma}{\sqrt{n}} = 3 \Rightarrow 3 = 1.96 \cdot \frac{7}{\sqrt{n}} \Rightarrow n = 20.915$

Tamaño mínimo de 21

OPCIÓN B

1.

$$\begin{cases} -x+y+z=0 \\ x+my-z=0 \\ x-y-mz=0 \end{cases}$$

El sistema es homógeneo por lo que basta con encontrar el rango de la matriz del sistema para averiguar si es SCD o SCI

Sabemos que un rango máximo daría un SCD con solución trivial (0,0,0) por lo que estudiaremos los casos en el que el rango no es máximo. Por tanto, aquellos donde el determinante de la matriz del sistema sea nulo

$$A=\begin{pmatrix} -1 & 1 & 1 \\ 1 & m & -1 \\ 1 & -1 & -m \end{pmatrix} \Rightarrow |A| = m^2-1=0 \Rightarrow m=\pm 1$$

Para $m=\pm 1\ el\ rango\ de\ A\ es\ igual\ a\ 2\ con\ loque\ tendrá\ infinitas\ soluciones$

b)

Si m=1 es un SCI lo resolvemos por Cramer

$$\begin{cases} -x+y+z=0 \\ x+1y-z=0 \\ x-y-1z=0 \end{cases} \Rightarrow \begin{cases} -x+y+z=0 \\ x+y-z=0 \end{cases} \overset{z=t}{\Rightarrow} \begin{cases} -x+y=-t \\ x+y-z=t \end{cases} \Rightarrow |A|=-2$$

$$x=\frac{\begin{vmatrix} -t & 1 \\ t & 1 \end{vmatrix}}{|A|}=t$$

$$y=\frac{\begin{vmatrix} -1 & -t \\ 1 & t \end{vmatrix}}{|A|}=0$$

z=t

2.

$$f(x)=\frac{8}{x^2-4}$$

a) Para estudiar crecimiento y decrecimiento derivamos la función

$$f'^{(x)}=\frac{-16x}{(x^2-4)^2}=0 \Rightarrow x=0$$

$(-\infty,0)$	$(0,\infty)$
f'(x)>0	f'(x)<0
crecimiento	Decrecimiento

Asíntotas

Asíntota horizontal

$$y = \lim_{x \to \pm\infty} \frac{8}{x^2 - 4} = 0$$

Asíntota vertical : no existe pues el dominio de la función son todos los reales

b)

La recta tangente a la función en x=2 tiene como expresión

$$y - f(2) = f'(2)(x - 2)$$

f(2)=1; f'(2)=-1/2

$$y - 1 = -\frac{1}{2}(x - 2)$$

3.

$$f(x)=\begin{cases} e^x + k \;\; si\; x \leq 0 \\ 1 - x^2 \;\; si\; 0 < x \leq 3 \\ \frac{1}{x-3} \;\; si\; x > 3 \end{cases}$$

a) Estudiamos la continuidad en x=0 y en x=3 pues las funciones son continuas en la definición de su dominio

En x=0

f(0)=1+k

$$\lim_{x \to 0} f(x) = \begin{cases} \lim_{x \to 0^-} f(x) = 1 + k \\ \lim_{x \to 0^+} f(x) = 1 \end{cases} \Rightarrow 1 + k = 1 \Rightarrow k = 0$$

En x=3

f(0)=-8

$$\lim_{x \to 3} f(x) = \begin{cases} \lim_{x \to 3^-} f(x) = -8 \\ \lim_{x \to 3^+} f(x) = no\ existe \end{cases} \Rightarrow no\ existe\ el\ límite$$

Si k=0 la función es continua en $\mathbb{R} - \{3\}$

Si k≠0 la función es continua en $\mathbb{R} - \{0,3\}$

b)

$$A=\int_{-1}^{1} f(x)dx = \int_{-1}^{0} e^x dx + \int_{0}^{1} 1 - x^2 dx = [e^x]_{-1}^{0} + [x - x^3/3]_0^1 = \frac{5}{3} - \frac{1}{e}\ u^2$$

4.

a) Probabilidades totales

P(T)=0.6 P(T^c)=0.4

P(F/T)=0.3 P(F/T^c)=0.15

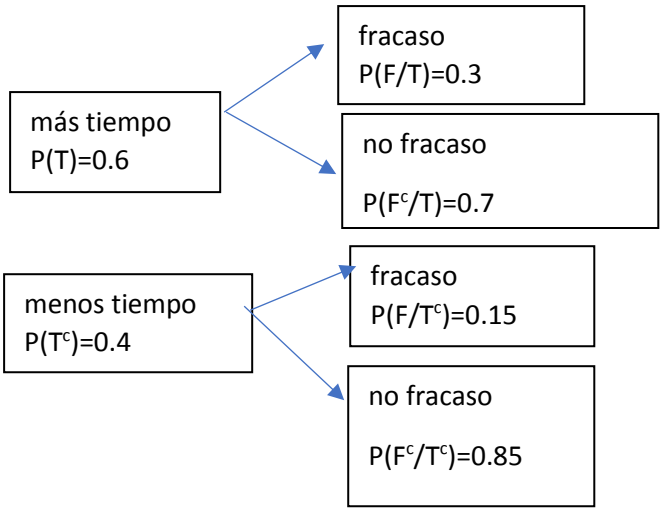

P(F)=P(T)· P(F/T)+ P(T^c)· P(F/T^c)=0.6·0.6+0.4·0.15=0.24

b) Teorema de Bayes

$$P(T^c/F)=\frac{P(T^c \cap F)}{P(F)} = \frac{\mathrm{P(T)\cdot P(F/T)}}{P(F)} = \frac{0.4\cdot 0.15}{0.24} = 0.25$$

5.

La variable X es una normal con media desconocida y desviación típica 1.5

a) La amplitud es del doble del error

A=2E-> E=0.245

$$1-\alpha = 0.95 \Rightarrow \alpha = 0.05 \Rightarrow \frac{\alpha}{2} = 0.025 \Rightarrow 1-\frac{\alpha}{2} = 0.975 \Rightarrow Z\alpha_{/2} = 1.96$$

$$0.245 = Z\alpha_{/2} \cdot \frac{\sigma}{\sqrt{n}} = 1.96 \cdot \frac{1.5}{\sqrt{n}} \Rightarrow n = 144$$

b)

$$\bar{X} \sim N(6, {}^{1.5}/_{\sqrt{225}} = 0.1)$$

$$P(\bar{X} > 5.75) = P\left(Z > \frac{5.75 - 6}{0.1}\right) = P\left(Z > \frac{-0.25}{0.1}\right) = P(Z > -2.5) = P(Z < 2.5) = 0.9938$$