# Las partes de la planta

Nombre _____ Fecha _____

**Recuerda**

- Las plantas están formadas por la **raíz**, el **tallo** y las **hojas**.
- La **raíz** se encuentra bajo tierra.
- El **tallo** crece por encima del suelo y puede ser **leñoso** o **herbáceo**.
- Las **hojas** tienen dos partes: **peciolo** y **limbo**.

**1. Relaciona.**

| Parte de la planta que crece por encima del suelo y sostiene las hojas. | Partes verdes de la planta que nacen de las ramas. | Parte de la planta que está enterrada. |
|---|---|---|
| hojas | tallo | raíz |

**2. Completa el dibujo con el nombre de las partes de una planta. Después, contesta.**



- ¿Cómo es el tallo de esta planta: leñoso o herbáceo?, ¿por qué? _____

_____

**3. Observa el dibujo y escribe el nombre de las partes de la hoja.**



# Las partes de la planta

Nombre _____ Fecha _____

**Recuerda**

- Las plantas están formadas por la **raíz**, el **tallo** y las **hojas**.
- La **raíz** se encuentra bajo tierra.
- El **tallo** crece por encima del suelo y puede ser **leñoso** o **herbáceo**.
- Las **hojas** tienen dos partes: **peciolo** y **limbo**.

**1. Relaciona.**

| | | |
|---|---|---|
| Parte de la planta que crece por encima del suelo y sostiene las hojas. | Partes verdes de la planta que nacen de las ramas. | Parte de la planta que está enterrada. |
| hojas | tallo | raíz |

**2. Completa el dibujo con el nombre de las partes de una planta. Después, contesta.**




- ¿Cómo es el tallo de esta planta: leñoso o herbáceo?, ¿por qué? leñoso porque es un árbol. El tronco es de madera

**3. Observa el dibujo y escribe el nombre de las partes de la hoja.**