Ejercicio 1. (Puntuación máxima: 2 puntos)

Encontrar la ecuación de la recta que es paralela a los planos $\pi_1 \equiv x-3y+z=0$, $\pi_2 \equiv 2x-y+3z=5$, y pasa por el punto $P=(2,-1,5)$. Calcular también la distancia de dicha recta a los dos planos.

Solución:

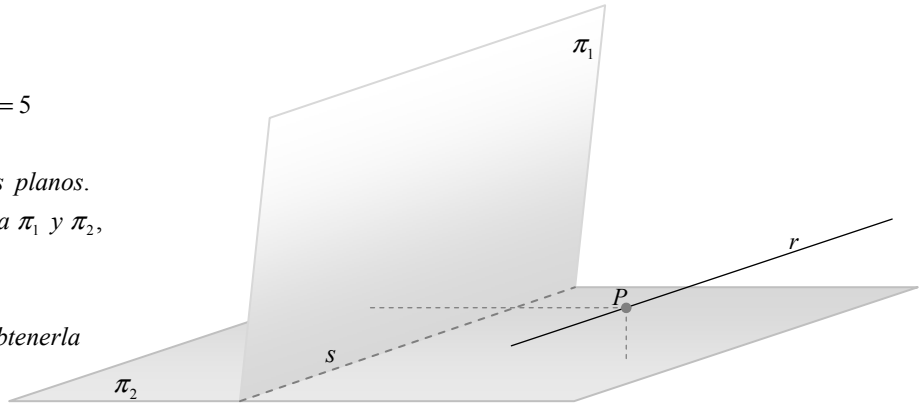

$\pi_1 \equiv x-3y+z=0$, $\pi_2 \equiv 2x-y+3z=5$

Si s es la recta intersección de los dos planos. La recta pedida r, como es paralela a π_1 y π_2, también es paralela a s.

La dirección de la recta r podemos obtenerla de dos formas:

1.– *a partir de las ecuaciones paramétricas de* $s \equiv \begin{cases} x-3y+z=0 \\ 2x-y+3z=5 \end{cases} \Rightarrow$ *resolviendo el sistema* $\Rightarrow$ $s \equiv \begin{cases} x=3-\frac{8}{5}\lambda \\ y=1-\frac{1}{5}\lambda \\ z=\lambda \end{cases}$

con lo que la dirección de la recta s viene determinada por el vector $\vec{u}=\left(-\frac{8}{5},-\frac{1}{5},1\right)$ *o por* $\vec{v}=5\vec{u}=(-8,-1,5)$

2.– *como s está contenida en π_1 y en π_2, su dirección es perpendicular a los vectores normales de ambos planos* $\Rightarrow$

$$\Rightarrow \vec{v}=\vec{\eta}_1 \wedge \vec{\eta}_2 = \begin{vmatrix} \vec{e}_1 & \vec{e}_2 & \vec{e}_3 \\ 1 & -3 & 1 \\ 2 & -1 & 3 \end{vmatrix} = -8\vec{e}_1-\vec{e}_2+5\vec{e}_3 \Rightarrow \vec{v}=(-8,-1,5)$$

Ahora la recta $r \equiv \begin{cases} \text{pasa por el punto } P(2,-1,5) \\ \text{tiene la dirección del vector } \vec{v}=(-8,-1,5) \end{cases} \Rightarrow r \equiv \frac{x-2}{-8}=\frac{y+1}{-1}=\frac{z-5}{5}$

Para calcular la distancia de la recta r a los planos usamos la fórmula de disancia de un punto a un plano.

$$d(r,\pi_1)=d(P,\pi_1)=\frac{|2-3\cdot(-1)+5|}{\sqrt{1^2+(-3)^2+1^2}}=\frac{10}{\sqrt{11}}u \quad ; \quad d(r,\pi_2)=d(P,\pi_2)=\frac{|2\cdot 2-1\cdot(-1)+3\cdot 5-5|}{\sqrt{2^2+(-1)^2+3^2}}=\frac{15}{\sqrt{14}}u$$

Ejercicio 2. (Puntuación máxima: 3 puntos)

Dadas las rectas $r \equiv \begin{cases} x-2y=-1 \\ y-z=1 \end{cases}$ y $s \equiv \begin{cases} x+y=0 \\ z=3 \end{cases}$

- Comprobar si las dos rectas son paralelas.
- Determinar, si es posible, la ecuación del plano que las contiene.
- Calcular la distancia entre las dos rectas.

Solución:

$$r \equiv \begin{cases} x-2y=-1 \\ y-z=1 \end{cases} \Rightarrow \text{pasando a las ecuaciones paramétricas} \Rightarrow r \equiv \begin{cases} x=-1+2\lambda \\ y=\lambda \\ z=-1+\lambda \end{cases} \Rightarrow \begin{cases} A(-1,0,-1) \text{ punto de } r \\ \vec{u}=(2,1,1) \text{ vector de } r \end{cases}$$

$$s \equiv \begin{cases} x+y=0 \\ z=3 \end{cases} \Rightarrow \text{pasando a las ecuaciones paramétricas} \Rightarrow s \equiv \begin{cases} x=-\lambda \\ y=\lambda \\ z=3 \end{cases} \Rightarrow \begin{cases} B(0,0,3) \text{ punto de } s \\ \vec{v}=(-1,1,0) \text{ vector de } s \end{cases}$$

como $\vec{u}$ y $\vec{v}$ no son proporcionales $\Rightarrow$ r y s no son rectas paralelas.

Si el vector $\overrightarrow{AB}$, determinado por los puntos $A \in r$ y $B \in s$, es combinación lineal de $\vec{u}$ y $\vec{v}$, las dos rectas son coplanarias y se cortan en un punto. Pero si $\overrightarrow{AB}$ es linealmente independiente con $\vec{u}$ y $\vec{v}$, las rectas están en distinto plano y se cruzan.

$$\overrightarrow{AB}=(1,0,4) \ ; \ \begin{vmatrix} 1 & 0 & 4 \\ 2 & 1 & 1 \\ -1 & 1 & 0 \end{vmatrix} = 11 \neq 0 \Rightarrow \overrightarrow{AB}, \vec{u} \text{ y } \vec{v} \text{ son linealmente independientes} \Rightarrow \text{No existe un plano que contenga a } r \text{ y } s.$$

Para calcular la distancia entre r y s, hallamos la ecuación de un plano π que contenga a una de las dos rectas (p. ej. a s) y sea paralelo a la otra (r)

$$\pi \equiv \begin{cases} B(0,0,3) \\ \vec{v}=(-1,1,0) \\ \vec{u}=(2,1,1) \end{cases} \Rightarrow \pi \equiv \begin{vmatrix} x & y & z-3 \\ -1 & 1 & 0 \\ 2 & 1 & 1 \end{vmatrix} = 0 \Rightarrow \pi \equiv x+y-3z+9=0$$

Ahora tenemos que $d(r,s)=d(A,\pi)=\dfrac{|-1+0-3\cdot(-1)+9|}{\sqrt{1^2+1^2+(-3)^2}}=\dfrac{11}{\sqrt{11}}=\sqrt{11}\,u$

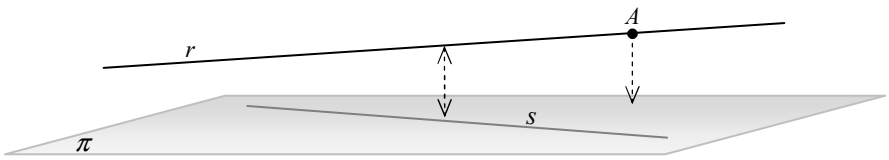

Ejercicio 3. (Puntuación máxima: 3 puntos)

Dos vértices consecutivos de un rectángulo son $P=(1,1,-3)$ y $Q=(-1,0,0)$ y los otros dos pertenecen a una recta r que pasa por el punto $A=(4,3,-5)$. Calcula las coordenadas de los otros dos vértices del rectángulo y el área del mismo.

Solución:

Los puntos P y Q están en una misma recta s cuyo vector director es $\overrightarrow{PQ}=(-2,-1,3)$

Los otros dos vértices, R y T, pertenecen a una recta r, paralela a s y que pasa por el punto A.

$$r\equiv\begin{cases}\text{contiene al punto } A(4,3,5)\\ \text{tiene la dirección del vector } \overrightarrow{PQ}=(-2,-1,3)\end{cases}\Rightarrow\quad r\equiv\begin{cases}x=4-2\lambda\\ y=3-\lambda\\ z=-5+3\lambda\end{cases}$$

Calculemos ahora dos planos π_1 *y* π_2 *perpendiculares a la recta r y que contengan a los puntos P y Q respectivamente. Entonces tendremos que* $T=r\cap\pi_1$ *y* $R=r\cap\pi_2$

El vector normal a π_1 *y* π_2 *es* $\overrightarrow{PQ}=(-2,-1,3)$

$P\in\pi_1\ \Rightarrow\ \pi_1\equiv-2(x-1)-1\cdot(y-1)+3\cdot(z+3)=0\ \Rightarrow\ \pi_1\equiv-2x-y+3z+12=0$

$Q\in\pi_2\ \Rightarrow\ \pi_2\equiv-2(x+1)-1\cdot(y-0)+3\cdot(z-0)=0\ \Rightarrow\ \pi_2\equiv-2x-y+3z-2=0$

$T=r\cap\pi_1\ ,\ T\in r\ \Rightarrow\ T(4-2\lambda,3-\lambda,-5+3\lambda)$

$T\in\pi_1\ \Rightarrow\ -2(4-2\lambda)-(3-\lambda)+3(-5+3\lambda)+12=0$

$\lambda=1\ \Rightarrow\ T(2,2,-2)$

$R=r\cap\pi_2\ ,\ R\in r\ \Rightarrow\ R(4-2\lambda,3-\lambda,-5+3\lambda)$

$R\in\pi_2\ \Rightarrow\ -2(4-2\lambda)-(3-\lambda)+3(-5+3\lambda)-2=0$

$\lambda=2\ \Rightarrow\ R(0,1,1)$

$\overrightarrow{PQ}=(-2,-1,3)$ y $\overrightarrow{PT}=(1,1,1)$

$Área_{rectángulo}=\left|\overrightarrow{PQ}\right|\cdot\left|\overrightarrow{PT}\right|=\sqrt{14}\cdot\sqrt{3}=\sqrt{42}\ u^2$

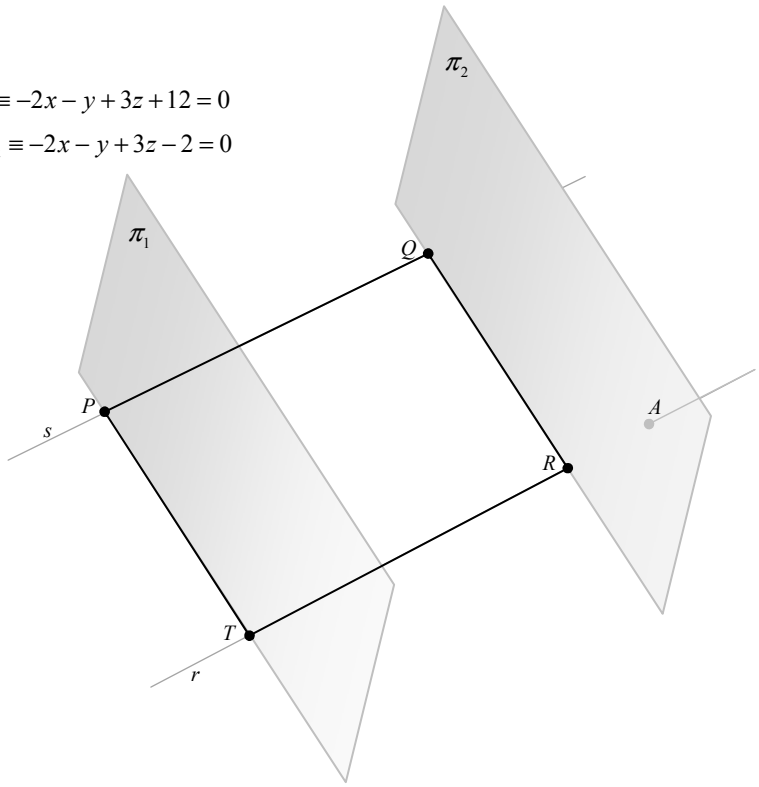

Ejercicio 4. (Puntuación máxima: 2 puntos)

Halla la ecuación de una recta que pase por el punto $(1,-1,2)$, sea paralela al plano $\pi\equiv x-3y+2z=1$ y corte a la recta $r\equiv\begin{cases}x=z-1\\ y=2\end{cases}$.

Solución:

Si la recta pedida tiene que ser paralela al plano π*, estará contenida en un plano paralelo a* π*.*

Como r tiene que pasar por el punto P, el plano que contiene a r será $\pi'\equiv\begin{cases}\text{contiene a } P(1,-1,2)\\ \text{su vector normal es } \vec{\eta}=(1,-3,2)\end{cases}$

$\pi'\equiv1\cdot(x-1)-3\cdot(y+1)+2\cdot(z-2)=0\quad\Rightarrow\quad\pi'\equiv x-3y+2z-8=0$

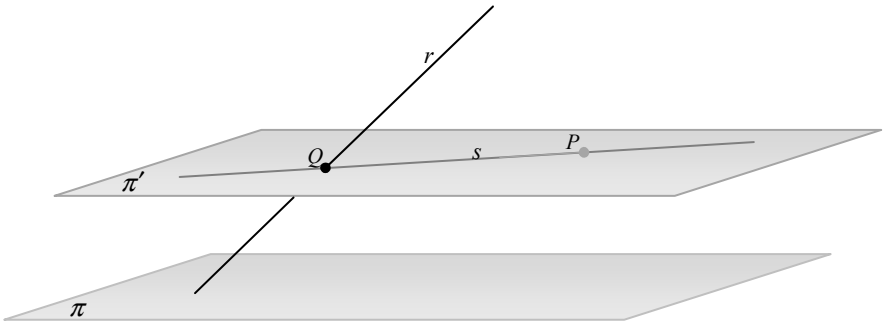

$r \equiv \begin{cases} x = z - 1 \\ y = 2 \end{cases} \quad \Rightarrow \quad$ *expresada en paramétricas* $\quad r \equiv \begin{cases} x = -1 + \lambda \\ y = 2 \\ z = \lambda \end{cases}$

El punto Q es la intersección entre la recta r y el plano $\pi' \Rightarrow Q \in r$, *Q es de la forma* $Q(-1+\lambda, 2, \lambda)$

$\pi' \equiv x - 3y + z - 8 = 0$

$Q \in \pi' \Rightarrow$ *verifica la ecuación del plano*: $(-1+\lambda) - 3 \cdot 2 + 2 \cdot \lambda - 8 = 0 \;\Rightarrow\; \lambda = 5$, *entonces* $Q(4,2,5)$

Ahora la recta pedida $s \equiv \begin{cases} \text{pasa por el punto } P(1,-1,2) \\ \text{tiene la dirección del vector } \overrightarrow{PQ} = (3,3,3) \text{ o de } \vec{v} = (1,1,1) \end{cases} \;\Rightarrow\; s \equiv \begin{cases} x = 1 + \lambda \\ y = -1 + \lambda \\ z = 2 + \lambda \end{cases}$

– *s corta a r en el punto Q*

– *s es paralela a* π *porque está contenida en* π' *que es un plano paralelo a* π. *Además* $\vec{\eta} \cdot \vec{v} = 0$