Medidas de capacidad

Nombre _____ Fecha _____

Recuerda

El **litro** es la unidad principal de **capacidad**.

- 1 litro = 2 medios litros = 4 cuartos de litro.

1 Completa.

¿Cuántos medios litros son?

- 5 litros ▶ _____ medios litros.
- 1 litro y medio ▶ _____ medios litros.
- 2 litros y medio ▶ _____ medios litros.

¿Cuántos cuartos de litro son?

- 4 litros ▶ _____ cuartos de litro.
- 1 litro y cuarto ▶ _____ cuartos de litro.
- 3 litros y medio ▶ _____ cuartos de litro.

2 Observa la capacidad de cada recipiente y calcula cuántos medios litros de zumo hay en cada grupo de recipientes.

_____ medios litros.

_____ medios litros.

_____ medios litros.

FICHA 40

Medidas de masa

Nombre _____ Fecha _____

Recuerda

El **kilogramo** o **kilo** es la unidad principal de **masa**.

- 1 kilo = 2 medios kilos = 4 cuartos de kilo.
- 1 kilo = 1.000 gramos ▶ 1 kg = 1.000 g.

1 Completa.

¿Cuántos medios kilos son? ▶

- 6 kilos ▶ _____ medios kilos.
- 1 kilo y medio ▶ _____ medios kilos.
- 2 kilos y medio ▶ _____ medios kilos.

¿Cuántos cuartos de kilo son? ▶

- 5 kilos ▶ _____ cuartos de kilo.
- 2 kilos y cuarto ▶ _____ cuartos de kilo.
- 3 kilos y medio ▶ _____ cuartos de kilo.

2 ¿Cuánto pesa cada mochila? Observa las balanzas y completa.

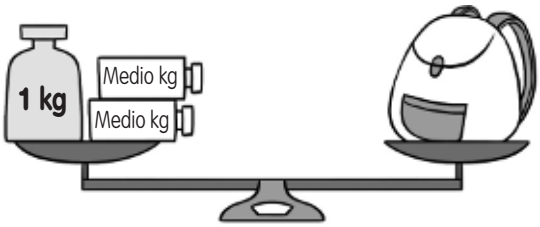

La mochila pesa _____ g

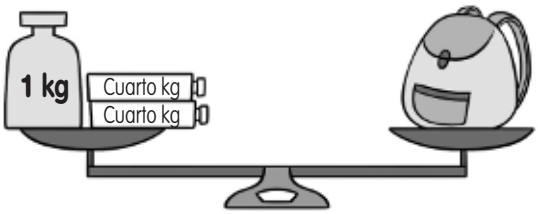

La mochila pesa _____ g

3 Calcula cuántos gramos pesa cada fruta.



_____ g

_____ g