04522

MATEMÁTICAS

RECURSOS FOTOCOPIABLES

2

Nombre y apellidos:

Fecha:

Matemáticas 2.°

EI

1 Completa las series.

20 21 22 ☐ ☐ ☐ ☐ ☐ ☐ 29 ☐

47 48 ☐ ☐ ☐ ☐ ☐ ☐ ☐ ☐ 57

65 66 ☐ ☐ ☐ ☐ ☐ ☐ ☐ 74 ☐

2 ¿Cómo se leen estos números? Escribe y completa.

14 $\xrightarrow{+1}$ ☐ → _____

39 $\xrightarrow{+2}$ ☐ → _____

89 $\xrightarrow{+1}$ ☐ → _____

75 $\xrightarrow{+2}$ ☐ → _____

3 Calcula y rodea el resultado mayor.

$$\begin{array}{r} 34 \\ +\ \ 5 \\ \hline \square \end{array} \qquad \begin{array}{r} 46 \\ -\ 22 \\ \hline \square \end{array} \qquad \begin{array}{r} 52 \\ +\ 13 \\ \hline \square \end{array} \qquad \begin{array}{r} 87 \\ -\ 20 \\ \hline \square \end{array} \qquad \begin{array}{r} 31 \\ +\ 28 \\ \hline \square \end{array}$$

4 Suma rápidamente.

3 + 3 = ☐ 6 + 6 = ☐ 7 + 7 = ☐ 8 + 8 = ☐

5 + 5 = ☐ 6 + 5 = ☐ 6 + 7 = ☐ 8 + 9 = ☐

© Grupo Anaya, S.A. Material fotocopiable autorizado.

Área fotocopiable

5 Lee y resuelve.

En 2.º A somos 12 niñas y 13 niños.
¿Cuántos alumnos hay en mi aula?

Hay ☐ alumnos.

6 Lee y completa.

Ayer fue martes, hoy es ☐

Entre agosto y octubre está el mes de ☐

7 Lee y completa los relojes.

8 Relaciona.

Triángulo círculo cuadrado rectángulo pentágono

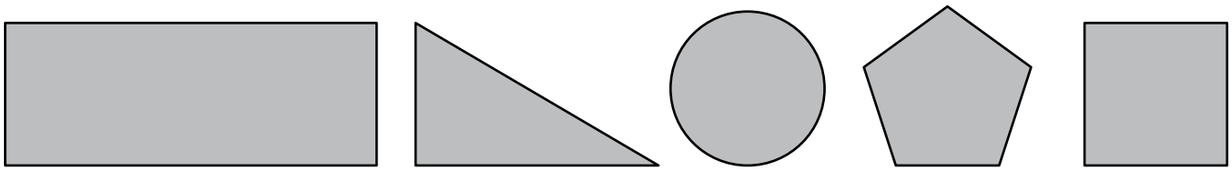

© Grupo Anaya, S.A. Material fotocopiable autorizado.

1 Dibuja las decenas y las unidades que faltan.

38

82

57

75

2 Escribe los números.

cuarenta y seis → ☐ setenta y dos → ☐ cincuenta → ☐

diecinueve → ☐ sesenta y seis → ☐ veinticuatro → ☐

3 Ordena los números anteriores de menor a mayor.

☐ < ☐ ○ ☐ ○ ☐ ○ ☐ ○ ☐

4 Escribe el número anterior y el número posterior.

☐ → 46 → ☐ ☐ → 30 → ☐

5 Coloca y calcula.

Sumandos: 21 y 57	Sumandos: 69 y 20	Minuendo: 88 Sustraendo: 26	Minuendo: 93 Sustraendo: 50

© Grupo Anaya, S.A. Material fotocopiable autorizado.

6 Calcula y rodea el resultado mayor.

61	83	39	91	44	89
+ 27	− 22	+ 40	− 31	+ 35	− 47
☐	☐	☐	☐	☐	☐

7 Colorea las zapatillas según se indica:

a la izquierda de la niña ⟶ rojo a la derecha del niño ⟶ verde

8 Colorea las flechas como se indica:

izquierda: azul derecha: amarillo arriba: rojo abajo: verde

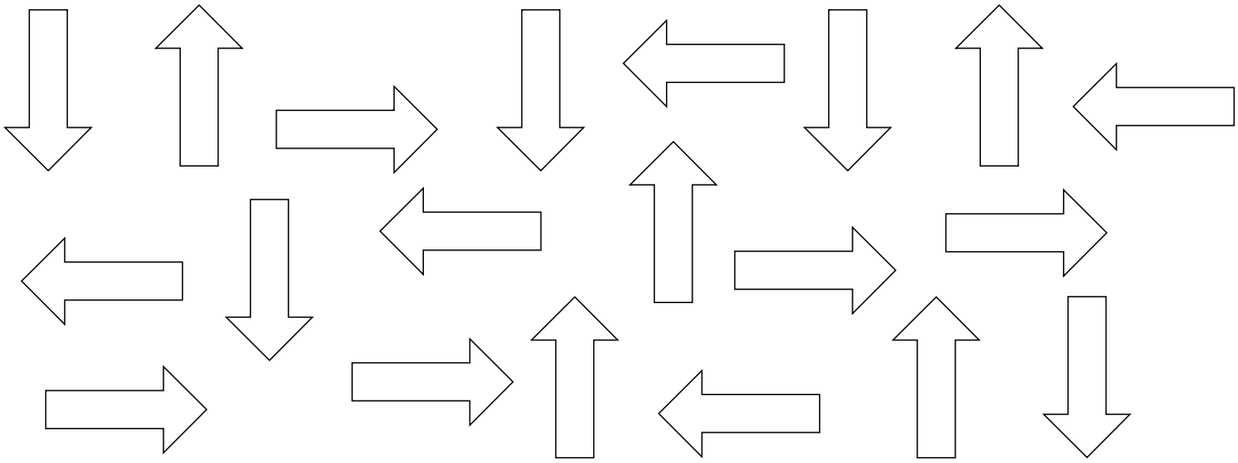

© Grupo Anaya, S.A. Material fotocopiable autorizado.

2 Nombre y apellidos:

Fecha: Matemáticas 2.° **EV**

1 Completa y escribe cómo se leen los números.

115



126

2 Dibuja estos números en los ábacos:

131 - 108 - 129



3 Escribe cómo se leen los números de la actividad anterior.

4 Coloca y calcula.

Sumandos: 127 y 39	Sumandos: 105 y 78	Sumandos: 43 y 138	Sumandos: 128 + 56

© Grupo Anaya, S.A. Material fotocopiable autorizado.

5 Completa para cumplir la propiedad conmutativa y calcula.

12 + 8 = 8 + ☐ = ☐

10 + ☐ = 40 + ☐ = ☐

20 + ☐ = 30 + ☐ = ☐

☐ + 9 = ☐ + 6 = ☐

6 Aplica la propiedad asociativa.

13 + 7 + 12

☐ + ☐ = ☐

13 + 7 + 12

☐ + ☐ = ☐

7 Escribe el mes anterior o posterior en cada caso.

marzo → ☐

☐ ← enero

septiembre → ☐

☐ ← julio

julio → ☐

☐ ← marzo

8 Completa escribiendo la fecha.

HOY		MAÑANA
Lunes, 30 de abril		☐
Viernes, 30 de agosto		☐
Domingo, 13 de mayo		☐

© Grupo Anaya, S.A. Material fotocopiable autorizado.

1 Escribe con cifras y con letras el número que falta en cada tarjeta.

206 - ☐ - 208

248 - 249 - ☐

☐ - 271 - 272

2 Lee y escribe el nombre de cada niño donde corresponda.

Paco vive en el 2 C, 4 D y 8 U. 284

Raquel en el 200 + 90 + 6. 269

Alex en el 2 C, 6 y 9 U. 248

Paloma en el 200 + 80 + 4. 296

3 Representa en el ábaco los números.

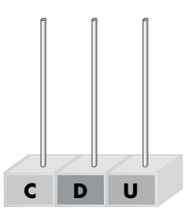

246

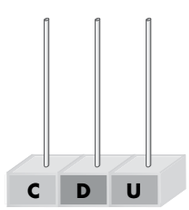

283

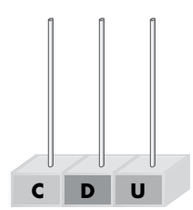

220

4 Escribe la descomposición de los números de la actividad anterior.

☐ → ☐ + ☐ + ☐

☐ → ☐ + ☐ + ☐

☐ → ☐ + ☐ + ☐

© Grupo Anaya, S.A. Material fotocopiable autorizado.

5 Escribe el valor de la cifra 1 en cada número.

165 → ☐ U 147 → ☐ U 291 → ☐ U 106 → ☐ U

251 → ☐ U 219 → ☐ U 215 → ☐ U 201 → ☐ U

6 Coloca, calcula y rodea el resultado donde la cifra 7 ocupa el lugar de las decenas.

Sumandos: 167 y 81	Sumandos: 94 y 184	Sumandos: 60 y 179	Sumandos: 152 y 75

7 Resta y colorea la bandera cuando la resta sea sin llevadas.

$$\begin{array}{r} 73 \\ -\ 49 \\ \hline \square \end{array} \qquad \begin{array}{r} 85 \\ -\ 40 \\ \hline \square \end{array} \qquad \begin{array}{r} 78 \\ -\ 39 \\ \hline \square \end{array} \qquad \begin{array}{r} 56 \\ -\ 24 \\ \hline \square \end{array}$$

8 Completa.

Son las ☐

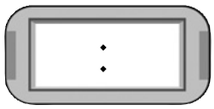

Son las ☐

Son las 8 menos cuarto.

© Grupo Anaya, S.A. Material fotocopiable autorizado.

4 Nombre y apellidos:

Fecha: Matemáticas 2.º **EV**

1 Escribe los números y cómo se leen.

300 + 20 + 5 → ☐

300 + 10 + 7 → ☐

2 Continúa las series como se indica:

+1 → 364 365 ☐ ☐ ☐ ☐ ☐ ☐ ☐

+2 → 321 323 ☐ ☐ ☐ ☐ ☐ ☐ ☐

3 Ordena estos números:

396 - 345 - 327 - 399 - 302 - 319

☐ > ☐ > ☐ > ☐ > ☐ > ☐

4 Escribe el ordinal que corresponde.

Miguel llegó detrás del 7.º →

Sandra llegó delante del 12.º →

5 Coloca y resta.

minuendo → 306
sustraendo → 267

minuendo → 361
sustraendo → 148

minuendo → 337
sustraendo → 169

© Grupo Anaya, S.A. Material fotocopiable autorizado.

6 Lee y colorea la respuesta correcta.

- Puedo reunir 2 euros con…

5 monedas de 20 cts.	4 monedas de 50 cts.	8 monedas de 20 cts.

- Puedo reunir 10 euros con…

5 monedas de 2 €	5 monedas de 1 €	10 monedas de 10 cts.

- Puedo reunir 20 euros con…

3 billetes de 5 €	10 monedas de 1 €	4 billetes de 5 €

7 Colorea del mismo color los monederos que tienen igual cantidad.

3 € 50 cts.	4 €	3 € 5 cts.	400 cts.
			
475 cts.	305 cts.	350 cts.	4 € 75 cts.

8 Rodea el dinero que necesitas en cada caso y completa.



Sobran ____ € y ____ céntimos.

Sobran ____ € y ____ céntimos.

© Grupo Anaya, S.A. Material fotocopiable autorizado.

5 Nombre y apellidos:

Fecha: Matemáticas 2.° **EV**

1 Escribe los números, cómo se leen y ordénalos de mayor a menor.

Anterior a 451 → ☐ ☐

Posterior a 417 → ☐ ☐

Anterior a 430 → ☐ ☐

Posterior a 439 → ☐ ☐

Posterior a 489 → ☐ ☐

Posterior a 416 → ☐ ☐

☐ ○ ☐ ○ ☐ ○ ☐ ○ ☐ ○ ☐

2 Coloca y resta.

minuendo → 406
sustraendo → 267

minuendo → 361
sustraendo → 148

minuendo → 437
sustraendo → 369

© Grupo Anaya, S.A. Material fotocopiable autorizado.

3 Resta y haz la prueba.

4 0 2	2 3 4	4 6 0	4 4 2	3 1 7
− 3 3 7	− 5 6	− 1 4 2	− 2 7 5	− 1 4 9

4 Suma y relaciona con su periódico.

2 2 7	2 3 9	1 5 8	2 1 8	2 2 3
1 5 7	1 5 2	3 0 5	1 3 9	1 1 8
+ 2 3	+ 2 9	+ 2 2	+ 1 2 3	+ 7 8

400 + 20 | 400 + 80 + 5 | 400 + 7 | 400 + 10 + 9 | 400 + 80

5 Lee y resuelve.

Marina mide 1m y 72 cm → ☐ cm.

Pepe mide 126 cm.

Marina mide ☐ centímetros más.

© Grupo Anaya, S.A. Material fotocopiable autorizado.

1 Ordena de menor a mayor.



568 507 564 546 570 586

☐ ○ ☐ ○ ☐ ○ ☐ ○ ☐ ○ ☐

2 Colorea los gazapos siguiendo el código.

La cifra 4 en las centenas ⟶ verdes

La cifra 4 en las decenas ⟶ marrones

La cifra 4 en las unidades ⟶ grises



3 Escribe en forma de multiplicación y de suma.

4 veces 6 ⟶ ☐ × ☐ ⟶ ☐ + ☐ + ☐ + ☐ = ☐

3 veces 5 ⟶ ☐ × ☐ ⟶ ☐ + ☐ + ☐ = ☐

3 veces 1 ⟶ ☐ × ☐ ⟶ ☐ + ☐ + ☐ = ☐

2 veces 9 ⟶ ☐ × ☐ ⟶ ☐ + ☐ = ☐

© Grupo Anaya, S.A. Material fotocopiable autorizado.

4 Colorea los números pares que están entre 579 y 597.



5 Rodea las pesas que sumen el peso de cada paquete.

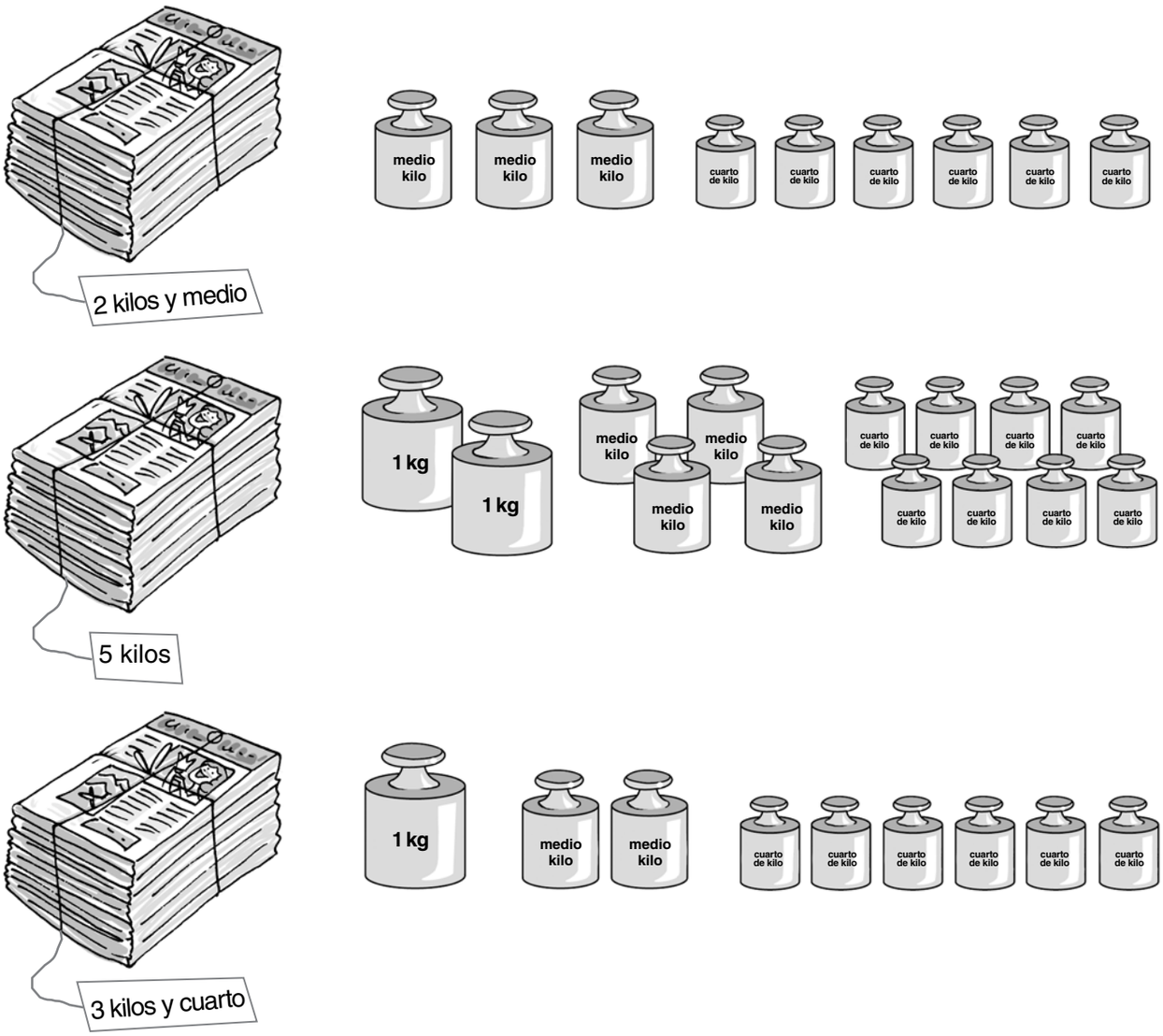

© Grupo Anaya, S.A. Material fotocopiable autorizado.

1 Escribe el número posterior en cada caso.

seiscientos ochenta y nueve → ☐

seiscientos siete → ☐

quinientos noventa y nueve → ☐

600 + 60 + 9 → ☐

600 + 90 → ☐

600 + 10 + 9 → ☐

2 Ordena los números anteriores de menor a mayor.

☐ ○ ☐ ○ ☐ ○ ☐ ○ ☐ ○ ☐

3 Lee y calcula.

253 - 376 - 408 - 607

✡ Resta al número par mayor, el número impar menor.

✸ Suma los dos números menores que cuatrocientos.

☞ Suma el número impar menor y el número par mayor.

✎ Resta al número impar mayor, el número par menor.

✡ ✸ ☞ ✎

4 Escribe el término que falta.

☐ – 20 = 30

☐ – 10 = 390

☐ – 60 = 210

5 Completa.

2 × 1 = ☐

2 × ☐ = 16

2 × ☐ = 4

2 × 9 = ☐

© Grupo Anaya, S.A. Material fotocopiable autorizado.

6 Lee y resuelve.

El equipo de Pablo resolvió ayer 6 problemas, y hoy han resuelto el doble que ayer. ¿Cuántos problemas han resuelto hoy?

☐ × ☐ = ☐

Hoy han resuelto ☐ problemas.

7 Lee y responde.

Elisa está comprando bebidas para la merienda con sus amigas. Ya ha metido en el carro 2 botellas de litro y medio de refresco de cola y 4 botellas de medio litro de zumo de naranja. ¿Cuántos litros ha comprado para la merienda?

Elisa ha comprado ☐ litros.

8 Escribe **V** si es verdadero y **F** si es falso.

Tres medios litros es igual a dos litros. ☐

Si tengo 4 cuartos de litro tengo 1 litro. ☐

Cinco litros es igual a 10 medios litros. ☐

Ocho cuartos de litro son 4 medios litros. ☐

Seis medios litros es igual a tres litros. ☐

© Grupo Anaya, S.A. Material fotocopiable autorizado.

1 Escribe los números formados por:

4 C, 7 D y 9 U → ____

7 C, 8 D y 7 U → ____

7 C, 9 D y 9 U → ____

5 C, 6 D y 7 U → ____

1 C, 7 D y 7 U → ____

6 C, 5 D y 1 U → ____

7 C, 4 D y 6 U → ____

7 C, 6 D y 5 U → ____

2 Colorea el valor de la cifra 7.

seiscientos setenta → 700 U | 70 U | 7 U

setecientos ocho → 700 U | 70 U | 7 U

ciento diecisiete → 700 U | 70 U | 7 U

709 → 700 U | 70 U | 7 U

537 → 700 U | 70 U | 7 U

671 → 700 U | 70 U | 7 U

3 Ordena los números de la actividad anterior de mayor a menor.

____ ○ ____ ○ ____ ○ ____ ○ ____ ○ ____

4 Sigue la serie con los números impares.

745 | ____ | ____ | ____ | ____ | 755 | ____ | ____ | ____ | ____ | 765

5 Colorea los resultados de las tablas del 3 y del 4.

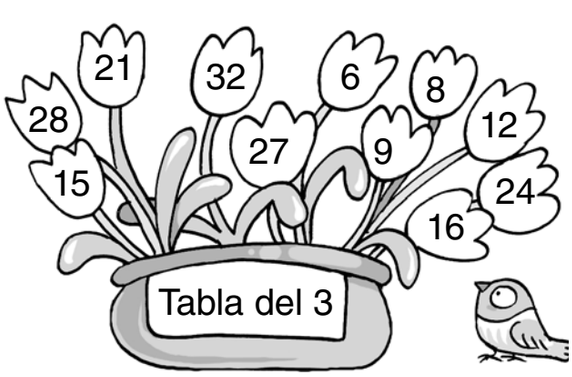



© Grupo Anaya, S.A. Material fotocopiable autorizado.

6 Lee y resuelve:

Mi abuela ha plantado en su jardín 4 filas de tulipanes. Si en cada fila hay 8 tulipanes, ¿cuántos tulipanes ha plantado en total?

☐ × ☐ = ☐

Ha plantado ☐ tulipanes.

7 Lee, rodea la solución correcta y resuelve.

El camión cisterna tiene que recorrer 412 km hasta llegar al pueblo que necesita el agua. Si ya ha recorrido 278 km, ¿cuántos kilómetros le faltan para llegar?

- Ha recorrido 278 km.
- Le faltan 134 km.
- Le faltan 690 km.



☐ ☐ ☐

8 Escribe qué tipo de línea es cada una.

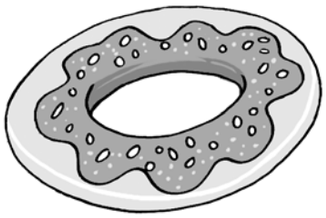

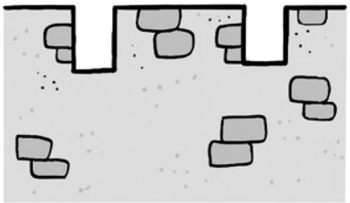

☐ ☐ ☐

☐ ☐ ☐

© Grupo Anaya, S.A. Material fotocopiable autorizado.

1 Escribe el signo < o >, según corresponda.

quinientos trece ◯ doscientos setenta — 6 C y 9 D ◯ 8 C, 6 D y 4 U

seiscientos ocho ◯ ochocientos treinta — 5 C y 7 D ◯ 5 C y 7 U

2 Ordena los números anteriores de mayor a menor.

☐ ○ ☐ ○ ☐ ○ ☐ ○ ☐ ○ ☐ ○ ☐ ○ ☐

3 Lee y calcula.

253 - 576 - 608 - 807

✡ Resta al número par mayor, el número impar menor.

✸ Suma los dos números menores que seiscientos.

☞ Suma el número impar menor y el número par mayor.

✎ Resta al número impar mayor, el número par menor.

✡ ✸ ☞ ✎

4 Lee, rodea el dato que falta y resuelve.

A la estación han llegado los esquidadores en autobús y en tren. Si viajaron en tren 176 esquiadores, ¿cuántos esquiadores viajaron en autobús?

- A la estación han llegado 320 personas.
- En la estación pueden esquiar hasta 900 personas.
- En el albergue se han quedado 23 personas.

© Grupo Anaya, S.A. Material fotocopiable autorizado.

5 Completa las multiplicaciones siguientes:

☐ × ☐ = 45	☐ × ☐ = 10	☐ × ☐ = 50
☐ × ☐ = 18	☐ × ☐ = 36	☐ × ☐ = 42
☐ × ☐ = 48	☐ × ☐ = 30	☐ × ☐ = 60

6 Señala los lados del pentágono en azul, los ángulos del triángulo en rojo y los vértices del hexágono en verde.

7 Colorea el polígono que corresponde.

Tengo 3 ángulos y 3 lados; soy un… →

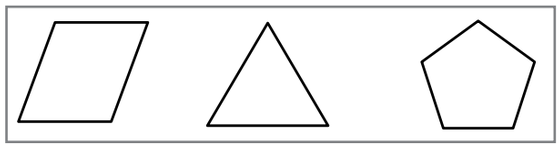

Tengo 5 lados y 5 vértices; soy un… →

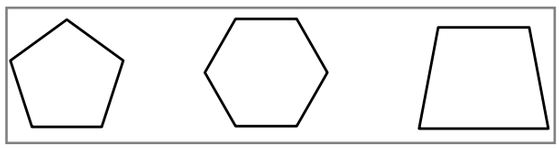

8 Cuenta cuántos círculos y cuántas circunferencias hay en este dibujo.

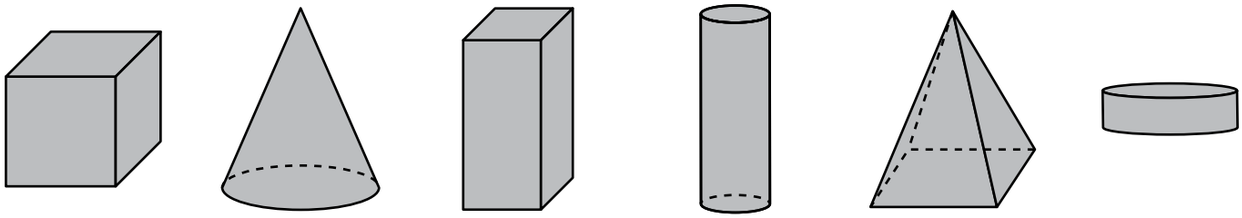

Círculos → ☐

Circunferencias → ☐

© Grupo Anaya, S.A. Material fotocopiable autorizado.

1 Clasifica los números siguientes.

985 459 119

692 690 954

898 739 971

Su cifra 9 vale 9 U → ☐ ☐ ☐

Su cifra 9 vale 90 U → ☐ ☐ ☐

Su cifra 9 vale 900 U → ☐ ☐ ☐

2 Ordena los números de la actividad anterior.

☐ < ☐ < ☐ < ☐ < ☐ < ☐ < ☐ < ☐ < ☐

3 Completa y escribe la descomposición.

Tengo tantas espinas como el número anterior a 900.

☐ → ☐ + ☐ + ☐

Mi número de espinas tiene 9 C y 9 U.

☐ → ☐ + ☐ + ☐

Las mías están entre 918 y 922, y son pares.

☐ → ☐ + ☐ + ☐

4 Escribe los números pares entre 912 y 958.

912	☐	☐	☐	☐	☐	☐	☐
☐	☐	☐	☐	☐	☐	☐	☐
☐	☐	☐	☐	☐	☐	☐	958

© Grupo Anaya, S.A. Material fotocopiable autorizado.

5 Completa.

$7 \times 2 =$ ☐ $7 \times 8 =$ ☐ $8 \times$ ☐ $= 40$ $8 \times$ ☐ $= 64$

6 Escribe multiplicaciones para estos resultados.

16 → ☐ ○ ☐ / ☐ ○ ☐

21 → ☐ ○ ☐ / ☐ ○ ☐

7 Lee, inventa la pregunta y resuelve.

Carmela ha comprado en la tienda 8 paquetes de pilas alcalinas. Cada paquete lleva 6 pilas.

☐

☐ ☐

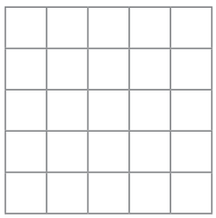

☐ ☐

☐ ☐ ☐

8 Escribe el cuerpo geométrico que representa cada objeto.

☐ ☐ ☐

© Grupo Anaya, S.A. Material fotocopiable autorizado.

1 Escribe cómo se leen y dibuja en los ábacos los números pares.

806: _____

791: _____

948: _____

982: _____

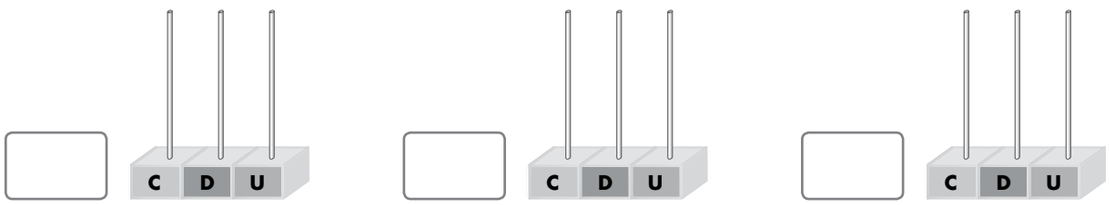

2 Ordena los números de la actividad anterior.

☐ > ☐ > ☐ > ☐

3 Escribe el signo que corresponda, < o >, y la descomposición de cada número.

659 ◯ 956

☐ + ☐ + ☐

☐ + ☐ + ☐

640 ◯ 406

☐ + ☐ + ☐

☐ + ☐ + ☐

4 Rodea el número impar mayor que 967.

972 790 992 979 959

5 Tacha los números pares menores que 860.

972 769 614 846 738 854 868

© Grupo Anaya, S.A. Material fotocopiable autorizado.

6 Calcula y rodea los resultados impares.

$$\begin{array}{r} 710 \\ -\ 187 \\ \hline \end{array} \qquad \begin{array}{r} 829 \\ -\ 276 \\ \hline \end{array} \qquad \begin{array}{r} 926 \\ -\ 528 \\ \hline \end{array} \qquad \begin{array}{r} 641 \\ -\ 174 \\ \hline \end{array}$$

7 Completa las tablas:

×	8	4	9	6
7				
8				

×	5	7	9	2
9				
10				

8 Observa la tabla y responde.

	Lunes	Martes	Miércoles	Jueves	Viernes
1:30 - 2:00	Taller de ajedrez	Chino	Taller de robótica	Chino	Taller de ajedrez
5:00 - 5:45	Fútbol	Hip hop	Fútbol	Hip hop	Fútbol

¿Qué taller hace Raquel los miércoles?

¿Qué actividad hace los martes y jueves a las 5?

¿Qué días y en qué horario Raquel estudia chino?

© Grupo Anaya, S.A. Material fotocopiable autorizado.

1 Clasifica los números siguientes:

La cifra 6 vale 6 U. → ☐ ☐ ☐

La cifra 8 vale 8 U. → ☐ ☐ ☐

La cifra 9 vale 900 U. → ☐ ☐ ☐

189 908 931 456 796 789 896 960 680

2 Pinta del mismo color los robots con el mismo número.



5 C y 73 U | 753 U | 3 C y 57 U | 573 U | 700 + 50 + 3 | 357 U

3 Escribe el siguiente número impar.

Trescientos siete: ☐

Ciento cuarenta y tres: ☐

Ochocientos noventa y nueve: ☐

Quinientos veintiuno: ☐

4 Subraya los números donde la cifra 8 tenga un valor de 80 unidades.

958 829 784 839 198 583 489

5 Coloca y resuelve.

98 + 409

572 – 381

937 – 88

432 – 163

© Grupo Anaya, S.A. Material fotocopiable autorizado.

6 Coloca y multiplica.

40×7	90×8	73×3	84×2

7 Lee y resuelve.

En la tienda han recibido 7 cajas con 21 bolsitas de té cada una. ¿Cuántas bolsas de té hay?

Hay

8 Observa el gráfico y contesta.

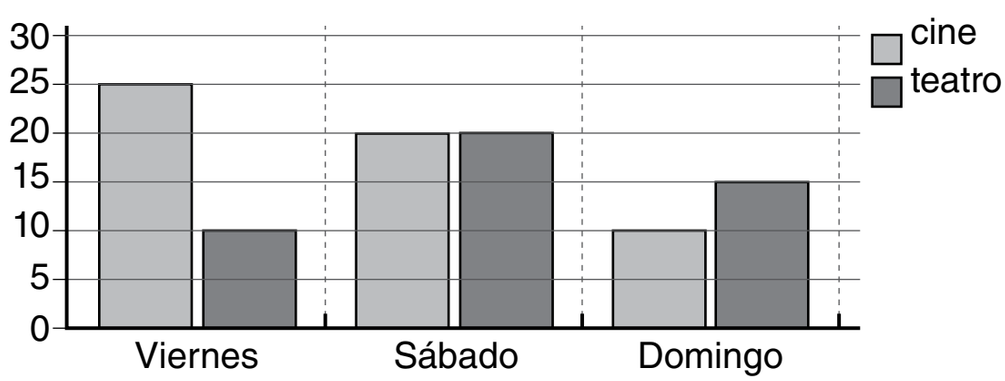

¿Qué día ha ido más gente al teatro?

¿Cuántas personas fueron al cine el viernes?

¿Cuál es la actividad favorita del domingo?

© Grupo Anaya, S.A. Material fotocopiable autorizado.

Nombre y apellidos:

Fecha:

Matemáticas 2.°

EF

1 Escribe el número y cómo se lee.

Anterior a 4 C y 6 U: _____

Posterior a 85 D: _____

Anterior a 700 U: _____

Posterior a 9 C y 7 U: _____

2 Ordena.

De mayor a menor	De menor a mayor
856 472 490 863	692 269 946 681
☐ ○ ☐ ○ ☐ ○ ☐	☐ ○ ☐ ○ ☐ ○ ☐

3 Escribe el número y su descomposición.

8 U 9 C 4 D

☐ → ☐ + ☐ + ☐

3 U 6 C 7 D

☐ → ☐ + ☐ + ☐

4 Escribe el número de orden de cada niño en la lista de la clase.

María está en el 11.º lugar. Dos puestos más arriba está Gloria. Sergio es el siguiente a María y, tres puestos detrás de él, está Ramiro.

María: _____ Sergio: _____

Gloria: _____ Ramiro: _____

5 Sigue la serie escribiendo los números pares.

888 ☐ ☐ ☐ ☐ ☐ ☐ ☐ ☐ ☐ 908

© Grupo Anaya, S.A. Material fotocopiable autorizado.

6 Suma y colorea el polígono si es resultado es impar.

584	362	436	339
165	95	257	165
+ 43	+ 318	+ 93	+ 149

7 Resta y haz la prueba.

920	746	600
− 471	− 278	− 135

8 Escribe los términos que faltan.

Minuendo	Sustraendo	Diferencia
	345	278
804	268	

9 Completa las tablas.

×	4	6	9	3	8
2					
5					

×					
	12	28	24	20	8
	27	63	54	45	18

10 Coloca y multiplica.

61 × 8

53 × 3

70 × 7

44 × 2

© Grupo Anaya, S.A. Material fotocopiable autorizado.

11 Completa con la unidad adecuada.

He desayunado un cuarto de _____ de leche.

Mi lazo mide 50 _____ de largo.

La clase de educación física dura 45 _____

He pedido al charcutero 3 cuartos de _____ de jamón de york.

He comprado una goma de borrar por 75 _____ de euro.

12 Escribe la hora a la que despegó el avión.

Daniela salió de casa a las 8:30 de la mañana. El trayecto al aeropuerto duró 30 minutos. Aparcar y facturar el equipaje, media hora. Cuando terminó, se fue a la sala de embarque y esperó 15 minutos, antes del despegue del avión.

El avión despegó a las _____

13 Lee y resuelve.

En la sala de embarque, Daniela se compró una revista que valía 3 € y 25 céntimos. Pagó con 2 monedas de dos euros. ¿Cuántos céntimos le devolvieron?

3 € y 25 céntimos son ☐ céntimos.

2 monedas de 2 € son ☐ céntimos.

Le devolvieron ☐ céntimos.

© Grupo Anaya, S.A. Material fotocopiable autorizado.

14 Rodea la operación adecuada en cada caso y resuelve.

El billete de avión le costó el doble que el de tren, que valía 40 euros.

40 – 2 40 + 2 40 × 2 El billete costó ☐ euros.

Un café costaba 2 euros menos que un refresco, que valía 4 euros.

4 – 2 4 + 2 4 × 2 Un café costó ☐ euros.

15 Marca la pregunta que puedas contestar y resuelve el problema.

Raúl recorrió ayer 5 km por la mañana y 3 km por la tarde. Hoy ha recorrido el doble de los kilómetros que recorrió ayer por la mañana.

☐ ¿Cuántos kilómetros recorrerá mañana?

☐ ¿Cuántos kilómetros recorrió hoy?

☐ ¿Cuántos kilómetros recorrió su padre?

☐ × ☐ = ☐

☐ ☐ ☐

16 Dibuja siguiendo las instrucciones.

Dos círculos azules y el doble de circunferencias rojas.

Tres circunferencias verdes y cuatro círculos amarillos.

© Grupo Anaya, S.A. Material fotocopiable autorizado.