03863

MATEMATICAS 1º PRIMARIA

1. Escribe los siguientes números:

1 -

2 -

3 -

4 -

5 -

6 -

7 -

8 -

9 -

10 -

2. Dibuja los puntos que faltan y completa las sumas.



5 + ... = 8



4 + ... = 8



6 + ... = 9



5 + ... = 7



3 + ... = 6



4 + ... = 5

3. Completa las sumas:

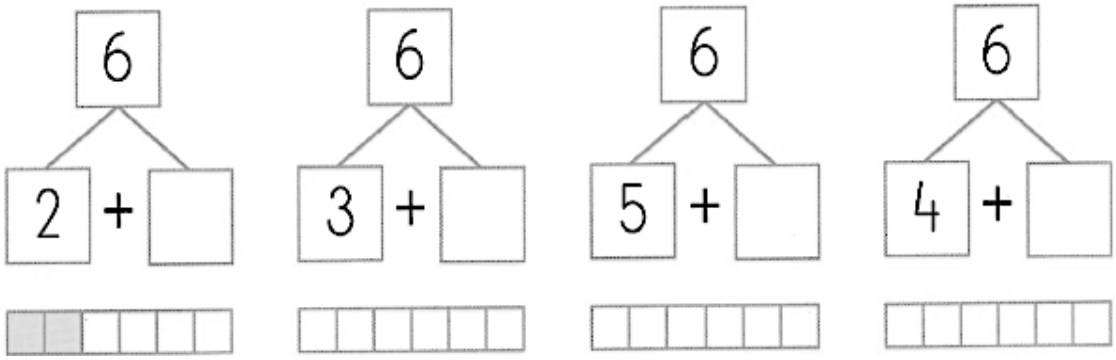

4. Completa.

1 decena y 5 unidades → 10 + ... = ...

1 decena y 2 unidades → 10 + ... = ...

1 decena y ..... unidades → 10 + 9 = ...

1 decena y ..... unidades → 10 + 7 = ...

..... decena y ..... unidades → 10 + ... = 13

5. Calcula.

5 + 2 = ...	2 + 2 = ...	7 − 1 = ...	1 − 1 = ...
3 + 2 = ...	0 + 2 = ...	2 − 1 = ...	4 − 1 = ...
7 + 2 = ...	4 + 2 = ...	5 − 1 = ...	8 − 1 = ...

6. Suma.

4 + 2 = ...	5 + 1 = ...	7 + 2 = ...	2 + 2 = ...
3 + 2 = ...	2 + 1 = ...	3 + 3 = ...	4 + 1 = ...
4 + 4 = ...	1 + 3 = ...	8 + 1 = ...	1 + 7 = ...

7. Escribe mayor que ">", menor que "<" o igual "=".

2 = 2

..... ☐ .....

..... ☐ .....



..... ☐ .....

..... ☐ .....

..... ☐ .....

8. Colorea según el código.

Rojo: 5 Azul: 7 Verde: 6 Amarillo: 8

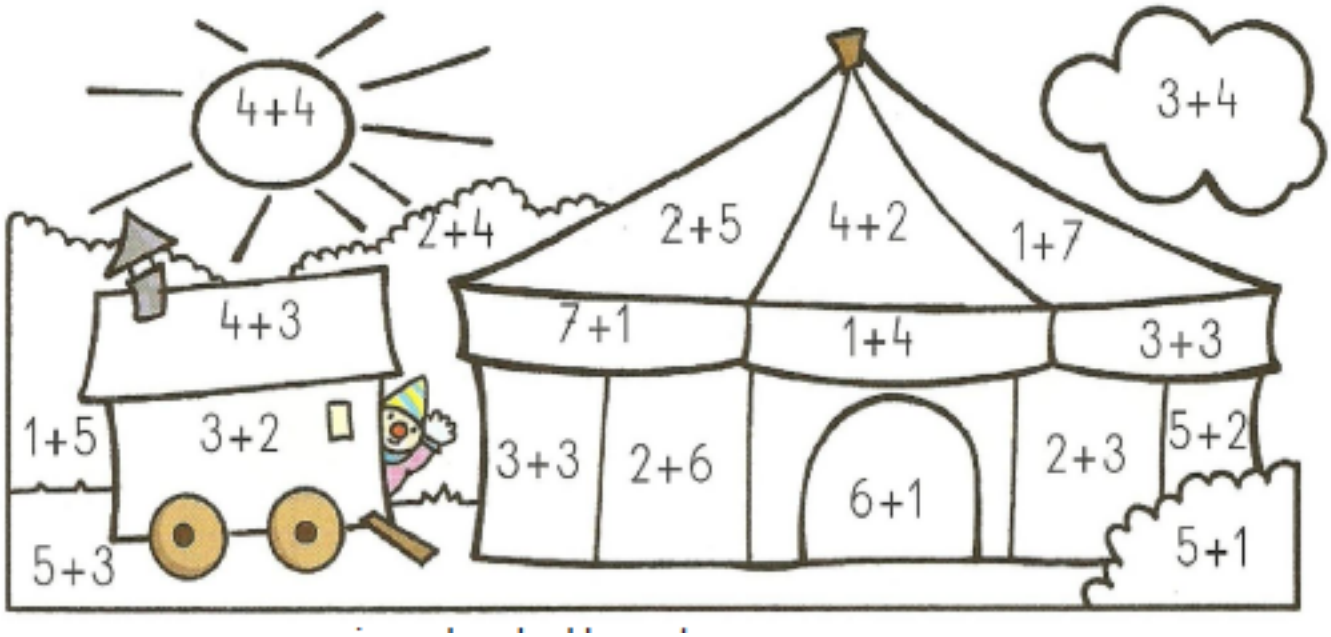

9. Suma y relaciona las sumas que tienen el mismo resultado.

5 + 1 = 6	1 + 3 = ...
3 + 1 = ...	1 + 7 = ...
7 + 1 = ...	1 + 5 = 6
6 + 1 = ...	1 + 8 = ...
8 + 1 = ...	1 + 4 = ...
4 + 1 = ...	1 + 6 = ...

10.Resta.

4 − 3 = ...	2 − 2 = ...	4 − 2 = ...	5 − 1 = ...
3 − 0 = ...	4 − 1 = ...	3 − 2 = ...	4 − 4 = ...
5 − 4 = ...	3 − 1 = ...	5 − 2 = ...	2 − 1 = ...

11. Escribe los siguientes números:

11 -

12 -

13 -

14 -

15 -

16 -

17 -

18 -

19 -

20 -

12. Ordena de menor a mayor.

2	<		<		<		<		<	

13. Escribe los signos o los números que falten.

3	=	3	4	<	7	9	>	8
6		2	7		4	2		5
4	<		2	>		8	=	
8		7	9		9	8	<	

14. Resta.

	5	8	2	15	11	17	19
-1	4						

	7	5	2	10	16	11	13
-2	5						

15. Escribe el número anterior y posterior.

19 → 20	14 → ☐	21 → ☐
24 → ☐	28 → ☐	18 → ☐
5 ← 6	☐ ← 21	☐ ← 20
☐ ← 18	☐ ← 26	☐ ← 30

16. Resuelve.

Si me como 2 caramelos, ¿cuántos quedarán?

..... ☐ ..... = ...

Quedarán ..... caramelos.

Si compro 3 libros más, ¿cuántos tendré?

..... ☐ ..... = ...

Tendré ..... libros.

03863

17. Resuelve.

Tengo 5 lápices rojos y 4 lápices azules. ¿Cuántos lápices tengo?

..... ☐ ..... = ...

Tengo ..... lápices.

Si regalo 5 canicas, ¿cuántas me quedarán?

..... ☐ ..... = ...

Me quedarán ..... canicas.



18. Escribe el anterior y el posterior.

4	5	6
	40	
	9	
	49	
	70	

	11	
	19	
	30	
	20	
	59	

19. Cuenta de 2 en 2.

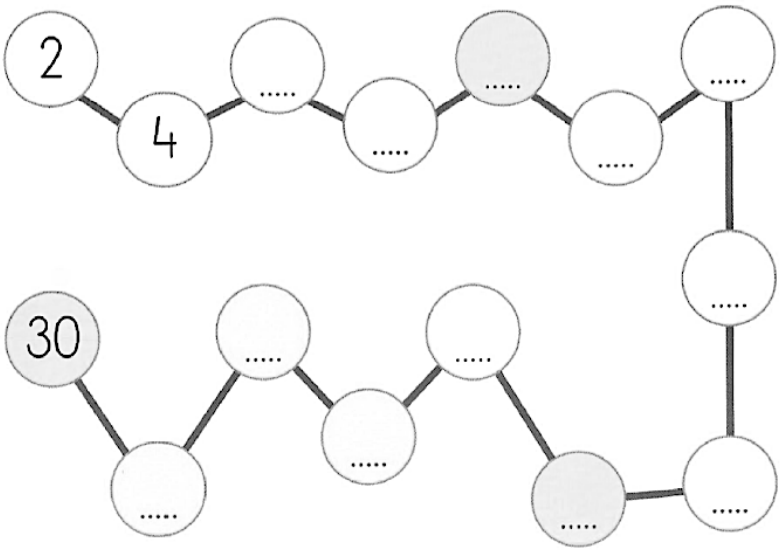

20. Ordena de menor a mayor.

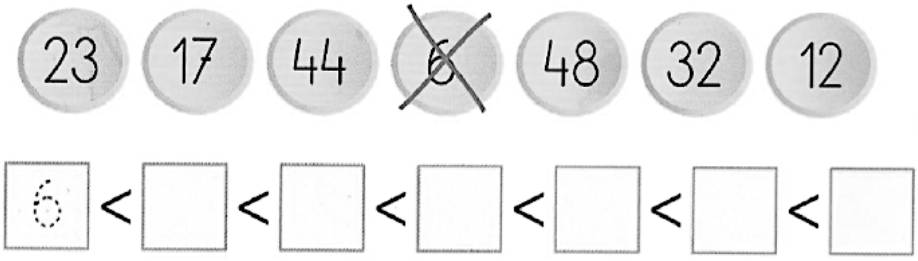

21. Escribe los siguientes números:

31 -

32 -

33 -

34 -

35 -

36 -

37 -

38 -

39 -

40 -

22. Resuelve.

Hay 5 . Si se van 3 ,
¿cuántos quedarán?

..... ☐ ..... = ...

Quedarán .....

Tengo 6 . Si compro otros 3 ,
¿cuántos tendré?

..... ☐ ..... = ...

Tendré .....

Tengo 3 canicas rojas y 3 canicas amarillas. ¿Cuántas canicas tengo?

..... ☐ ..... = ...

Tengo ..... canicas.

23. Continúa la serie.

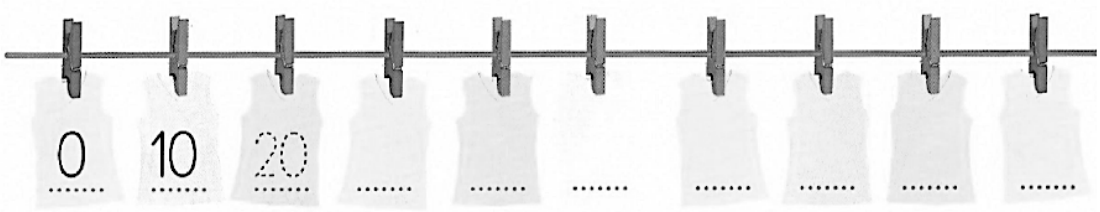

24. Sigue la serie uniendo los puntos.

25. Ordena de mayor a menor.

24 30 9 35 5 47 11

47 > ☐ > ☐ > ☐ > ☐ > ☐ > ☐

26. Calcula.

40 + 10 = ...	50 + 30 = ...	20 + 20 = ...	60 + 30 = ...
60 − 20 = ...	70 − 50 = ...	40 − 10 = ...	30 − 20 = ...

27. Sigue la serie.

29 → 28 → ..... → ..... → ..... → ..... → ..... → 17 → ..... → ..... → ..... → ..... → ..... → 30 → 29

03863

28. Sigue la serie uniendo los puntos.

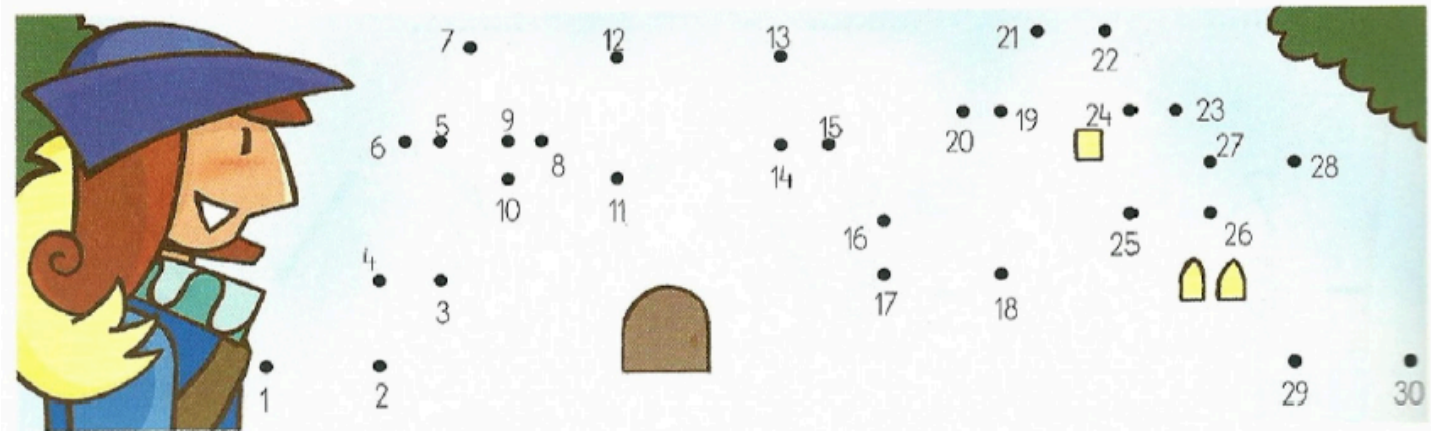

29. Completa la serie. ¿Qué número tapa cada flor?

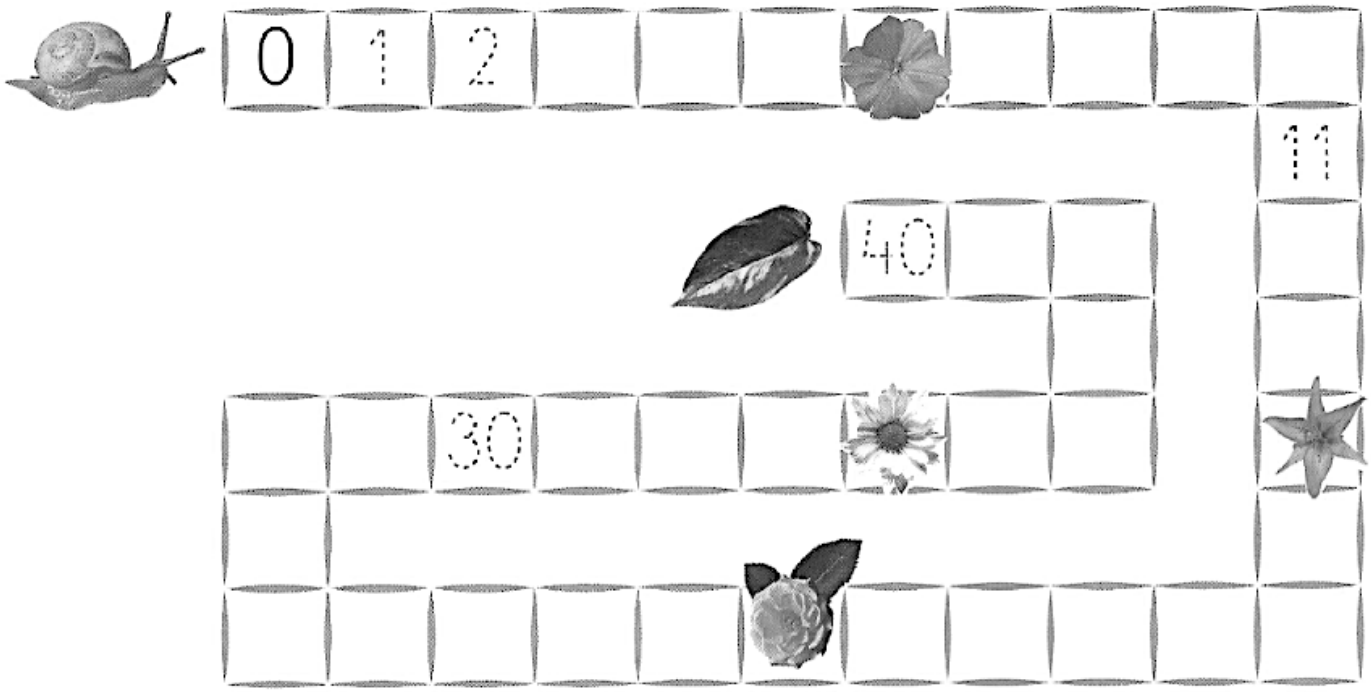

.....

.....

.....

.....

30. Pinta el camino que debe seguir el oso. Cuenta de dos en dos, empezando por el uno.

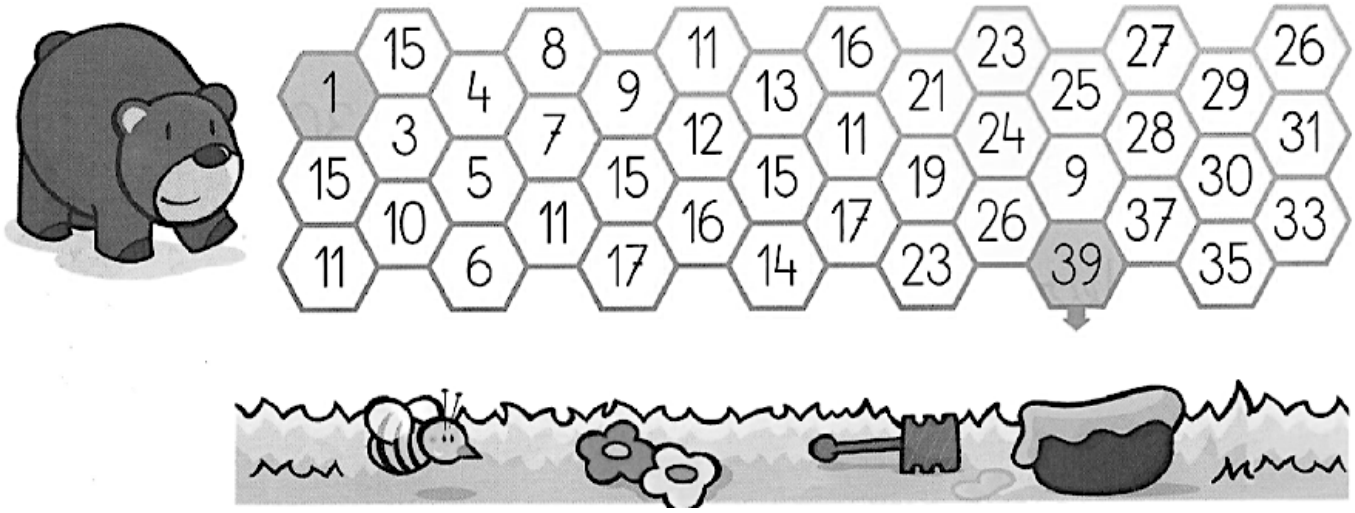

31. Rodea:

El número menor

7	32	5

24	36	18

31	45	36

31	27	43

El número mayor

9	15	2

31	27	19

40	39	47

18	37	25

32. Coloca y suma.

34 + 15

	d	u
+		

53 + 22

	d	u
+		

47 + 31

	d	u
+		

25 + 33

	d	u
+		

13 + 52

	d	u
+		

24 + 32

	d	u
+		

18 + 61

	d	u
+		

73 + 12

	d	u
+		

33. Escribe los siguientes números:

41 -

42 -

43 -

44 -

45 -

46 -

47 -

48 -

49-

50 -

34. Sigue la serie de dos en dos.

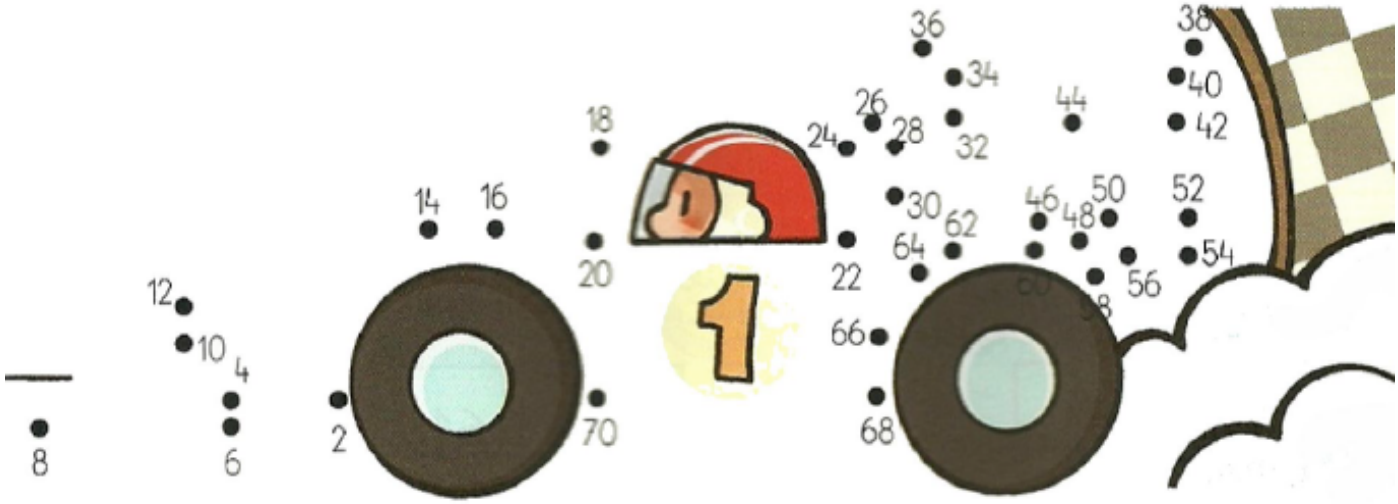

35. Dibuja si es necesario y resuelve.

Antes tenía 6 flores. Ahora tengo ..... flores.
¿Cuántas me han regalado?

Operación: ..... ☐ ..... = ...

Había 9 globos. Ahora quedan ..... globos.
¿Cuántos han explotado?



Operación: ..... ☐ ..... = ...

Solución: Han explotado ..... globos.

36. Escribe los siguientes números:

51 -

52 -

53 -

54 -

55 -

56 -

57 -

58-

59 -

60 -

37. Completa.

..... decenas y ..... unidades

40 + 5 = ...

..... decenas y ..... unidades

☐ + ☐ = ...

..... decena y ..... unidades

☐ + ☐ = ...

..... decenas y ..... unidades

☐ + ☐ = ...

..... decenas y ..... unidades

☐ + ☐ = ...

..... decenas y ..... unidades

☐ + ☐ = ...

38. Une los puntos del 1 al 50.

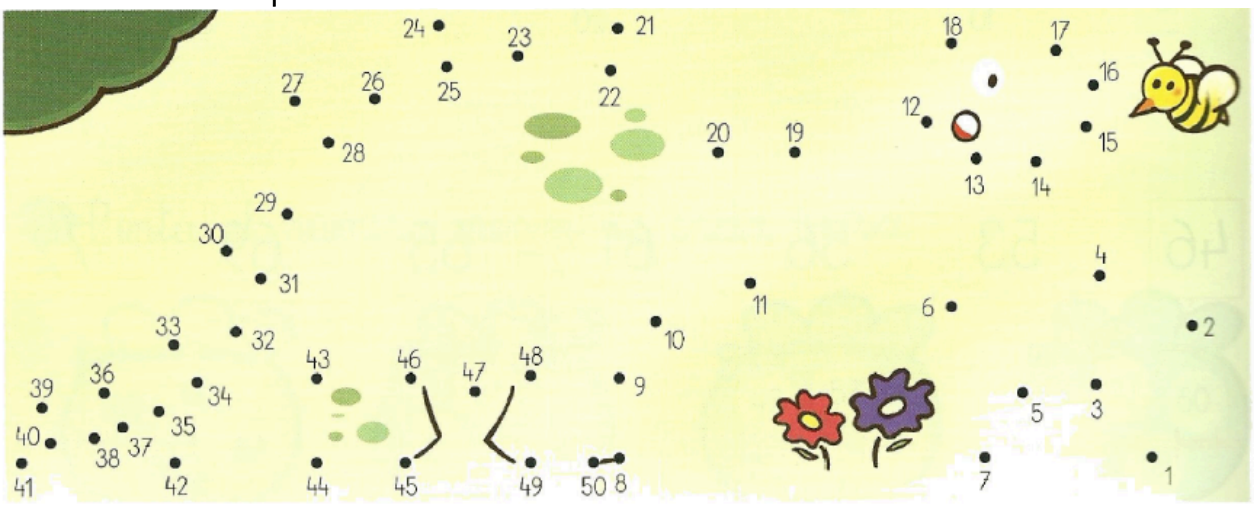

39. Coloca y resta.

65 - 32	59 - 42	39 - 27	46 - 15
d u	d u	d u	d u
-	-	-	-

27 - 15	68 - 26	58 - 20	66 - 31
d u	d u	d u	d u
-	-	-	-

40.Coloca y resuelve.

96 – 5

79 – 59

68 – 20

48 – 6

23 + 4

30 + 47

48 – 25

87 – 30

41.Escribe los siguientes números:

61 -

62 -

63 -

64 -

65 -

66 -

67 -

68 -

69 -

70 -