Matemáticas. 3º Primaria **Repaso Primer Trimestre.**

Nombre: _____

Completa como en el ejemplo

2 centenas = 20 decenas= 200 unidades

2 C = 20 D = 200 U

3 centenas = _____ decenas= _____unidades

3 C = D = U

____ centenas = 50 decenas= _____unidades

C = 50 D = U

_____ centenas = 70 decenas= _____unidades

C = 70 D = U

_____ centenas = _____ decenas= 500 unidades

C = D = 500 U

_____centenas = _____ decenas= 900unidades

C = D = 900 U

30 X 5=

45+ 12=

Celia Rodríguez Ruiz

Matemáticas. 3º Primaria **Repaso Primer Trimestre.**

Nombre: _____

Completa la serie

1 C	2 C	3 C	4 C			7 C
100	200			500	600	

Mi abuela se ha leído un libro en 2 días. El primer día se leyó 134 páginas, y el segundo día, 153. ¿Cuántas páginas tiene el libro?

	páginas		
Día 1		La Operación es	
Día 2			

Resultado

Suma 22

12	34	56	78					188

Celia Rodríguez Ruiz

Matemáticas. 3º Primaria **Repaso Primer Trimestre.**

Nombre: _____

María tiene 58 cromos. Necesita 125 para completar la colección ¿Cuántos cromos le faltan?

	Cromos		
Tiene		La Operación es	
Necesita			

Resultado

Completa

245	→	2 C 4 D y 5 U		→	5 C 3 D y 2 U
376	→	C D y U		→	7C 2 D y 8 U
409	→	C D y U	970	→	C D y U
538	→	C D y U		→	4 C 0 D y 3U
901	→	C D y U	765	→	C D y U

Celia Rodríguez Ruiz

Matemáticas. 3º Primaria **Repaso Primer Trimestre.**

Nombre: _____

Escribe el número anterior y posterior

	←	198	→			←	815	→	
	←	392	→			←	544	→	
	←	630	→			←	546	→	

Sumas

328 +561	506 + 346	699 +458	707 +629
298 +593	625 + 279	940 + 655	654 + 965

Celia Rodríguez Ruiz

Matemáticas. 3º Primaria **Repaso Primer Trimestre.**

Nombre: _____

Completa la serie

	−5	−4	−3	−2	−2	−5	−4
125	120						100

Escribe el signo mayor > o menor < según corresponda

458		498	126		106
286		268	329		345
290		299	656		758

Ordena de menor a mayor

728	253	347	269	654	757	810	236	311	129

Ordena de mayor a menor

412	615	531	445	136	197	480	423	183	831

Celia Rodríguez Ruiz

Matemáticas. 3º Primaria **Repaso Primer Trimestre.**

Nombre: _____

Sumas

321 417 + 139	821 334 + 392	604 192 + 173	492 148 + 720

En un quiosco reciben por la mañana 2 centenas de periódicos, si venden 158 durante el día ¿Cuántos les quedan sin vender?

	Periódicos
Reciben	
Venden	

La Operación es

Resultado

Matemáticas. 3º Primaria **Repaso Primer Trimestre.**

Nombre: _____

Restas

560 _ 127	374 _ 231	652 _ 198	835 _ 467

138 _129	651 _ 477	456 _ 179	546 _ 229

Completa la serie

	X2		+1		−2		−5		X3	
5										12

Celia Rodríguez Ruiz

Matemáticas. 3º Primaria **Repaso Primer Trimestre.**

Nombre: _____

Un tren tiene 689 asientos. En la primera estación suben 232 personas, en la segunda suben 194 y se bajan 69 ¿Cuántos asientos quedan libres ?

	Asientos
Total	
Suben 1	
Suben 2	
Bajan	

La Operación es

Resultado

En un colegio hay 854 niños y niñas en total. En infantil hay 426 niños y niñas. ¿Cuántos hay en primaria?

	Niños y niñas
Total	
Infantil	

La Operación es

Resultado

Celia Rodríguez Ruiz

Matemáticas. 3º Primaria **Repaso Primer Trimestre.**

Nombre: _____

Escribe el valor de cada cifra

3	5	6

Vale _____ Unidades

Vale _____ Unidades

Vale _____ Unidades

4	6	7

Vale _____ Unidades

Vale _____ Unidades

Vale _____ Unidades

5	3	9

Vale _____ Unidades

Vale _____ Unidades

Vale _____ Unidades

6	0	3

Vale _____ Unidades

Vale _____ Unidades

Vale _____ Unidades

Completa la serie

	−5	−4	−3	−2	−2	−5	−4	
225	220							200

34 − 12=

5X9=

Celia Rodríguez Ruiz

Matemáticas. 3º Primaria **Repaso Primer Trimestre.**

Nombre: _____

Escribe el valor de la cifra 2 en cada caso

234 →	_____unidades	542 →	_____unidades
129 →	_____unidades	231 →	_____unidades
602 →	_____unidades	724 →	_____unidades

Tacha los números mayores que 143

122	144	150	134	148	140	152
141	133	114	149	157	103	119
163	139	127	138	153	115	129

¿Cómo se escribe el número?

34521	
26583	
40102	

Celia Rodríguez Ruiz

Matemáticas. 3º Primaria **Repaso Primer Trimestre.**

Nombre: _____

Relaciona cada suma con su resta, como en el ejemplo

26+13=39 → 39 – 13= 26

32+21= ☐

24+64= ☐

52+21= ☐

38+61= ☐

73 – 52= ☐

99 – 61= ☐

53 – 32= ☐

88 – 64= ☐

Escribe los números que faltan

3 2 8 +5 ☐ 1	1 3 4 +5 1 ☐	2 1 3 + ☐ 3 ☐
8 6 9	6 4 6	3 4 5
2 1 4 + ☐ 1 2	2 2 6 +3 ☐ ☐	5 4 2 + ☐ ☐ ☐
4 2 6	5 8 7	8 5 6

Celia Rodríguez Ruiz

Matemáticas. 3º Primaria **Repaso Primer Trimestre.**

Nombre: _____

Escribe la descomposición del número

51302	5DM + 1 UM + 3 C+ 0 D + 2 U
	50 000 + 1000 + 300 + 0 + 2
27034	__DM + __ UM + __ C+ __ D+ __U
	_____ + _____+ _____ + ___+ ___
51302	__DM + __ UM + __ C+ __ D+ __U
	_____ + _____+ _____ + ___+ ___

En una tienda de juguetes había 234 osos de peluche. Ayer se vendieron 59 y hoy se han vendido 85 ¿Cuántos osos de peluche quedan?

	Osos de peluche
Había	
Ayer se venden	
Hoy se venden	

La Operación es

Resultado

Matemáticas. 3º Primaria **Repaso Primer Trimestre.**

Nombre: _____

Rodea los números que tienen 2 centenas

212 2132 312 432 3242 4200
5240 122 2530
622 240 342 2032
321 492 6233 2032 249 542
212

Rodea en cada pareja el número mayor azul y el menor en verde

122 – 132	164 – 154	403 – 412
234 – 243	248 – 232	522 – 512
94 – 89	323 – 320	603 – 605

Calculo

200 – 80=	200 – 70=	200 – 60=	200 – 50=
20 – 8=	20 – 7=	20 – 4=	20 – 5=

Celia Rodríguez Ruiz

Matemáticas. 3º Primaria **Repaso Primer Trimestre.**

Nombre: _____

Coloca los números y suma

273+ 142+24=

345+ 18+504=

189+ 46+609=

96+ 612+450=

Multiplica

8X 10 =

7 X 10=

9 X 6 =

7 X 5 =

5X 8=

6 X 7=

Celia Rodríguez Ruiz

Matemáticas. 3º Primaria **Repaso Primer Trimestre.**

Nombre: _____

Completa la tabla como en el ejemplo

Número	Descomposición	Descomposición	Se lee
192	1C+ 9 D + 2 U	100+90+2	Ciento noventa y dos
654			
	5C+ 6 D + 1 U		
		400+80+5	
			Doscientos veintisiete
	8 C+ 0 D + 3 U		
937			
			Seiscientos quince
		300+40+0	

Multiplica

9 X 6=

7 X 9 =

8 X 7=

6 X 8 =

5X 8=

7 X 5 =

Celia Rodríguez Ruiz

Matemáticas. 3º Primaria **Repaso Primer Trimestre.**

Nombre: _____

En una pecera hay 232 peces, en otra hay 180 peces ¿Cuántos peces más hay en la primera pecera?

	Peces
1ª Pecera	
2ª Pecera	

La Operación es

Resultado

Escribe los números y relaciónalos

Mil doscientos tres		1DM+2UM+8C+2D+0U
Cuarenta mil ciento dos		5DM+3UM+3C+1D+2U
Cincuenta y tres mil trescientos doce		1UM+2C+0D+3U
Cuatro mil cuarenta y nueve		4DM+0UM+1C+0D+2U
Doce mil ochocientos veinte		4UM+0C+4D+9U

Celia Rodríguez Ruiz

Matemáticas. 3º Primaria **Repaso Primer Trimestre.**

Nombre: _____

Para el cumpleaños de Marta faltan 223 días, para el de su hermana faltan 140 días menos ¿Cuántos días faltan para el cumpleaños de su hermana?

	Días
Marta	
Su hermana	

La Operación es

Resultado

En una granja hay tres perros, esta semana el perro negro se ha comido 240 patatas, el perro marrón 30 patatas más y el perro blanco se ha comido 165 patatas. ¿Cuántas patatas se han comido en total?

	Patatas
Negro	
Marrón	
Blanco	

Operaciones

Resultado

Celia Rodríguez Ruiz

Matemáticas. 3º Primaria **Repaso Primer Trimestre.**

Nombre: _____

Completa como en el ejemplo

5 centenas = 50 decenas= 500 unidades

5C = 50 D = 500 U

6 centenas = _____ decenas= _____unidades

C = D = U

____ centenas = 20 decenas= _____unidades

C = D = U

_____ centenas = 80 decenas= _____unidades

C = D = U

_____ centenas = _____ decenas= 700 unidades

C = D = U

_____centenas = _____ decenas= _____unidades

C = D = 900 U

20 X 6=

65+ 23=

Celia Rodríguez Ruiz

Matemáticas. 3º Primaria **Repaso Primer Trimestre.**

Nombre: _____

Escribe el número anterior y posterior

	←	981	→			←	799	→	
	←	467	→			←	649	→	
	←	802	→			←	528	→	

Sumas

1234 +5097	4309 + 2176	3210 +1987	7630 +2453
3408 +5931	6055 + 4509	9769 + 6551	2348 + 9623

Celia Rodríguez Ruiz

Matemáticas. 3º Primaria **Repaso Primer Trimestre.**

Nombre: _____

Sumas

3054 342 + 1087	8200 3126 + 12	6041 3201 + 223	5432 59 + 7560

Un barco ha pescado 234 atunes, otro barco pesca 46 atunes menos que el primero. ¿Cuántos atunes han pescado en total?

	Atunes
1 Barco	
2 Barco	

Operaciónes

Resultado

Celia Rodríguez Ruiz

Matemáticas. 3º Primaria **Repaso Primer Trimestre.**

Nombre: _____

Restas

623 _ 227	549 _ 463	876 _ 383	743 _ 589

210 _134	473 _ 215	912 _ 213	655 _ 250

Completa la serie

	−5		−4		−3		−2		−2		−5		−4
230		225											105

Completa la serie

	x2		+2		−5		−5		x2		+2		−4
9													17

Celia Rodríguez Ruiz

Matemáticas. 3º Primaria **Repaso Primer Trimestre.**

Nombre: _____

Escribe el signo mayor > o menor < según corresponda

1230		1320	1999		1899
2134		2233	3452		3455
4500		4448	7320		6321

Ordena de menor a mayor

345	124	907	321	355	320	675	532	311	346

Ordena de mayor a menor

532	618	531	490	590	764	548	423	982	308

Suma 30

11	41	71	101					251

54 – 12=

8X8=

Celia Rodríguez Ruiz

Matemáticas. 3º Primaria **Repaso Primer Trimestre.**

Nombre: _____

Completa la tabla como en el ejemplo

Número	Descomposición	Descomposición	Se lee
634	6C+ 3D + 4U	600+30+4	Seiscientos treinta y cuatro
512			
	9C+ 9 D + 0 U		
		200+30+6	
			Ciento catorce
	7 C+ 1 D + 0 U		
407			
			Trescientos tres
		600+0+3	

Multiplica

10 X 6=

7 X 6 =

8 X 8=

6 X 7 =

9X 8=

7 X 3 =

Celia Rodríguez Ruiz

Matemáticas. 3º Primaria **Repaso Primer Trimestre.**

Nombre: _____

Escribe el valor de cada cifra

5	3	0

Vale _____ Unidades

Vale _____ Unidades

Vale _____ Unidades

2	0	8

Vale _____ Unidades

Vale _____ Unidades

Vale _____ Unidades

9	2	8

Vale _____ Unidades

Vale _____ Unidades

Vale _____ Unidades

7	6	5

Vale _____ Unidades

Vale _____ Unidades

Vale _____ Unidades

¿Cómo se escribe el número?

24578	
86504	
32920	

Celia Rodríguez Ruiz

Matemáticas. 3º Primaria **Repaso Primer Trimestre.**

Nombre: _____

Necesito 125 euros , si tengo ahorrados 65 euros y mi abuela me da 30 euros. ¿Cuánto necesito ahora?

	Euros
Total	
ahorrado	
Abuela	

La Operación es

Resultado

En la clase de Lucía hay 68 globos, en la clase de Carlos hay 18 globos más que en la de Lucía. Si queremos tener 200 globos en total ¿Cuántos nos faltan?

	Globos
Total	
Lucía	
Carlos	

La Operación es

Resultado

Celia Rodríguez Ruiz

Matemáticas. 3º Primaria **Repaso Primer Trimestre.**

Nombre: _____

Escribe el valor de la cifra 3 en cada caso

3871 →	_____unidades	5432 →	_____unidades
7003 →	_____unidades	5342 →	_____unidades
1342 →	_____unidades	1293 →	_____unidades

Relaciona cada suma con su resta, como en el ejemplo

13+13=26 → 26 – 13= 13

48+12=		96 – 24=	
65+15=		50 – 12=	
72+24=		80 – 30=	
30+50=		70 – 15=	

Rodea los números que tienen 5 centenas

543 2530 315 435 3542 4500

5240 125 652 540 5130 345 5035

351 495 6353 2035 549 542

512

Celia Rodríguez Ruiz

Matemáticas. 3º Primaria **Repaso Primer Trimestre.**

Nombre: _____

Escribe los números que faltan

4 5 6 +2 ☐ 3	4 5 6 +5 6 ☐	4 2 0 + ☐ 5 ☐
6 8 9	10 1 8	8 7 6
5 1 2 + ☐ 3 4	1 3 2 +3 ☐ ☐	6 2 1 + ☐ ☐ ☐
6 4 6	4 9 6	7 6 5

Escribe la descomposición del número

65408

6DM + 3 UM + 4 C+ 0 D + 8 U

60 000 + 3000 + 400 + 0 + 8

59021

__DM + __ UM + __ C+ __ D+ __U

_____ + _____+ _____ + ___+ ___

36401

__DM + __ UM + __ C+ __ D+ __U

_____ + _____+ _____ + ___+ ___

Celia Rodríguez Ruiz

Matemáticas. 3º Primaria **Repaso Primer Trimestre.**

Nombre: _____

Coloca los números y suma

2021+ 312+240=

3415+ 118+5104=

1089+ 12+213=

56+ 523+1450=

Multiplica

6X 10 =

7 X 20=

3 X 9=

9 X 7 =

8X 5=

6 X 9=

Celia Rodríguez Ruiz

Matemáticas. 3º Primaria **Repaso Primer Trimestre.**

Nombre: _____

En una bandada de golondrinas vuelan 385 golondrinas. En otra bandada vuelan 164 golondrinas menos. ¿Cuántas vuelan en la segunda bandada?

	Golondrinas
Bandada 1	
Bandada 2	

La Operación es

Resultado

En el vagón del metro hay 236 asientos. En la primera parada suben 58 personas. En la segunda se bajan 39 y suben 45. ¿Cuántos asientos quedan libres?

	Asientos
Suben 1	
Bajan	
Suben	

La Operación es

Resultado

Celia Rodríguez Ruiz

Matemáticas. 3º Primaria **Repaso Primer Trimestre.**

Nombre: _____

Tacha los números mayores que 321

322	300	350	334	348	340	302
345	312	314	349	357	303	319
301	368	327	338	353	315	329

Rodea en cada pareja el número mayor azul y el menor en verde

340 – 321	129 – 128	503 – 512
190 – 193	549 – 550	622 – 612
342 – 350	313 – 323	903 – 905

Calculo

300 – 80=	300 – 70=	300 – 60=	300 – 50=
30 – 8=	30 – 7=	30 – 4=	30 – 5=

Matemáticas. 3º Primaria Repaso Segundo Trimestre.

Nombre: _____

Multiplica y señala los factores y el producto

2 x 8 =	6 x 6 =
3 X 9 =	7 X 9 =
6 X 7 =	8 X 7 =
5 X 9 =	9X 9 =
4 X 7 =	3 X 7 =
9 X 4=	9 X 8=
8 X 5=	8 X 2=
4 X 6 =	4 X 3 =

Matemáticas. 3º Primaria **Repaso Segundo Trimestre.**

Nombre: _____

Completa la serie

1 C	2 C	3 C	4 C			7 C
100	200			500	600	

Álvaro camina todos los días 20 minutos.¿ Cuántos minutos caminará en una semana?

	minutos	La Operación es	
Cada día			
Días			

Resultado

Suma 22

12	34	56	78					188

Matemáticas. 3º Primaria **Repaso Segundo Trimestre.**

Nombre: _____

Un camión lleva 120 garrafas de 6 litros cada una.
¿Cuántos litros lleva en total?

Garrafas

Litros

La Operación es

Resultado

Completa

245	→	2 C 4 D y 5 U		→	5 C 3 D y 2 U
376	→	C D y U		→	7C 2 D y 8 U
409	→	C D y U	970	→	C D y U
538	→	C D y U		→	4 C 0 D y 3U
901	→	C D y U	765	→	C D y U

Matemáticas. 3º Primaria Repaso Segundo Trimestre.

Nombre: _____

Escribe el número anterior y posterior

	←	198	→			←	815	→	
	←	392	→			←	544	→	
	←	630	→			←	546	→	

Multiplicaciones

328	506	699	707
X 61	X 46	X 58	X 29

Matemáticas. 3º Primaria **Repaso Segundo Trimestre.**

Nombre: _____

Completa la serie

	−5	−4	−3	−2	−2	−5	−4
125	120						100

Escribe el signo mayor > o menor < según corresponda

458		498	126		106
286		268	329		345
290		299	656		758

Coloca y Multiplica

728 x 4

236 x 3

347 x 8

810 x 6

269 x 5

311 x 9

Matemáticas. 3º Primaria **Repaso Segundo Trimestre.**

Nombre: _____

Sumas

3218 4174 + 1395	8219 3346 + 3920	6047 1925 + 1738

En mi casa hay cinco estanterías con 123 libros cada una. ¿Cuántos libros hay en total?

Estanterías		La Operación es
Libros		

Resultado

Matemáticas. 3º Primaria **Repaso Segundo Trimestre.**

Nombre: _____

Restas

560 _ 127	374 _ 231	652 _ 198	835 _ 467

138 _129	651 _ 477	456 _ 179	546 _ 229

Completa la serie

	X2		+1		−2		−5		X3	
5										12

Matemáticas. 3º Primaria Repaso Segundo Trimestre.

Nombre: _____

He comprado 7 estuches de lápices de colores, en cada estuche hay 24 lápices. ¿Cuántos lápices tengo en total?

Estuches	
Lápices	

La Operación es

Resultado

En mi colegio hay 4 clases de tercero. Si en cada clase hay 32 niños y niñas. ¿Cuántos niños y niñas hay en

Clases	
Niños y niñas	

La Operación es

Resultado

Matemáticas. 3º Primaria Repaso Segundo Trimestre.

Nombre: _____

Calcula

El doble de 3	El triple de 7
El triple de 5	El doble de 23
El doble de 6	El triple de 6
El triple de 4	El doble de 15
El doble de 10	El triple de 10

Calcula el número

El triple de un número es 18 ¿Cuál es ese número?

El doble de un número es 20 ¿Cuál es ese número?

34 – 12=

5X9=

Matemáticas. 3º Primaria Repaso Segundo Trimestre.

Nombre: _____

Ana ha comprado dos paquetes de chicles de fresa, con 12 chicles cada uno y cuatro paquetes de 15 chicles de menta cada uno. ¿Cuántos chicles tiene en total?

Resultado

Si tengo 3 billetes de 5 euros y 8 monedas de 2 euros. ¿Cuánto dinero tengo en total?

Resultado

Matemáticas. 3º Primaria **Repaso Segundo Trimestre.**

Nombre: _____

Relaciona cada suma con su resta, como en el ejemplo

26+13=39 → 39 – 13= 26

32+21=		73 – 52=	
24+64=		99 – 61=	
52+21=		53 – 32=	
38+61=		88 – 64=	

Escribe los números que faltan

3 2 8 +5 ☐ 1	1 3 4 +5 1 ☐	2 1 3 + ☐ 3 ☐
8 6 9	6 4 6	3 4 5
2 1 4 + ☐ 1 2	2 2 6 +3 ☐ ☐	5 4 2 + ☐ ☐ ☐
4 2 6	5 8 7	8 5 6

Matemáticas. 3º Primaria **Repaso Segundo Trimestre.**

Nombre: _____

Divide y haz la prueba de la división

9 5 | 2

1 5 4 7

1

1 8 5 | 3

6 4 9 | 8

3 2 6 | 7

47 X 2 = 94

94 +1 = 95

12: 6 =

15 : 3 =

María reparte 25 caramelos entre 5 niños. ¿Cuántos caramelos le corresponden a cada uno?

Tengo 50 canicas para repartir en 6 bolsas. ¿Cuántas canicas puedo meter en cada bolsa? ¿Me sobra alguna canica?

Matemáticas. 3º Primaria **Repaso Segundo Trimestre.**

Nombre: _____

Coloca los números y haz las operaciones

273+ 142+24=

345 X 321

189 : 12

95678 : 4

Multiplica

8X 10 =

7 X 10=

9 X 6 =

7 X 5 =

5X 8=

6 X 7=

Matemáticas. 3º Primaria Repaso Segundo Trimestre.

Nombre: _____

Calcula

La mitad de 18

La mitad de 20

Un tercio de 15

La mitad de 30

Un tercio de 21

Un tercio de 36

La mitad de 6

La mitad de 40

Un tercio 27

La mitad de 12

Calcula el número

4 es la mitad de un número. ¿Cuál es ese número?

6 Es la mitad de un número ¿Cuál es ese número?

34 – 22=

15X9=

Matemáticas. 3º Primaria Repaso Segundo Trimestre.

Nombre: _____

Tengo 232 peces y los quiero repartir en dos peceras. ¿Cuántos peces tendré que poner en cada pecera?

Resultado

Escribe los números y relaciónalos

Mil doscientos tres		1DM+2UM+8C+2D+0U
Cuarenta mil ciento dos		5DM+3UM+3C+1D+2U
Cincuenta y tres mil trescientos doce		1UM+2C+0D+3U
Cuatro mil cuarenta y nueve		4DM+0UM+1C+0D+2U
Doce mil ochocientos veinte		4UM+0C+4D+9U

Matemáticas. 3º Primaria **Repaso Segundo Trimestre.**

Nombre: _____

En una clase hay 24 niños y niñas. Sí la mitad de ellos son morenos y los demás rubios. ¿cuántos son rubios y cuántos son morenos?

Resultado

En una granja hay 6 perros, el número de gatos es el doble que el de perros. Y el número de patos es la mitad que el número de perros y gatos juntos. ¿Cuántos gatos hay? ¿Cuántos patos hay?

Resultado

Matemáticas. 3º Primaria **Repaso Segundo Trimestre.**

Nombre: _____

Divide y haz la prueba de la división

9 5 | 2

1 5 4 7

1

47 X 2 = 94

94 +1 = 95

4 9 5 3 | 3

8 4 3 5 9 | 8

6 5 9 3 1 | 7

121: 6 =

18: 3 =

Matemáticas. 3º Primaria **Repaso Segundo Trimestre.**

Nombre: _____

Si tengo 346 canicas y las quiero repartir entre mis 5 amigos. ¿Cuántas canicas le corresponden a cada uno?

Resultado

Un señor tiene 658 euros y los quiere repartir entre sus tres hijos. ¿Cuántos euros le tiene que dar a cada uno?

Resultado

Matemáticas. 3º Primaria **Repaso Segundo Trimestre.**

Nombre: _____

Sumas

3054 3342 + 1087	8200 3126 + 2880	6041 3201 + 2253	5432 5998 + 7560

Un barco ha pescado 234 atunes, otro barco pesca 46 atunes menos que el primero. ¿Cuántos atunes han pescado en total? Luego tienen que repartir los atunes en 5 tiendas. ¿Cuántos atunes le corresponde a cada tienda?

Resultado

Matemáticas. 3º Primaria Repaso Segundo Trimestre.

Nombre: _____

Completa las frases

Un polígono de 4 lados se llama

Un polígono de 5 lados se llama

Un polígono de 6 lados se llama

Un polígono de 3 lados se llama

Señala los lados, vértices y ángulos de las siguientes figuras

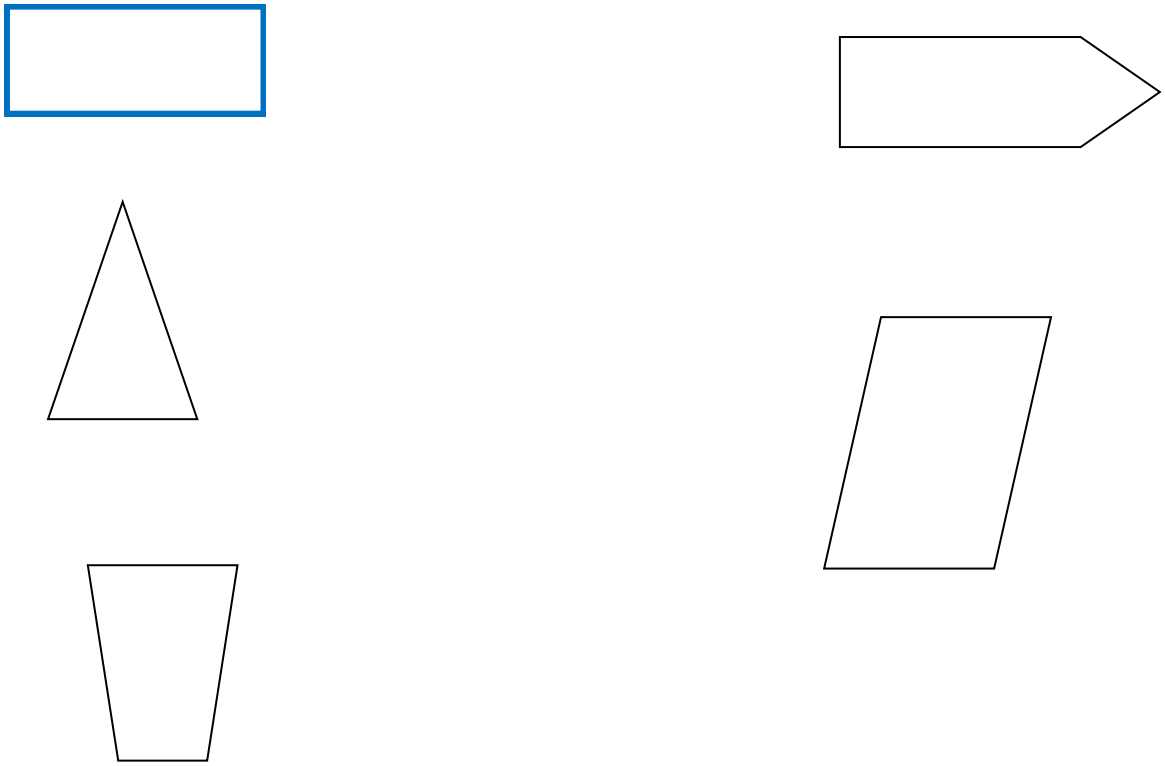

Matemáticas. 3º Primaria Repaso Segundo Trimestre.

Nombre: _____

Completa las frases

Un triangulo equilátero tiene

Un triangulo isósceles tiene

Un triangulo escaleno tiene

Dibuja un triangulo equilátero, uno isósceles y uno escaleno.

Matemáticas. 3º Primaria **Repaso Segundo Trimestre.**

Nombre: _____

Escribe el nombre de cada parte de la circunferencia donde corresponda

Centro- Radio Diámetro

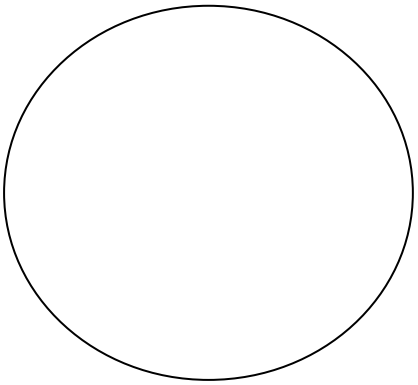

¿Qué figuras son circunferencias y cuales círculos?

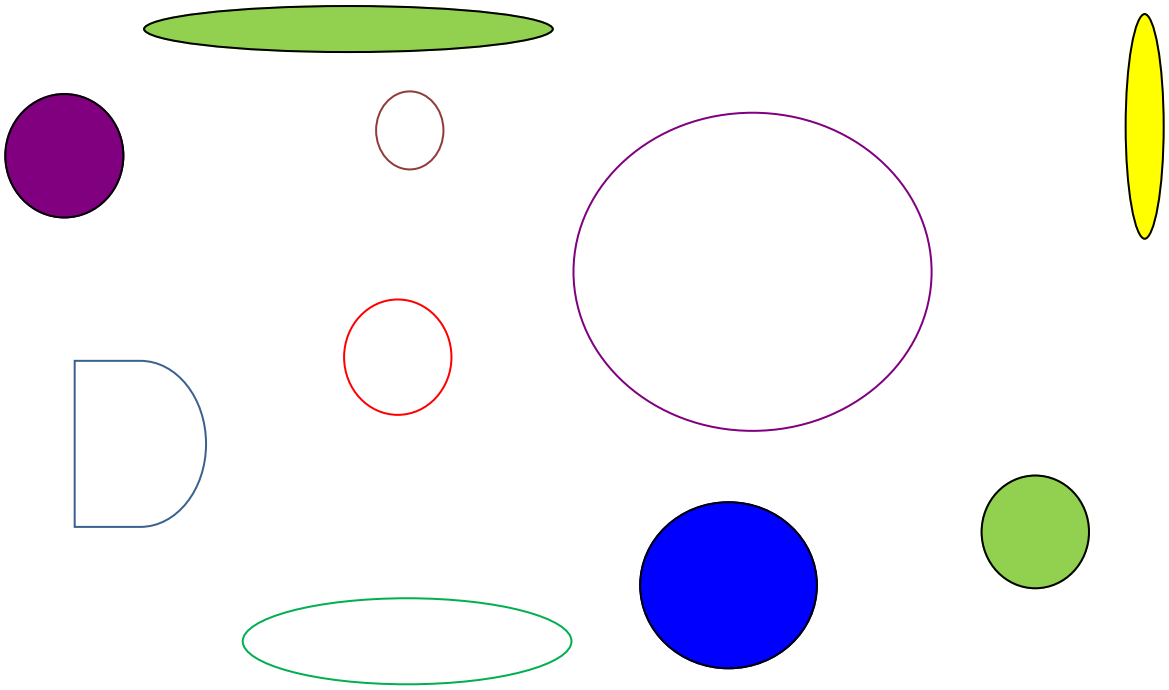

Matemáticas. 3º Primaria **Repaso Segundo Trimestre.**

Nombre: _____

Divide y haz la prueba de la división

9 5 | 2

1 5 4 7

1

47 X 2 = 94

94 +1 = 95

6 5 0 9 3 | 1 2

9 5 6 3 2 | 4 3

6 5 9 3 1 | 3 2

Matemáticas. 3º Primaria Repaso Segundo Trimestre.

Nombre: _____

Tengo 3 paquetes con 18 piruletas cada uno y 5 bolsas de 24 caramelos cada una. Si quiero repartir las piruletas y los caramelos entre mis 12 amigos, ¿Cuántas piruletas y caramelos podré dar a cada uno?

Resultado

Lucía tiene dos paquetes de 12 cromos cada uno, y tres paquetes con 23 pegatinas cada uno. Si quiere repartir los cromos y las pegatinas en 5 álbumes. ¿Cuántos cromos y pegatinas pondrá en cada uno?

Resultado

Matemáticas. 3º Primaria **Repaso Segundo Trimestre.**

Nombre: _____

Escribe el valor de la cifra 3 en cada caso

3871 →	_____unidades	5432 →	_____unidades
7003 →	_____unidades	5342 →	_____unidades
1342 →	_____unidades	1293 →	_____unidades

Relaciona cada suma con su resta, como en el ejemplo

13+13=26 → 26 – 13= 13

48+12=		96 – 24=	
65+15=		50 – 12=	
72+24=		80 – 30=	
30+50=		70 – 15=	

Rodea los números que tienen 5 centenas

543 2530 315 435 3542 4500

5240 125 652 540 5130 345 5035

351 495 6353 2035 549 542

512

Matemáticas. 3º Primaria **Repaso Segundo Trimestre.**

Nombre: _____

Escribe los números que faltan

4 5 6 +2 ☐ 3	4 5 6 +5 6 ☐	4 2 0 + ☐ 5 ☐
6 8 9	10 1 8	8 7 6
5 1 2 + ☐ 3 4	1 3 2 +3 ☐ ☐	6 2 1 + ☐ ☐ ☐
6 4 6	4 9 6	7 6 5

Realiza las divisiones

65408 : 18

59021 : 34

36401 : 22

Matemáticas. 3º Primaria **Repaso Segundo Trimestre.**

Nombre: _____

Coloca los números y suma

2021+ 312+240=

31415 –1094=

1089 X 3452

26278 : 62

Multiplica

6X 10 =

7 X 20=

3 X 9=

9 X 7 =

8X 5=

6 X 9=

Matemáticas. 3º Primaria Repaso Segundo Trimestre.

Nombre: _____

En una bandada de golondrinas vuelan 385 golondrinas. En otra bandada vuelan 164 golondrinas menos. ¿Cuántas vuelan en la segunda bandada?

Resultado

En el vagón del metro hay 236 asientos. En la primera parada suben 58 personas. En la segunda se bajan 39 y suben 45. ¿Cuántos asientos quedan libres?

Resultado

Matemáticas. 3º Primaria **Repaso Segundo Trimestre.**

Nombre: _____

Divide y haz la prueba de la división

9 5 | 2

1 5 4 7

1

47 X 2 = 94

94 +1 = 95

5 4 7 0 5 | 3 2

8 2 0 4 6 | 4 5

2 9 1 3 7 | 2 9

Matemáticas. 3º Primaria Repaso Tercer Trimestre.

Nombre: _____

Mide las líneas y escribe su longitud en cm.



Expresa en cm.

3 dm	12 dm
6 dm	31 dm
5 dm	7 dm
8 dm	9 dm

Matemáticas. 3º Primaria **Repaso Tercer Trimestre.**

Nombre: _____

Expresa en dm.

20 cm	30 cm
60 cm	50 cm
40 cm	70 cm
10 cm	90 cm

María tiene un lazo amarillo de 3 dm y 4 cm y otro lazo azul de 42 cm. ¿Cuántos cm de lazo tiene en total?

Resultado

Suma 22

12	34	56	78					188

Matemáticas. 3º Primaria **Repaso Tercer Trimestre.**

Nombre: _____

Alberto tiene una tabla que mide 4 dm y 5 cm de largo. El ancho de la tabla es 18 cm menos. ¿cuánto mide el ancho de la tabla?

Resultado

Completa

245	→	2 C 4 D y 5 U		→	5 C 3 D y 2 U
376	→	C D y U		→	7C 2 D y 8 U
409	→	C D y U	970	→	C D y U
538	→	C D y U		→	4 C 0 D y 3U
901	→	C D y U	765	→	C D y U

Matemáticas. 3º Primaria Repaso Tercer Trimestre.

Nombre: _____

Expresa en cm.

3 dm y 2 cm	1 dm y 6 cm
6 dm y 4 cm	2 dm y 9 cm
5 dm y 8 cm	7 dm y 8 cm
8 dm y 7 cm	9 dm y 1 cm

Multiplicaciones

2218 X 361	5064 X 369	9082 X 482	7154 X 254

Matemáticas. 3º Primaria **Repaso Tercer Trimestre.**

Nombre: _____

Completa la serie

	−5		−4		−3		−2		−2		−5		−4	
125		120												100

Expresa en dm y cm.

28 cm	15 cm
65 cm	26 cm
55 cm	74 cm
81 cm	91 cm

Coloca y Multiplica

834 x 443	322 x 543
554 x 807	910 x 632
986 x 543	541 x 932

Matemáticas. 3º Primaria **Repaso Tercer Trimestre.**

Nombre: _____

Expresa en m.

200 cm	30 dm
60 dm	500 cm
40 dm	70 dm
100 cm	900 cm

Expresa en dm.

5 m	7 m
8 m	6 m
2 m	4 m
1m	9 m

Expresa en cm.

8 m	9 m
6 m	5 m
3 m	2 m
10 m	5 m

Laura mide 1 metro y 20 cm. Su prima Susana mide 9 cm más ¿Cuántos cm mide Susana?

Resultado

Matemáticas. 3º Primaria **Repaso Tercer Trimestre.**

Nombre: _____

Expresa en cm

2 m y 8 cm	3 m y 9 cm
6m y 2 dm	5 m y 5 dm
4 m , 3 dm y 5 cm	7 m 4 dm y 6 cm
1m 2 dm y 6 cm	9m 2 dm y 1 cm

¿En qué unidad expresarías cada longitud?

La longitud de un lápiz

El grosor de un libro

La altura de una persona

El largo de un coche

La distancia entre dos ciudades

Completa la serie

	X2		+1		−2		−5		X3	
5										12

Matemáticas. 3º Primaria Repaso Tercer Trimestre.

Nombre: _____

Mi clase mide 3 m y 4 dm de largo y de ancho mide 2 m y 85 cm. ¿Cuántos cm mide más de largo que de ancho?

Resultado

Paula ha recorrido 3 km y 60 m. Su hermano Juan ha recorrido 500 metros menos. ¿Cuántos metros ha recorrido cada uno?

Resultado

Matemáticas. 3º Primaria Repaso Tercer Trimestre.

Nombre: _____

Expresa en metros

2 km	3 km
6km	5 km
4 km	7 km
1 km	9 km

Expresa en Km.

1000m	9000 m
4000 m	6000 m
8000 m	5000 m
3000 m	20 000 m

Expresa en metros

6 km y 345 m	1 km y 312 m
5 km y 142 m	8 km y 754 m
2 km y 690 m	4 Km y 430 m
8 km y 430 m	9 km y 620 m

Expresa en Kilómetros y metros.

4590 metros	2197 metros
3215 metros	8056 metros
5609 metros	7430 metros
3876 metros	9438 metros

Matemáticas. 3º Primaria Repaso Tercer Trimestre.

Nombre: _____

En la tienda hay 96 cartones de 1 litro de leche y 58 cartones de medio litro. ¿Cuántos litros de leche hay en total?

Resultado

Cada día , Sandra se toma un cuarto de litro de zumo. En 7 días ¿cuántos litros de zumo se habrá tomado?

Resultado

Matemáticas. 3º Primaria **Repaso Tercer Trimestre.**

Nombre: _____

Colorea las equivalencias correctas

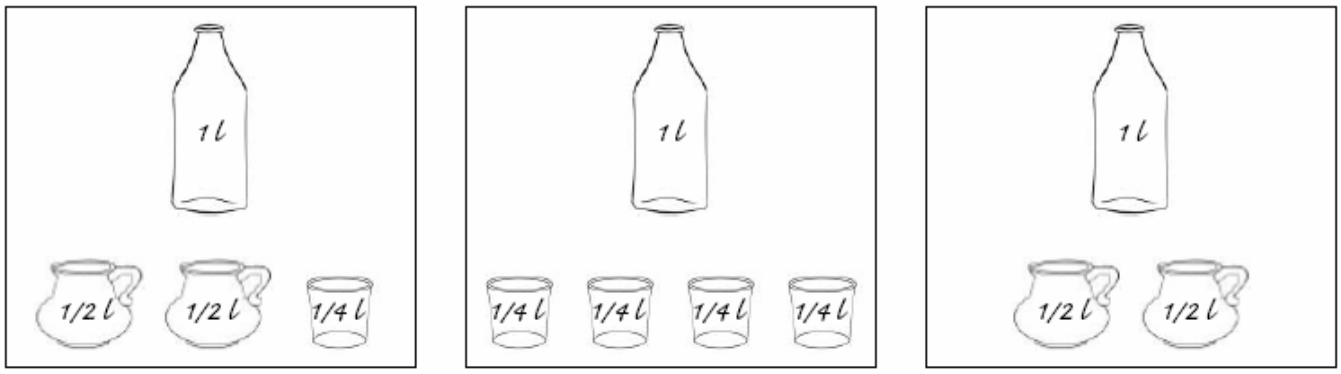

Observa las equivalencias y completa

1kg = 1/2 Kg 1/2 Kg

1kg = 1/4 Kg 1/4 Kg 1/4 Kg 1/4 Kg

1/2 Kg 1/2 Kg 1/2 Kg 1/2 Kg = ____kg

1/2 Kg 1/2 Kg 1/2 Kg 1/2 Kg 1/2 Kg 1/2 Kg = ____kg

1/4 Kg 1/4 Kg 1/4 Kg 1/4 Kg 1/4 Kg 1/4 Kg 1/4 Kg 1/4 Kg = ____kg

Matemáticas. 3º Primaria Repaso Tercer Trimestre.

Nombre: _____

Expresa en gramos

5 kg	3 kg
6 kg	5 kg
4 kg	7 kg
1 kg	9 kg

Expresa en Kg

1000 g	9000 g
4000 g	6000 g
8000 g	5000 g
3000 g	20 000 g

Expresa en gramos

8 kg y 450 g	9 kg y 234 g
5 kg y 320 g	6 kg y 754 g
2 kg y 600 g	3 Kg y 378 g
8 kg y 150 g	1 kg y 309 g

Expresa en Kilógramos y gramos.

9013 gramos	2976gramos
4561 gramos	5614 gramos
2985 gramos	6221 gramos
8912 gramos	3456 gramos

Ana compra 1 cuarto de kilo de manzanas por 2 euros. ¿Cuánto costarán 3 kg de manzanas?

Isabel tiene una caja con 3 kg y 400 gramos de galletas y tiene otra caja con 2 kg y medio de rosquillas. ¿Cuántos gramos pesan más las galletas que las rosquillas?

Matemáticas. 3º Primaria **Repaso Tercer Trimestre.**

Nombre: _____

Coloca los números y haz las operaciones

3293+ 1442+5938=	5412 X 854
3497 : 43	95678 : 56

Dibuja las agujas y escribe la hora que corresponde

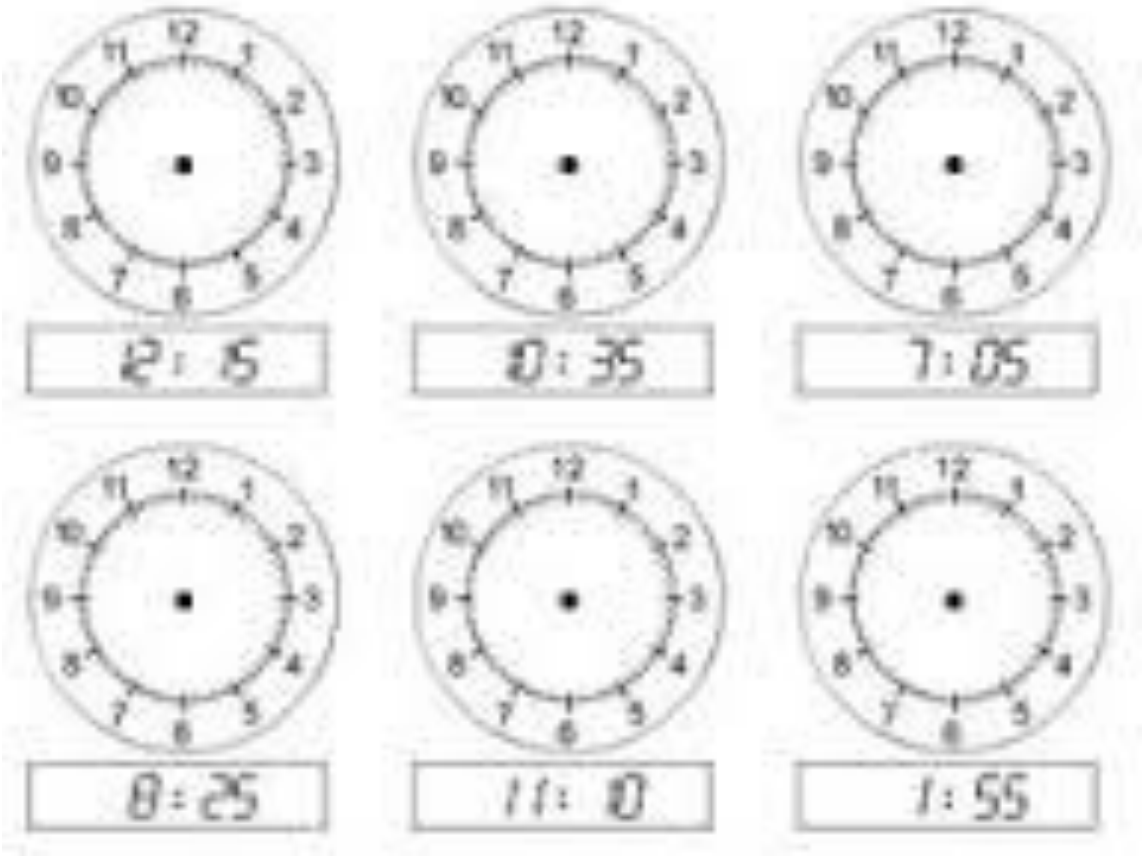

Matemáticas. 3º Primaria Repaso Tercer Trimestre.

Nombre: _____

Escribe la hora que corresponde



34 – 22=

15X9=

Matemáticas. 3º Primaria Repaso Tercer Trimestre.

Nombre: _____

Ayer estuve estudiando durante 45 minutos y hoy he estudiado durante 1 hora y media. ¿Cuántos minutos he estado estudiando en total?

Resultado

¿Cuántos minutos son?

3 horas	*2 horas y tres cuartos*
2 horas y cuarto	*1 hora y cuarto*
1 hora y media	*2 horas y media*
5 horas	*1 hora y tres cuartos*

Calcula

452 X 3	*452 – 310*

Matemáticas. 3º Primaria **Repaso Tercer Trimestre.**

Nombre: _____

He ido al cine, la película empezó a las 16:15. si la película duró dos horas y cuarto. ¿A qué hora termino la película?

Resultado

Álvaro va a clases de taekwondo . Si empieza la clase a las 17:30 y termina a las 19:00 ¿cuánto tiempo dura la clase?

Resultado

Matemáticas. 3º Primaria Repaso Tercer Trimestre.

Nombre: _____

Expresa en euros

5 euros y 50 céntimos	3 euros y 34 céntimos
6 euros y 25 céntimos	5 euros y 27 céntimos
4 euros y 90 céntimos	7 euros y 30 céntimos
1 euro y 43 céntimos	9 euros y 14 céntimos

Expresa en cénitmos

1 ´34 euros	9 ´65 euros
4 ´90 euros	6 ´86 euros
8 ´35 euros	5 ´55 euros
3 ´25 euros	2 ´40 euros

Calcula el perímetro de cada polígono

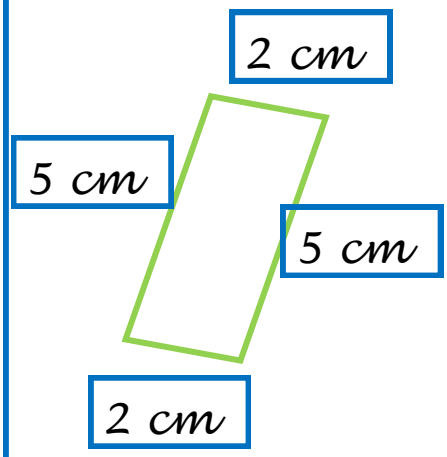

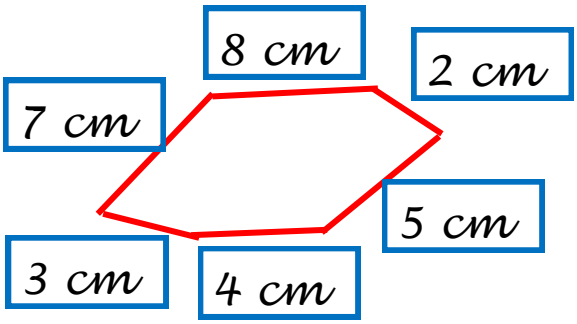

Matemáticas. 3º Primaria **Repaso Tercer Trimestre.**

Nombre: _____

Mide y calcula el perímetro de cada polígono

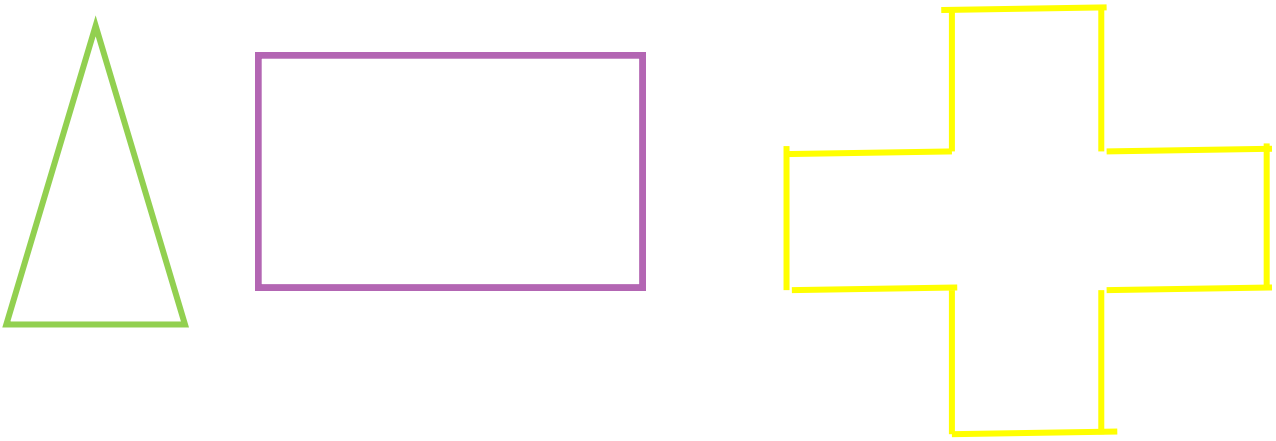

Cuenta los cuadraditos que tiene cada figura y averigua el área de cada una de ellas.

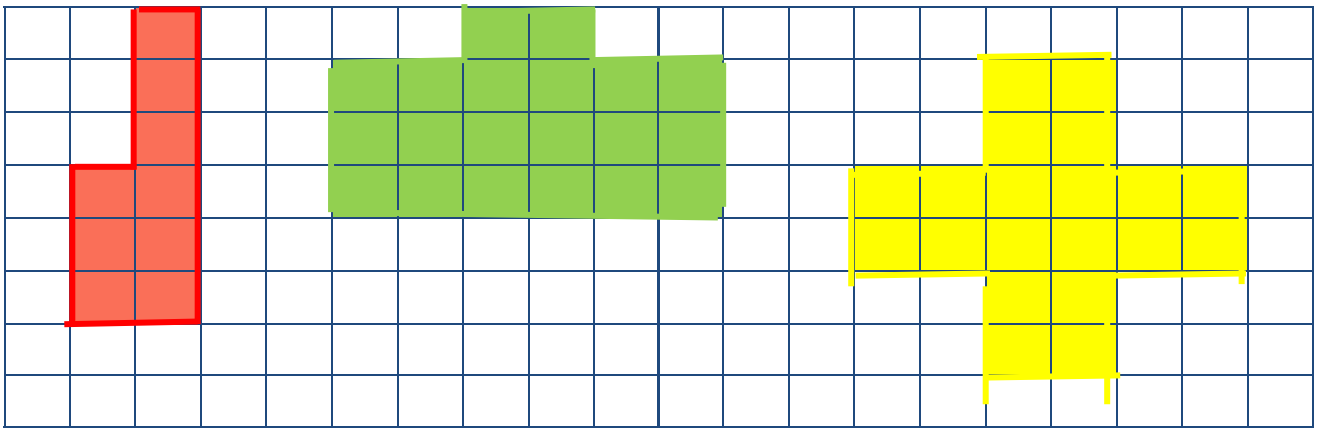

Resultado

Matemáticas. 3º Primaria Repaso Tercer Trimestre.

Nombre: _____

Dibuja en la cuadrícula:

- *Un polígono cuya área sea de 8 cuadraditos*
- *Un polígono cuya área sea de 15 cuadraditos*

Dibuja dos parejas de figuras simétricas

Matemáticas. 3º Primaria Repaso Tercer Trimestre.

Nombre: _____

Escribe el nombre de cada figura y señala: las bases, las caras laterales y los vértices.

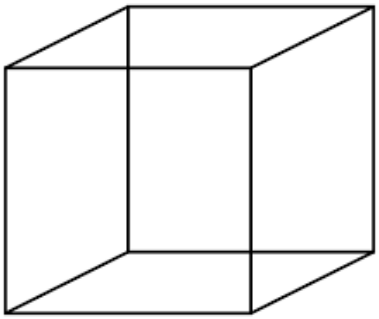

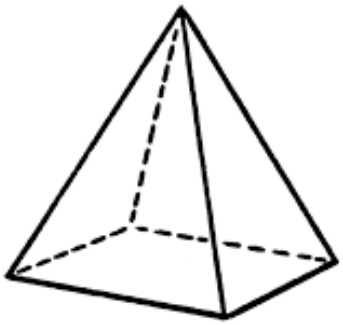

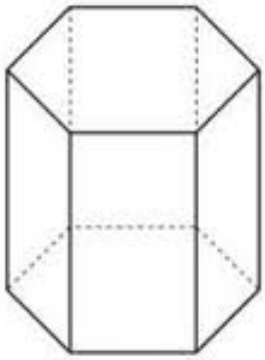

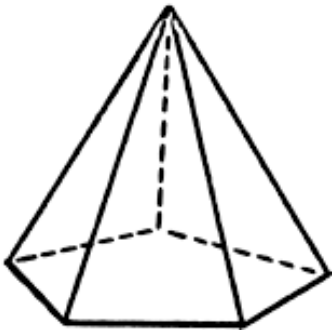

Matemáticas. 3º Primaria Repaso Tercer Trimestre.

Nombre: _____

Dibuja

Un prisma triangular

Una pirámide cuadrangular

Un prisma pentagonal.

Matemáticas. 3º Primaria **Repaso Tercer Trimestre.**

Nombre: _____

Escribe el nombre de cada figura y señala sus elementos

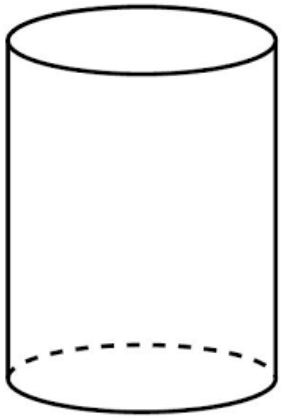

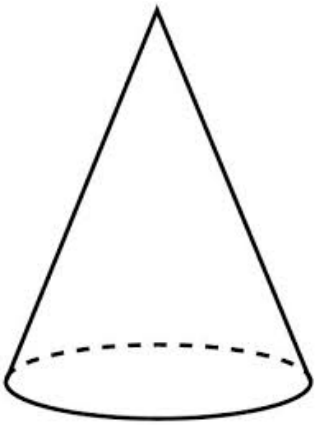

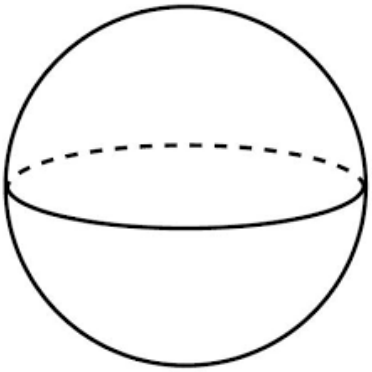

Matemáticas. 3º Primaria **Repaso Tercer Trimestre.**

Nombre: _____

Coloca los números y calcula

5231+ 4430 + 3287=

7908+ 1629+ 8560=

9192 – 1643=

6204 – 3978=

3445 X 3432 =

2194 X 3455 =

7659 X 4321=

3468 X 6329 =

4387 : 27=

56091 : 35 =

98732 : 62 =

65432: 29 =

Matemáticas. 3º Primaria Repaso Tercer Trimestre.

Nombre: _____

Tengo 3 paquetes con 18 piruletas cada uno. Cada paquete me cuesta 3,45 euros. Si cada piruleta por separado me cuesta 25 céntimos. ¿Cuántos céntimos cuesta cada cosa?

Resultado

Lucía tiene dos paquetes de 12 cromos cada uno, y tres paquetes con 23 pegatinas cada uno. Si quiere repartir los cromos y las pegatinas en 5 álbumes. ¿Cuántos cromos y pegatinas pondrá en cada uno?

Resultado

Matemáticas. 3º Primaria **Repaso Tercer Trimestre.**

Nombre: _____

Escribe el valor de la cifra 3 en cada caso

3871 →	_____unidades	5432 →	_____unidades
7003 →	_____unidades	5342 →	_____unidades
1342 →	_____unidades	1293 →	_____unidades

Relaciona cada suma con su resta, como en el ejemplo

13+13=26 → 26 – 13= 13

48+12=		96 – 24=	
65+15=		50 – 12=	
72+24=		80 – 30=	
30+50=		70 – 15=	

Rodea los números que tienen 5 centenas

543 2530 315 435 3542 4500

5240 125 652 540 5130 345 5035

351 495 512 6353 2035 549 542

Matemáticas. 3º Primaria **Repaso Tercer Trimestre.**

Nombre: _____

Observa los precios y responde a las preguntas

45

99



25

19



34

Laura se ha gastado 143 euros ¿Qué se ha comprado?

Carlos se ha gastado 79 euros ¿Qué se ha comprado?

Escribe la descomposición del número

510302

5CM + 1 DM + 0 UM +3 C+ 0 D + 2 U

500.000 + 10.000+ 0 + 300+ 0 + 2

658.922

Matemáticas. 3º Primaria **Repaso Tercer Trimestre.**

Nombre: _____

Realiza las operaciones como en el ejemplo

4 X (2+ 5) → 4 X 7= 28

4 X (2+ 5) → 4 X 2 + 4 X5 = 8 + 20 = 28

6 X (5+ 3) →

6 X (5+ 3) →

8 X (4+ 6) →

8 X (4+ 6) →

5 X (9+ 3) →

5 X (9+ 3) →

Indica que propiedades de la multiplicación se han aplicado en los siguientes casos y resuelve

5 X (2 X 6) = (5X2) X6

8 X 6 = 6X8

Matemáticas. 3º Primaria Repaso Tercer Trimestre.

Nombre: _____

Un ciclista recorre 8 km y 500 metros en la primera etapa. En la segunda recorre 1 km y 200 metros menos que en la primera. ¿cuántos metros ha recorrido en total?

Resultado

En el vagón del metro hay 236 asientos. En la primera parada suben 58 personas. En la segunda se bajan 39 y suben 45. ¿Cuántos asientos quedan libres?

Resultado

Matemáticas. 3º Primaria **Repaso Tercer Trimestre.**

Nombre: _____

Completa

4 g = _____dg= _____cg= _____ mg

5 g= _____dg= _____cg= _____ mg

20 g= _____dg= _____cg= _____ mg

500cg= _____ g

800cg= _____ g

Expresa en gramos

60dg= _____ g

430 cg= _____ g

100cg= _____ g

7500mg= _____g

7000mg= _____ g

57dg= _____ g

55dg= _____ g

510cg= _____ g