Elementos geométricos

1. Lee cada situación y encierra Sí, si la afirmación es correcta y No, si es incorrecta. Luego, completa justificando tu respuesta.

a.

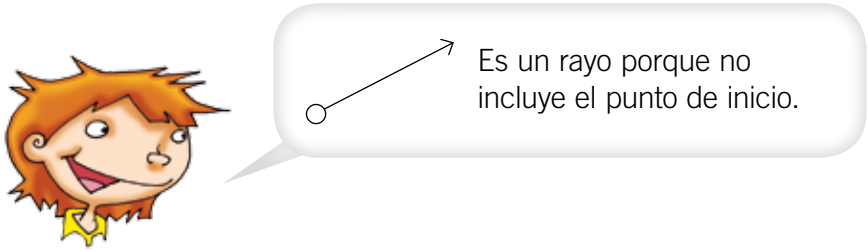

Sí No , porque _____

_____.

b.

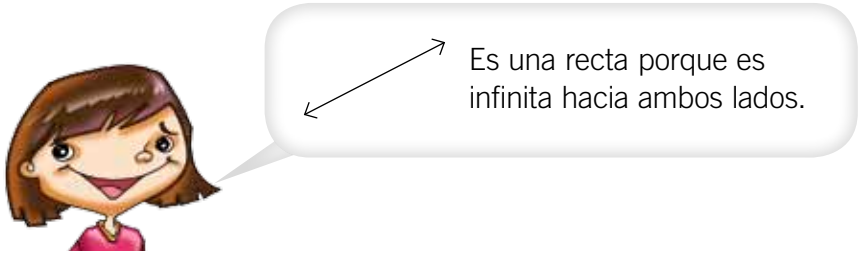

Sí No , porque _____

_____.

c.

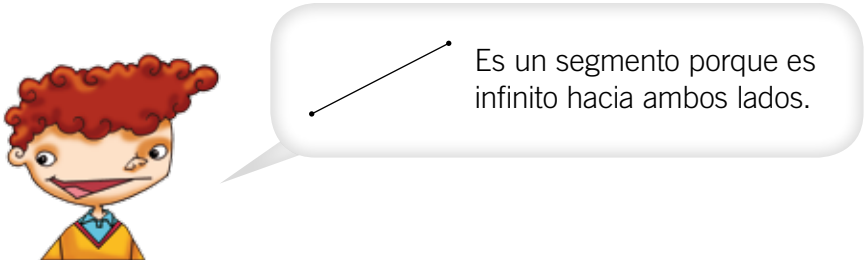

Sí No , porque _____

_____.

¿Qué es un ángulo?

2. Marca un ángulo en cada objeto.

a.

b.

3. Analiza cada dibujo y determina si se representa un ángulo. Luego, justifica tu respuesta.

a.

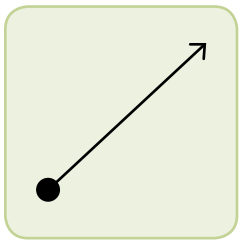

Sí No

, porque _____

_____

_____

_____.

b.

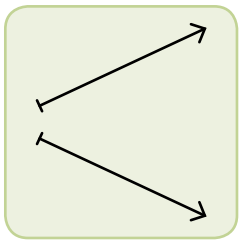

Sí No

, porque _____

_____

_____

_____.

c.

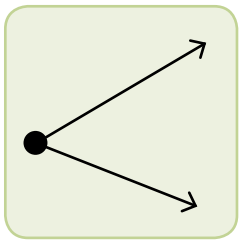

Sí No

, porque _____

_____

_____

_____.

Medidas de ángulos

4. Marca con un ✔ la situación en la cual se represente un ángulo que mida 90º.

a.

c.

b.

d.

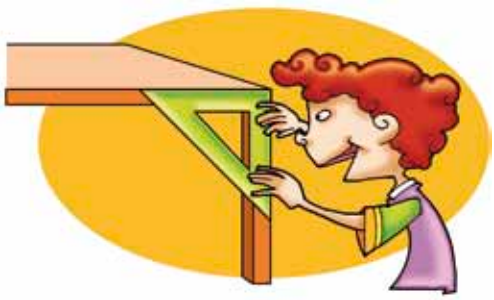

5. Dibuja un objeto en el cual identifiques un ángulo que mida aproximadamente 45º. Márcalo.

Estimación de medidas de ángulos

6. Estima la medida de los ángulos marcados en cada objeto y escríbela en el ☐.

a.

Medida estimada ▶ ☐

d.



Medida estimada ▶ ☐

b.

Medida estimada ▶ ☐

e.

Medida estimada ▶ ☐

c.

Medida estimada ▶ ☐

f.



Medida estimada ▶ ☐